امتحان تجريبي خامس مع نموذج الإجابة من سلسلة الإبحار

تم تحميل هذا الملف من موقع المناهج العمانية	
موقع فايلاتي ⇦ المناهج العمانية ⇦ الصف الثاني عشر ⇦ اجتماعيات ⇦ الفصل الأول ⇦ ملفات متنوعة ⇦ الملف	
تاريخ إضافة الملف على موقع المناهج: 01-12-2025 13:32:59	
ملفات ا كتب للمعلم ا كتب للطالب ا اختبارات الكترونية ا اختبارات ا حلول ا عروض بوربوينت ا أوراق عمل منهج انجليزي ا ملخصات وتقارير ا مذكرات وبنوك ا الامتحان النهائي ا للمدرس	المزيد من مادة اجتماعيات:
إعداد: محمد إسماعيل عبدالله البلوشي	

التواصل الاجتماعي بحسب الصف الثاني عشر					
صفحة المناهج العمانية على فيسبوك					

المزيد من الملفات بحسب الصف الثاني عشر والمادة اجتماعيات في الفصل الأول	
امتحان تجريبي رابع مع نموذج الإجابة من سلسلة الإبحار	1
امتحان تجريبي ثالث مع نموذج الإجابة من سلسة الإبحار	2
امتحان تجريبي ثاني مع نموذج الإجابة من سلسلة الإبحار	3
امتحان تجريبي أول مع نموذج الإجابة من سلسلة الإبحار	4
أرقام ورموز مهمة في كتاب العالم من حولي	5

إهداء
إلى روح أبي، الذي كان مينائي الآمن حين تعصف الرياح،
وبوصلتي التي دلّتني على طريق المعرفة.
أهدي هذا الكتاب إلى من رحل جسدًا، وبقي أثره
يضيء دروبي كنجمةٍ لا تنطفئ فوق بحرٍ واسع.
لقد علّمتني يا أبي أن الإبحار في العلم ليس هروبًا من
الواقع، بل سعيٌ إلى فهمه، وأن كل موجةٍ تحمل درسًا،
وكل شاطئٍ يفتح أفقًا جديدًا.
فليكن هذا العمل امتدادًا لرحلتك، ووفاءً لعطائك،
وصدقةً جاريةً تظلّ تكتب اسمك في سجلّ النور.

الاختبار التجريبي رقم (٥) للعام الدراسي ٢٠٢٥/ ٢٠٢٦م

إهداء لمعلمي الدراسات الاجتماعية ولطلبة
الثاني عشر دفعة ٢٠٢٦م

في حالة النشر في المنصات
والمواقع الإلكترونية أتمنى ذكر اسم
معد الاختبار احتراماً لجهد الآخرين

هذا الملف من الملفات التي تنشر في
مجموعات الواتساب الاتية:
1 ـ كتاب الإبحار إلى الدراسات
الاجتماعية **"لطلبة الثاني عشر"**
2 ـ كتاب الإبحار على الدراسات
الاجتماعية **"لمعلمي الدراسات**
الاجتماعية للصفوف من 10 ـ 12"
3 ـ جروب مجموعة مواد الدراسات
الاجتماعية بمدرسة نعيم بن مسعود
الانضمام للجروب التواصل:
77128502

محتويات كتاب
الإبحار إلى
الدراسات
الاجتماعية
٢٩٩صفحة

٣,٨ ريال

للحصول على
الكتاب
٧٧١٢٨٥٠٢

الإبحار إلى الدراسات الاجتماعية
للحصول على نسخة كاملة من الإبحار إلى الدراسات الاجتماعية 77128502

الاختبار التجريبي رقم (٥) مادة الدراسات الاجتماعية الفصل الدراسي الأول العام الدراسي ٢٠٢٥/ ٢٠٢٦م
إعداد/ محمد إسماعيل عبدالله البلوشي ـ معلم أول مادة تاريخ ـ مدرسة نعيم بن مسعود / صحار

سلطنة عُمان
وزارة التربية والتعليم

إهداء لروح أبي الحاج/ إسماعيل بن عبدالله بن عمر البلوشي أتمنى منكم الدعاء له بالرحمة والمغفرة

امتحـان تجريبي (٥) مادة: الدراسات الاجتماعية (هذا وطني)

للصف: الثاني عشر

للعام الدراسي ١٤٤٦/١٤٤٧هـ - ٢٠٢٥/٢٠٢٦م

الفصل الدراسي الأول

- **زمن الامتحان: (ثلاث ساعات)**
- **عدد صفحات أسئلة الامتحان: (١٢)**
- **الإجابة في الدفتر نفسه.**

اسم الطالب			
المدرسة	**نعيم بن مسعود للتعليم الأساسي١٠ـ١٢**	**الصف**	**١٢/ .....**

السؤال	**الدرجة**		**التوقيع بالاسم**	
	بالأرقام	**بالحروف**	**المصحح الأول**	**المصحح الثاني**
١ ـ ١٤				
١٥				
١٦				
١٧				
١٨				
١٩				
٢٠				
٢١				
المجموع			**جمعه**	**مراجعة الجمع**
المجموع الكلي				

للحصول على نسخة كاملة من كتاب "الإبحار إلى الدراسات الاجتماعية" 77128502

أجب عن جميع الأسئلة الآتية

أولاً: الأسئلة الموضوعية

ظلل الشكل◇ المقترن بالإجابة الصحيحة لكل مفردة من المفردات الآتية:

١) الجدول الصحيح الذي يمثل بعض ورادت عُمان من السلع في العصر النبهاني:

◇

المنطقة الجغرافية (الموقع)	السلع
الهند	التوابل، وخشب الساج، والأرز
شرق إفريقيا	العاج، والخشب، والعنبر، والجلود
الصين	الحرير

◇

المنطقة الجغرافية (الموقع)	السلع
الهند	العاج، والخشب، والعنبر، والجلود
شرق إفريقيا	التوابل، وخشب الساج، والأرز
الصين	الحرير

◇

المنطقة الجغرافية (الموقع)	السلع
الهند	الحرير
شرق إفريقيا	العاج، والخشب، والعنبر، والجلود
الصين	التوابل، وخشب الساج، والأرز

◇

المنطقة الجغرافية (الموقع)	السلع
الهند	العاج، والخشب، والعنبر، والجلود
شرق إفريقيا	الحرير
الصين	التوابل، وخشب الساج، والأرز

٢) الرقم الذي يشير إلى حصن للبرتغاليين يقع على الساحل الغربي للهند:

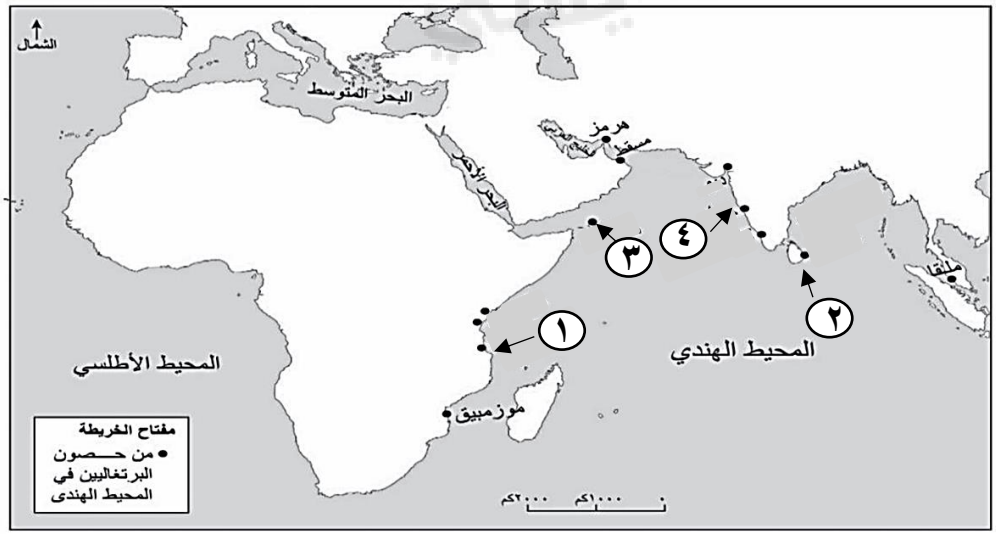

◇ ١ ◇ ٢ ◇ ٣ ◇ ٤

يتبع/٢

للحصول على نسخة كاملة من كتاب "الإبحار إلى الدراسات الاجتماعية" 77128502

تابع أولاً: الأسئلة الموضوعية

٣) المجال الذي تنتمي إليه جميع الأمثلة على أهمية التنوع الاحيائي في سلطنة عُمان:

ـ تنوع الثروات الطبيعية (الحيوانية، النباتية، والمائية).
ـ تعدد المهن والحرف.
ـ مقومات السياحة البيئية.

◇ الطبي

◇ الزراعي

◇ الاقتصادي

◇ البيئي

٤) الرمز الذي يشير إلى المحافظة التي ولد فيها السلطان هيثم بن طارق المعظم:

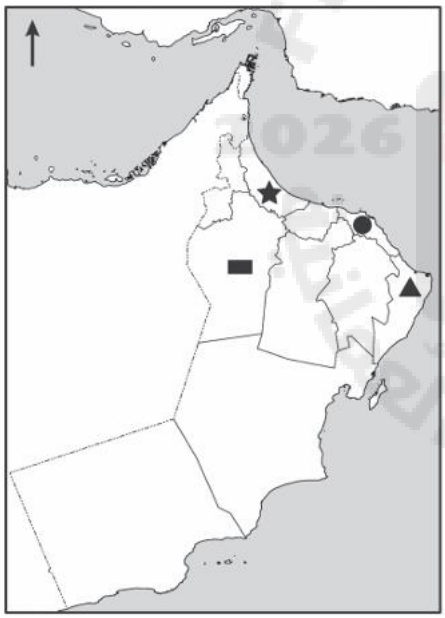

◇ ▲

◇ ★

◇ ▬

◇ ●

٥) الوالي المعين على جلفار في عهد الإمام ناصر بن مرشد اليعربي:

◇ علي بن أحمد النزوي ◇ عبدالله بن محمد العنبوري

◇ ناصر بن عبدالله المزروعي ◇ علي بن ناصر الهنائي

للحصول على نسخة كاملة من كتاب "الإبحار إلى الدراسات الاجتماعية" 77128502

يتبع/٣

٦) الجدول الصحيح الذي يبين مؤلفات بعض المؤلفين العُمانيين في عصر البوسعيد:

عنوان الكتاب	المؤلف
برهان الحق	محمد بن جعفر
تهذيب الأثر	ناصر بن جاعد الخروصي
تنوير العقول	أحمد بن حمد الخليلي

◇

عنوان الكتاب	المؤلف
برهان الحق	أحمد بن حمد الخليلي
تهذيب الأثر	محمد بن جعفر
تنوير العقول	ناصر بن جاعد الخروصي

◇

عنوان الكتاب	المؤلف
برهان الحق	ناصر بن جاعد الخروصي
تهذيب الأثر	أحمد بن حمد الخليلي
تنوير العقول	محمد بن جعفر

◇

عنوان الكتاب	المؤلف
برهان الحق	محمد بن جعفر
تهذيب الأثر	أحمد بن حمد الخليلي
تنوير العقول	ناصر بن جاعد الخروصي

◇

٧) تقع العديد من آثار عصر النباهنة في جزيرة باتي التابعة لدولة:

◇ كينيا ◇ تنزانيا

◇ مدغشقر ◇ تشاد

٨) الصور التي تشير إلى المحاصيل التي أدخلها اليعاربة ولم تكن معروفة في عُمان:

◇

◇

٩) الميناء الذي بلغت حجم التجارة التي تمر به في العقد الأخير من القرن الثامن عشر الميلادي خمسة أثمان مجموع التجارة في منطقة الخليج العربي:

◇ صور ◇ صحار ◇ دبا ◇ مسقط

يتبع/٤

للحصول على نسخة كاملة من كتاب "الإبحار إلى الدراسات الاجتماعية" 77128502

تابع أولاً: الأسئلة الموضوعية

ادرس الشكل الذي امامك والذي يمثل نوع من أنواع النفايات الملوثة للهواء لعام ٢٠١٩م، ثم أجب عن المفردتين (١٠،١١):

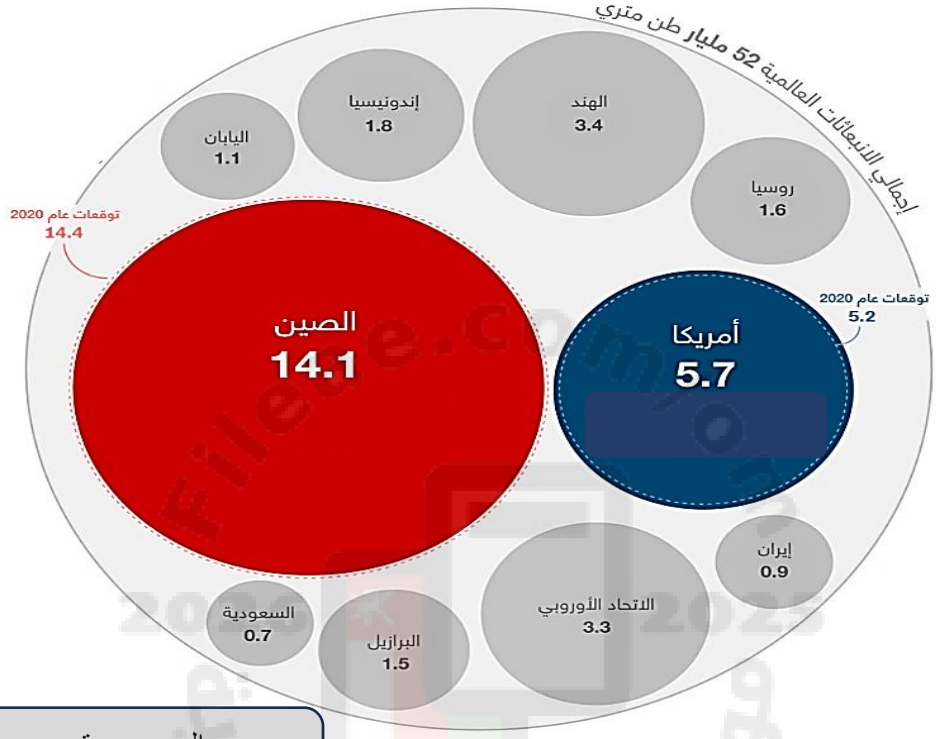

المصدر موقع ccc بالعربية
Arabic.cnn.com

١٠) تصنف النفايات في الشكل السابق بأنها:

◇ الصلبة ◇ السائلة ◇ الاشعاعية ◇ الغازية

١١) تشكل مجموع انبعاثاتها من النفايات الملوثة للهواء لعام ٢٠١٩م (١٧ مليار طن متري):

◇ الصين واليابان والهند ◇ أمريكا واليابان وروسيا

◇ امريكا والبرازيل والسعودية ◇ الصين واليابان وإندونيسيا

يتبع/٥

للحصول على نسخة كاملة من كتاب "الإبحار إلى الدراسات الاجتماعية" 77128502

(٥)

تابع أولاً الأسئلة الموضوعية:

من خلال الشكل والنص أجب عن المفردتين (١١،١٢):

في العام الماضي، لم تُسلم جائزة السلطان قابوس لصون البيئة لعام ٢٠٢٣ بسبب تعليق عملية التقييم للجائزة. السبب الرئيسي كان تركيز منظمة اليونسكو على مراجعة وتحسين معايير الجائزة وآلية تقديمها، وذلك لضمان توافقها مع الأولويات البيئية العالمية الحديثة، مثل مكافحة التغير المناخي، والحفاظ على التنوع البيولوجي، وتحقيق التنمية المستدامة.

هذه الجائزة تُمنح كل عامين من قبل اليونسكو، وتُعتبر أول جائزة بيئية دولية من هذا النوع. تأخير تسليم الجائزة يهدف إلى تعزيز فعاليتها وتأثيرها في تحقيق أهدافها البيئية.

١٢) الجهة الفائزة بالجائزة لعام ٢٠٢٤م:

- ◇ منظمة الأمم المتحدة للتربية والعلم والثقافة.
- ◇ صندوق التعليم البيئي لصحراء ناميب.
- ◇ اللجنة الوطنية العُمانية للتربية والثقافة والعلوم.
- ◇ جمعية التشاد للمتطوعين لحماية البيئية.

١٣) منحت الجائزة في عام ٢٠١٧ بدورتها:

◇ العاشرة ◇ الحادية عشر ◇ الثالثة عشر ◇ الرابعة عشر

١٤) أفضل طريقة للتخلص من النفايات <u>للحد من الاستهلاك وحجم النفايات</u>:

◇ الدفن ◇ الحرق ◇ التقليل ◇ التسميد

يتبع/ ٦

للحصول على نسخة كاملة من كتاب "الإبحار إلى الدراسات الاجتماعية" 77128502

الأسئلة المقالية:

١٥) أ. اذكر سبباً واحداً لطمع البرتغاليين في السيطرة على السواحل العُمانية.

ب. تنسب أسرة النباهنة إلى العتيك، وحكمت عُمان ما يقارب خمسة قرون، وامتد حكمهم من القرن الثاني عشر الميلادي وحتى القرن السابع عشر الميلادي، بيد أن هذه الفترة ظلت مجهولة بسبب عدم التدوين التاريخي عنها، والصراعات والانقسامات الداخلية، ومن أبرز ملوكهم سليمان بن سليمان، كما تعددت عواصمهم ومنها نزوى وبهلاء.

في ضوء العبارة السابقة أجب عن الأسئلة الآتية:

(١). سم عاصمة أخرى للنباهنة غير واردة بالفقرة السابقة.

---

(٢). فسر: شح المصادر التاريخية التي تناولت أحداث النباهنة.

---

(٣). ما العصر النبهاني الذي ينتمي إليه الملك الوارد ذكره في العبارة؟

ج. دلل على العلاقات المضطربة بين النباهنة ومملكة هرمز.

---

١٦) أ. رتب الأحداث الاتية الخاصة بمنجزات بعض أئمة اليعاربة من الأقدم إلى الأحدث بكتابة الأرقام (١،٢،٣،٤) امام العبارات:

( ) تشيد قلعة نزوى.

( ) عقد اتفاقية بين اليعاربة والبرتغاليين ألزمتهم بدفع الجزية وتسليم بعض الحصون.

( ) مبايعة الإمام سلطان بن سيف بن مالك اليعربي اماماً على عُمان.

( ) ارسال حملة يعربية إلى ممباسا تلبية لنداء استغاثة ضد البرتغاليين.

يتبع/٧

للحصول على نسخة كاملة من كتاب "الإبحار إلى الدراسات الاجتماعية" 77128502

تابع ثانياً: الأسئلة المقالية:

ب. امامك خريطة العلاقات التجارية العُمانية في عصر النباهنة، رسها جيداً، ثم أجب عن الأسئلة الاتية:

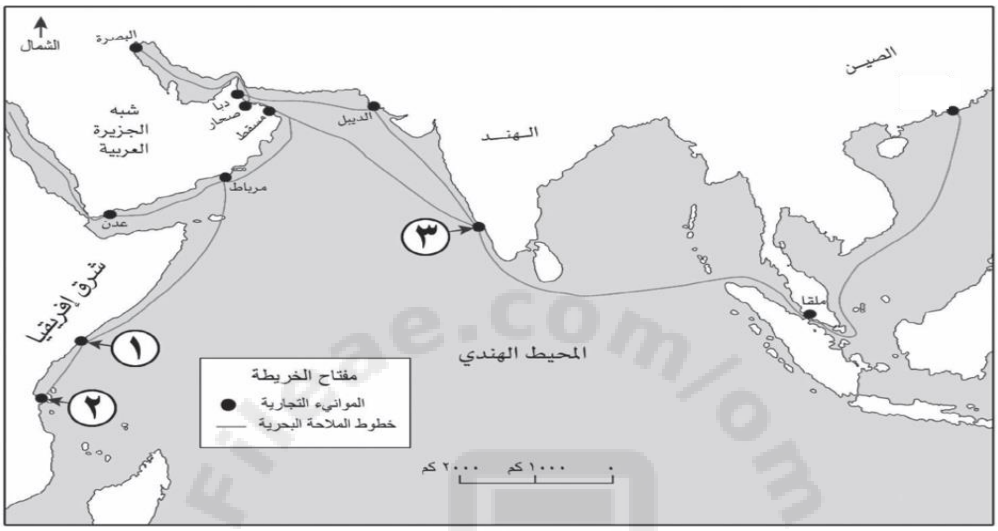

(١). ما الرقم الذي يشير إلى ميناء ممباسا؟

_____

(٢). وقع على الخريطة أقصى ميناء وصل إليه النباهنه بالشرق الأقصى.

(٣). ضع دائرة على الميناء الذي سهل الإمام سلطان بن سيف الأول ١٦٥١م نقل بضائع الهولنديين إليها بالخليج العربي.

(٤). في أية جهة رئيسية يقع ميناء ملقا بالنسبة للمحيط الهندي؟

_____

للحصول على نسخة كاملة من كتاب "الإبحار إلى الدراسات الاجتماعية" 77128502

تابع ثانياً: الأسئلة المقالية:

١٧) أ. ادرس الشكل ثم أجب عن الأسئلة التي تليه:

(١). استنتج مظاهر الغزو البرتغالي الغاشم للسواحل العُمانية.

_____

(٢). من القائد البرتغالي للحملات إلى المشرق الوارد في الشكل؟

_____

ب. اكتب مثالين لـ:

* مكونات السلطة التنفيذية في عهد الإمام أحمد بن سعيد.

_____

_____

* القلاع والحصون المشيدة في عصر دولة البوسعيد.

_____

_____

ج. اكتب دليلا واحداً على اهتمام السلطان تيمور بن فيصل بالجانب الثقافي.

_____

_____

يتبع/٩

للحصول على نسخة كاملة من كتاب "الإبحار إلى الدراسات الاجتماعية" 77128502

تابع ثانياً: الأسئلة المقالية:

١٨) ـ أ . وضح انجازات الأسطول العُماني للسيد سلطان بن أحمد.

_____

_____

ب. اكمل البيانات المطلوبة في الشكل المقابل.

السلطان: سعيد بن تيمور
العام الميلادي الذي تولى فيه الحكم: _____
الاهتمامات: العلاقات الخارجية
الدول التي عقد معها اتفاقيات صداقة وعلاقات اقتصادية: الهند والولايات المتحدة الأمريكية
الدول التي زارها: _____

ج. اكتب تعريفا للمفاهيم الآتية:

م	المفهوم	التعريف
١	البيئة الطبيعة	_____
٢	التنوع الأحيائي	_____

١٩) أ. " تحظى سلطنة عمان بتنوع جغرافي متعدد من حيث البيئات الجبلية والرملية والصحراوية والبحرية تضمها جميعا خمس وعشرون محمية طبيعية، فمثلاً سنوياً يتم إحصاء من ٦٠٠ ـ ٨٠٠ غزال عربي في محمية السليل الطبيعية في ولاية الكامل والوافي، كما أنشأت مشروعات مختلفة من أهمها مشروع المها العربي، ومشروع طائر الأدهم في جزر الديمانيات، ومشروع السلاحف الخضراء، وتهدف هذه المشروعات إلى التعريف الكائن الحي، وإيجاد مؤشرات لاستطلاع مدى وجود هذا الكائن الحي، ومدى زيادتها أو نقصانها".

في ضوء النص السابق اجب عن الأسئلة الاتية.

(١). أعط تعريفا للمفهوم الذي تحته خط.

_____

(٢). استخرج من النص السابق إجراءات الحكومة لحماية الحيوانات في البيئات العُمانية.

_____

(٣). سم المحافظة التي يوجد فيها:

* مشروع المها العربي: _____
* مشروع طائر الأدهم: _____
* مشروع السلاحف الخضراء: _____

يتبع/١٠

للحصول على نسخة كاملة من كتاب "الإبحار إلى الدراسات الاجتماعية" 77128502

تابع ثانياً: الأسئلة المقالية:

ب. ادرس الشكل التالي، ثم أجب عن الأسئلة التي تليه:

(١) استخرج من الشكل السابق الطريقة التي بها التخلص من النفايات.

_____

(٢) ما نوع الجهد الذي يمثله الشكل من جهود الدول في إدارة النفايات.

_____

ج. فسر: "تعرض أنواع عديدة من الحيوانات لخطر الإنقراض لأسباب بشرية".

_____

_____

للحصول على نسخة كاملة من كتاب "الإبحار إلى الدراسات الاجتماعية" 77128502

تابع ثانياً: الأسئلة المقالية:

٢٠) أ. امامك شكل يوضح شعار إحدى اللجان التابعة لمنظمة الأمم المتحدة والتي تعمل لتحليل الاتجاهات الاقتصادية والاجتماعية والبيئية الإقليمية والوطنية في الدول الأعضاء لتعزيز التعاون والتنمية.
ادرسه جيداً،ثم أجب عن الأسئلة الآتية:

UNITED NATIONS
الاسكوا
ESCWA

(١). اكتب اسم هذه اللجنة.

_____

(٢). أعط مثالاً للتعاون بين حكومة سلطنة عُمان وهذه اللجنة.

_____

ب. اذكر نتيجة واحدة لكل من:
(١). أهمية التنوع الأحيائي في المجالات المكتشفة وغير المكتشفة علمياً.

_____

(٣) قيام سلطنة عُمان بالتعاون مع المنظمة البحرية الدولية بصنيف من رأس الحد إلى حدود اليمن منطقة بحرية خاصة.

_____

٢١) أ. " عم الرخاء الاقتصادي في عصر اليعاربة".
اكتب مثالاً واحداً على ما يأتي:
(١). واردات عُمان من الساحل الغربي للهند.

_____

(٢). سوق انتعش وازدهر.

_____

للحصول على نسخة كاملة من كتاب "الإبحار إلى الدراسات الاجتماعية" 77128502

تابع ثانياً: الأسئلة المقالية:

ب. أكتب أرقام العبارات الآتية التي تمثل جهود سلطنة عُمان لحماية البيئة العُمانية داخل المربعات في المسطرة الزمنية التالية:

١ ـ عقد مؤتمر جلف أكو.
٢ ـ المشاركة في مؤتمر تغير المناخ بألمانيا.
٣ ـ المشاركة في مؤتمرات الأطراف المعنية بإدارة المخلفات الخطرة والمواد الكيمائية بجنيف.
٤ ـ تسليم صندوق أشوكا ترست للأبحاث بجمهورية الهند جائزة السلطان قابوس لصون البيئة.

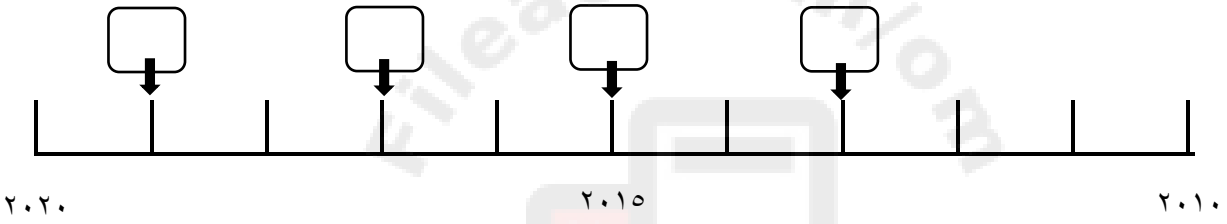

انتهت الأسئلة مع تمنياتنا للجميع بالنجاح والتوفيق

أتمنى منكم الاستفادة الأمثل من كتاب الإبحار إلى الدراسات الاجتماعية المتضمن ٢٧٤ صفحة تتميز بالشمولية للحصول على الدرجة النهائية في المادة، كما ارجو منكم الاطلاع على الاختبارات التجريبية الخمسة لهذه العام.

أتمنى منكم الاستفادة الأمثل من كتاب الإبحار إلى الدراسات الاجتماعية المتضمن ٢٧٤ صفحة للفصل الدراسي الأول والمتميز بالشمولية للحصول على الدرجة النهائية في مادة الدراسات الاجتماعية (هذا وطني في العراقة والمجد) للصف الثاني، كما ارجو منكم الاطلاع على الاختبارات التجريبية الخمسة لهذه العام ٢٠٢٤/٢٠٢٥م للفصل الدراسي الأول.

"أتمنى منكم الدعاء لي ولأسرتي إن وجدتم ملفاتي مفيدة لكم"

إهداء لروح أبي الحاج/ إسماعيل بن عبدالله بن عمر البلوشي
أتمنى منكم الدعاء له بالرحمة والمغفرة

للحصول على نسخة كاملة من كتاب "الإبحار إلى الدراسات الاجتماعية" 77128502

إعداد/ محمد إسماعيل عبدالله البلوشي ـ معلم أول مادة تاريخ ـ مدرسة نعيم بن مسعود / صحار

إهداء لروح أبي الحاج/ إسماعيل بن عبدالله بن عمر البلوشي أتمنى منكم الدعاء له بالرحمة والمغفرة

نموذج إجابة امتحان الصف الثاني عشر
للعام الدراسي ١٤٤٦/١٤٤٧هـ - ٢٠٢٥/٢٠٢٦م
الامتحان التجريبي (٥) - الفصل الدراسي الأول

المـــــادة: الدراسات الاجتماعية (هذا وطني) الدرجة الكلية: (٧٠) درجة.
تنبيـــــــه: نموذج الإجابة في (٧) صفحات.

أولاً: إجابة السؤال الموضوعي:

المفردة	الإجابة	الدرجة	الصفحة	المخرج التعليمي
١	المنطقة الجغرافية (الموقع) / السلع الهند / التوابل، وخشب الساج، والأرز شرق إفريقيا / العاج، والخشب، والعنبر، والجلود الصين / الحرير	١	٢٢	الأولى
٢	٤	١	٢٣	الأولى
٣	الاقتصادي	١	٦١و٦٢	الثانية
٤	●	١	٤٤	الأولى
٥	عبدالله بن محمد العنبوري	١	٢٦	الأولى
٦	عنوان الكتاب / المؤلف برهان الحق / أحمد بن حمد الخليلي تهذيب الأثر / محمد بن جعفر تنوير العقول / ناصر بن جاعد الخروصي	١	٣٠	الأولى
٧	كينيا	١	١٧	الأولى
٨		١	٣١	الأولى

للحصول على نسخة كاملة من كتاب "الإبحار إلى الدراسات الاجتماعية" 77128502

تابع نموذج الامتحان التجريبي (٥)

تابع أولاً: الأسئلة الموضوعية:

المفردة	الإجابة	الدرجة	الصفحة	المخرج التعليمي
٩	مسقط	١	٣٩	الأولى
١٠	الغازية	١	٦٩	الثانية
١١	الصين واليابان وإندونيسيا	١	٦٩	الثانية
١٢	صندوق التعليم البيئي لصحراء ناميب	١	٦٢	الثانية
١٣	الرابعة عشر	١	٦٢و ١١٥	الثانية
١٤	التقليل	١	٥٤	الثانية
	المجموع	١٤		

للحصول على نسخة كاملة من كتاب "الإبحار إلى الدراسات الاجتماعية" 77128502

تابع ثانيا: إجابة الأسئلة المقالية:

السؤال	الجزئية	المفردة	الإجابة الصحيحة	الدرجة	الصفحة	المخرج التعليمي
١٥	أ		رواج التجارة في موانئ الخليج العربي والموانئ العمانية	٢	٥٢	الأولى
	ب	(١)	مقنيات	١	١٨	الأولى
		(٢)	عدم التدوين التاريخي عنها، والصراعات والانقسامات الداخلية (بما يفيد المعنى)	٢	١٣	الأولى
		(٣)	العصر النبهاني الأول	١	١٢	الأولى
	ج		غزو الهرامزة عُمان اكثر من مرة/ غزو الملك توران شاه	٢		الأولى

للحصول على نسخة كاملة من كتاب "الإبحار إلى الدراسات الاجتماعية" 77128502

تابع نموذج إجابة الامتحان التجريبي (٥)، الدراسات الاجتماعية للصف الثاني عشر ٢٠٢٥/٢٠٢٦ الفصل الدراسي الأول

تابع ثانيا: إجابة الأسئلة المقالية:

السؤال	الجزئية	المفردة	الإجابة الصحيحة	الدرجة	الصفحة	المخرج التعليمي
١٦	أ		٣	١	٣٢	الأول
			١	١	٢٦	
			٢	١	٢٦	
			٤	١	٢٨	
	ب	(١)	١	١	٢٢	الأولى
		(٢)	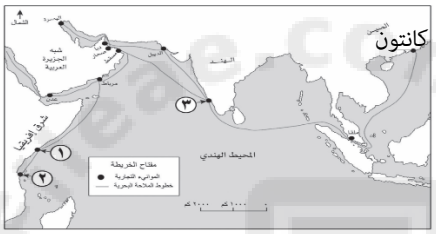	١	٢٢	
		(٣)	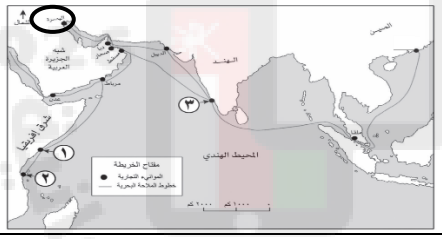	١	٢٢و٣٤	
		(٤)	الشرق	١	٢٢	

للحصول على نسخة كاملة من كتاب "الإبحار إلى الدراسات الاجتماعية" 77128502

تابع نموذج إجابة الامتحان التجريبي (٥)، الدراسات الاجتماعية للصف الثاني عشر ٢٠٢٥/٢٠٢٦ الفصل الدراسي الأول

تابع ثانيا: إجابة الأسئلة المقالية:

السؤال	الجزئية	المفردة	الإجابة الصحيحة	الدرجة	الصفحة	المخرج التعليمي
١٧	أ	(١)	أحرقوا المدينة ودمروها/ وقاموا بمذبحة مروّعة/ أعملوا فيها السلب والنهب/ وأحرقوا البلدات و١٤ مركبا كانت راسية فيها/ قتل المدنيين / انتهاك المقدسات الدينية. (يكتفى بواحدة)	١	٢٣	الأولى
		(٢)	الفونسو دي البوكيرك او البوكيرك أو دي البوكيرك	١	٢٣	الأولى
	ب	(١)	الولاة/ بيت المال/ جبأة الضرائب/ الشرطة/ الحرس/ الجيش / الأسطول (يكتفى باثنتين فقط)	٢	٤١	الأولى
		(٢)	حصن المنصور/ قلعة الراوية/ حصن الخندق/ حصن الفليج (يكتفى باثنتين فقط)	٢	٤٤	الأولى
	ج		طبع على نفقته ديوان سعيد بن مسلم المعروف بابي الصوفي لأول مرة في مدينة اوساكا باليابان ١٩٣٧م.	٢	٤٧	الأولى

السؤال	الجزئية	المفردة	الإجابة الصحيحة	الدرجة	الصفحة	المخرج التعليمي
١٨	أ		فرض الأسطول العُماني في عهده السيادة على الخليج العربي وبحر عُمان/ حرر البحرين من سيطرة الفرس	٢	٣٧	الأولى
	ب		١٩٣٢م	١	١٥	الأولى
			الولايات المتحدة/ بريطانيا /اليابان/ فلسطين / مصر	١	٣٧	الأولى
	ج	(١)	تضم جميع الكائنات الحية التي تعيش على الأرض وما يحيط بها من ماء وهواء وتربة وغيرها من موارد طبيعية	٢		الثانية
		(٢)	تعدد أنواع الكائنات الحية وكثرتها وتباينها في النظم البرية والمائية والجوية	٢	٥٣	الثانية

للحصول على نسخة كاملة من كتاب "الإبحار إلى الدراسات الاجتماعية" 77128502

تابع نموذج إجابة الامتحان التجريبي (٥)، الدراسات الاجتماعية للصف الثاني عشر ٢٠٢٥/٢٠٢٦ الفصل الدراسي الأول

تابع ثانيا: إجابة الأسئلة المقالية:

السؤال	الجزئية	المفردة	الإجابة الصحيحة	الدرجة	الصفحة	المخرج التعليمي
١٩	أ	(١)	مساحة جغرافية محددة تتمتع بحماية خاصة لصون بيئاتها الطبيعية أو الثقافية أو لحماية نوع من أنواع الحيوانات أو النباتات البرية أو البحرية	١	٧٥	الثانية
		(٢)	إقامة المحميات الطبيعية/ إقامة مشروعات مختلفة للكائنات الحية لاستطلاع مدى وجود هذا الكائن الحي، ومدى زيادتها أو نقصانها (يكتفى بواحدة)	١	٧٥	الثانية
		(٣)	* محافظة الوسطى * محافظة جنوب الباطنة * محافظة جنوب الشرقية	١ ١ ١	٦٢و ٧٤و ١١٥	الثانية
	ب	(١)	إعادة التدوير	١	٧٠	الثانية
		(٢)	توفير حاويات مخصصة لفصل النفايات بأنواعها المختلفة/ تنظيم برامج توعوية وخطط إعلامية هادفة موجهة إلى مختلف فئات المجتمع. (يكتفى بواحدة فقط)	١	٧١	الثانية
		(٣)	الصيد الجائز للحيوانات للاستفادة منها للغذاء أو التجارة/ تغير الموطن الطبيعي يؤدي إلى عدم تكيفها في البيئة الجديدة/ ادخال أنواع جديدة قد يقضي على أنواع أخرى/ تدمير المواطن الطبيعية أو تجزئتها. (يكتفى بواحدة فقط)	١	٧٣	الثانية

للحصول على نسخة كاملة من كتاب "الإبحار إلى الدراسات الاجتماعية" 77128502

تابع نموذج إجابة الامتحان التجريبي (٥)، الدراسات الاجتماعية للصف الثاني عشر ٢٠٢٥/٢٠٢٦ الفصل الدراسي الأول

تابع ثانيا: إجابة الأسئلة المقالية:

السؤال	الجزئية	المفردة	الإجابة الصحيحة	الدرجة	الصفحة	المخرج التعليمي
٢٠	أ	(١)	اللجنة الاقتصادية والاجتماعية لغربي آسيا (يجب كتابة الاسم كاملا وصحيا)	٢	٦٦	الثانية
		(٢)	تدشين مكتب الاقتصاد الأخضر في السلطنة	٢	٦٦	الثانية
	ب	(١)	وجب حمايته وسن القوانين والتشريعات للمحافظة عليه	٢	٥٣	الثانية
		(٢)	حماية البيئة البحرية العمانية من التلوث	٢	٦٥	الثانية

السؤال	الجزئية	المفردة	الإجابة الصحيحة	الدرجة	الصفحة	المخرج التعليمي
٢١	أ	(١)	الملابس والأرز (يكتفى بواحدة)	٢	٣٠	الأولى
		(٢)	ازكى/ منح / مسقط (يكتفى بواحدة)	٢	٣٠	الأولى
	ب		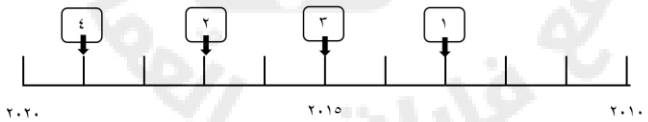	٤	٥٥ ٥٧	الثانية

انتهى نموذج الإجابة مع تمنياتي لكم بالتوفيق في الاختبار النهائي

وتذكروني عند مشاهدة الاختبار النهائي واربطوا ما فيه بكتاب الإبحار إلى الدراسات الاجتماعية

للحصول على نسخة كاملة من كتاب "الإبحار إلى الدراسات الاجتماعية" 77128502

أتمنى منكم الاستفادة الأمثل من كتاب الإبحار إلى الدراسات الاجتماعية المتضمن ٢٩٩ صفحة للفصل الدراسي الأول والمتميز بالشمولية للحصول على الدرجة النهائية في مادة الدراسات الاجتماعية (هذا وطني في العراقة والمجد) للصف الثاني، كما ارجو منكم الاطلاع على الاختبارات التجريبية الخمسة لهذه العام ٢٠٢٥/٢٠٢٦م للفصل الدراسي الأول.

"أتمنى منكم الدعاء لي ولأسرتي إن وجدتم ملفاتي مفيدة لكم"

إهداء لروح أبي الحاج/ إسماعيل بن عبدالله بن عمر البلوشي أتمنى منكم الدعاء له بالرحمة والمغفرة