امتحان تجريبي رابع مع نموذج الإجابة من سلسلة الإبحار

تم تحميل هذا الملف من موقع المناهج العمانية	
موقع فايلاتي ⇦ المناهج العمانية ⇦ الصف الثاني عشر ⇦ اجتماعيات ⇦ الفصل الأول ⇦ ملفات متنوعة ⇦ الملف	
تاريخ إضافة الملف على موقع المناهج: 01-12-2025 13:30:35	
ملفات ا كتب للمعلم ا كتب للطالب ا اختبارات الكترونية ا اختبارات ا حلول ا عروض بوربوينت ا أوراق عمل منهج انجليزي ا ملخصات وتقارير ا مذكرات وبنوك ا الامتحان النهائي ا للمدرس	المزيد من مادة اجتماعيات:
إعداد: محمد إسماعيل عبدالله البلوشي	

التواصل الاجتماعي بحسب الصف الثاني عشر					
صفحة المناهج العمانية على فيسبوك					

المزيد من الملفات بحسب الصف الثاني عشر والمادة اجتماعيات في الفصل الأول	
امتحان تجريبي ثالث مع نموذج الإجابة من سلسة الإبحار	1
امتحان تجريبي ثاني مع نموذج الإجابة من سلسلة الإبحار	2
امتحان تجريبي أول مع نموذج الإجابة من سلسلة الإبحار	3
أرقام ورموز مهمة في كتاب العالم من حولي	4
استمارة تقرير مادة الدراسات الاجتماعية	5

إهداء
إلى روح أبي، الذي كان مينائي الآمن حين تعصف الرياح،
وبوصلتي التي دلّتني على طريق المعرفة.
أهدي هذا الكتاب إلى من رحل جسدًا، وبقي أثره
يضيء دروبي كنجمةٍ لا تنطفئ فوق بحرٍ واسع.
لقد علّمتني يا أبي أن الإبحار في العلم ليس هروبًا من
الواقع، بل سعيٌ إلى فهمه، وأن كل موجةٍ تحمل درسًا،
وكل شاطئٍ يفتح أفقًا جديدًا.
فليكن هذا العمل امتدادًا لرحلتك، ووفاءً لعطائك،
وصدقةً جاريةً تظلّ تكتب اسمك في سجلّ النور.

الاختبار التجريبي رقم (٤) للعام الدراسي ٢٠٢٥/ ٢٠٢٦م

إهداء لمعلمي الدراسات الاجتماعية ولطلبة
الثاني عشر دفعة ٢٠٢٦م

في حالة النشر في المنصات
والمواقع الإلكترونية أتمنى ذكر اسم
معد الاختبار احتراماً لجهد الآخرين

هذا الملف من الملفات التي تنشر في
مجموعات الواتساب الاتية:
1 ـ كتاب الإبحار إلى الدراسات
الاجتماعية **"لطلبة الثاني عشر"**
2 ـ كتاب الإبحار على الدراسات
الاجتماعية **"لمعلمي الدراسات**
الاجتماعية للصفوف من 10 ـ 12"
3 ـ جروب مجموعة مواد الدراسات
الاجتماعية بمدرسة نعيم بن مسعود
الانضمام للجروب التواصل:
77128502

محتويات كتاب
الإبحار إلى
الدراسات
الاجتماعية
٢٩٩صفحة

٣,٨ ريال

للحصول على
الكتاب
٧٧١٢٨٥٠٢

الإبحار إلى الدراسات الاجتماعية
للحصول على نسخة كاملة من الإبحار إلى الدراسات الاجتماعية 77128502

سلطنة عُمان
وزارة التربية والتعليم

امتحـان تجريبي (٤) مادة: الدراسات الاجتماعية (هذا وطني)

للصف: الثاني عشر

للعام الدراسي ١٤٤٦/١٤٤٧هـ - ٢٠٢٥/٢٠٢٦م

الفصل الدراسي الأول

- زمن الامتحان: (ثلاث ساعات)
- عدد صفحات أسئلة الامتحان: (١٢)
- الإجابة في الدفتر نفسه.

اسم الطالب			
المدرسة	نعيم بن مسعود للتعليم الأساسي١٠ـ١٢	الصف	١٢/ .....

السؤال	الدرجة		التوقيع بالاسم	
	بالأرقام	بالحروف	المصحح الأول	المصحح الثاني
١ ـ ١٤				
١٥				
١٦				
١٧				
١٨				
١٩				
٢٠				
٢١				
المجموع			جمعه	مراجعة الجمع
المجموع الكلي				

للحصول على نسخة كاملة من كتاب "الإبحار إلى الدراسات الاجتماعية" 77128502

الاختبار التجريبي رقم (٤) مادة الدراسات الاجتماعية الفصل الدراسي الأول العام الدراسي ٢٠٢٥/ ٢٠٢٦م
إعداد/ محمد إسماعيل عبدالله البلوشي ـ معلم أول مادة تاريخ ـ مدرسة نعيم بن مسعود / صحار

أجب عن جميع الأسئلة الآتية

أولاً: الأسئلة الموضوعية

ضلل الشكل◇ المقترن بالإجابة الصحيحة لكل مفردة من المفردات الآتية:

١ ـ يعد بيت القرن من نماذج حلقات تحفيظ القرآن الكريم في عهد الامام أحمد بن سعيد وهو وقف للسيد:
◇ نادر بن فيصل البوسعيدي ◇ فيصل بن حمود البوسعيدي
◇ راشد بن عزيز الخصيبي ◇ محمد بن علي بوذينة

٢ ـ من مؤلفات موسى بن حسين بن شوال الحسيني:
◇ ديوان الكيذاوي ◇ النونية الكبرى ◇ الأرجوزة الحجازية ◇ منظومة في تكبيرة الاحرام

٣ ـ تمثل الصورة الآتية قلعة:

◇ بهلاء
◇ الراوية
◇ الفيقين
◇ صحار

٤ ـ بلغت حجم تجارة ميناء مسقط خمسة أثمان مجموع التجارة في منطقة الخليج في العقد الأخير من القرن الميلادي:
◇ الخامس عشر ◇ السادس عشر ◇ السابع عشر ◇ الثامن عشر

٥ ـ الرقم الذي يشير إلى حاضرة منطقة الصير في عصر اليعاربة:

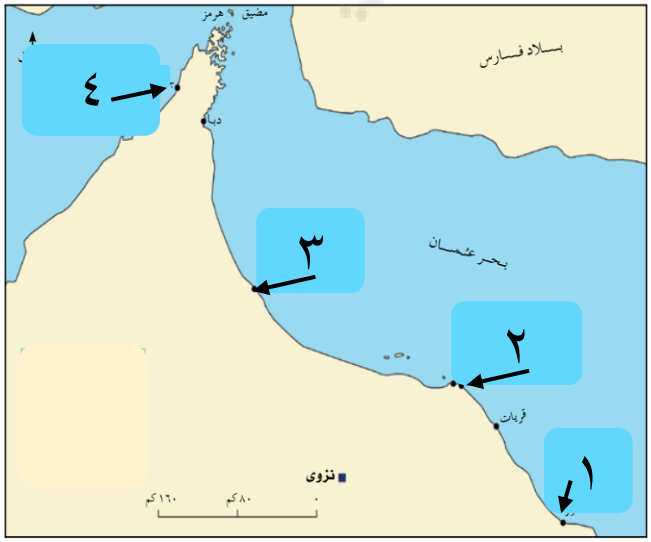

◇ ١
◇ ٢
◇ ٣
◇ ٤

يتبع/٢

للحصول على نسخة كاملة من كتاب "الإبحار إلى الدراسات الاجتماعية" 77128502

تابع أولاً: الأسئلة الموضوعية

٦ ـ الشكل الصحيح الذي يشير إلى المنصب الذي شغله الشيخ عبدالله بن محمد بن غسان في التنظيم الإداري الذي امامك:

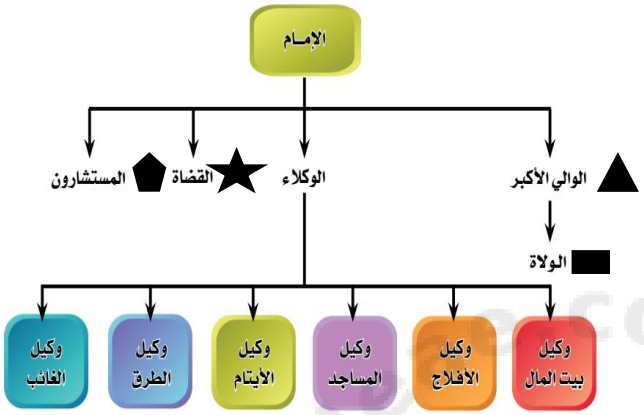



٧ ـ من السلع التي استوردت إلى عمان في العصر النبهاني واليعربي من الهند:

◇ الأرز ◇ خشب الساج ◇ التوابل ◇ الملابس

٨ ـ يعد امتلاك عُمان للعديد من مقومات السياحة البيئية من أهمية التنوع الأحيائي في الناحية:

◇ الاجتماعية ◇ الاقتصادية ◇ الطبية ◇ البيولوجية

٩ ـ تلبية لنداء استغاثة ضد البرتغاليين أرسل الامام سيف بن سلطان الأول حملة إلى ممباسا في العام الميلادي:

◇ ١٦٩٥ ◇ ١٦٩٦ ◇ ١٦٩٧ ◇ ١٦٩٨

١٠ ـ الشكل الصحيح الذي يمثل الصورة والنظام البيئي التي تنتمي إليه:

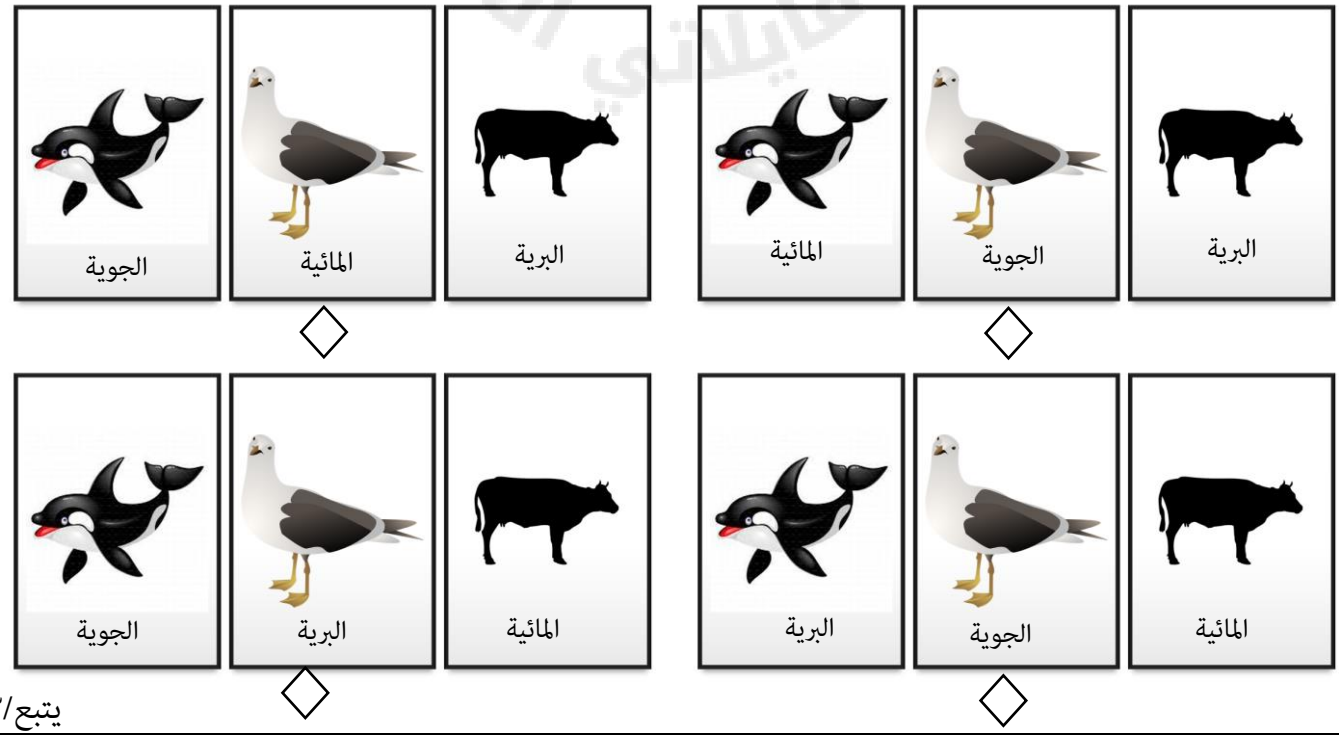

يتبع/٣

للحصول على نسخة كاملة من كتاب "الإبحار إلى الدراسات الاجتماعية" 77128502

تابع أولاً: الأسئلة الموضوعية

١١ ـ عنوان المؤتمر الذي عقد بالدولة المشار لها بالرمز (و) والذي صادقت عليه سلطنة عُمان في الخريطة التي امامك:

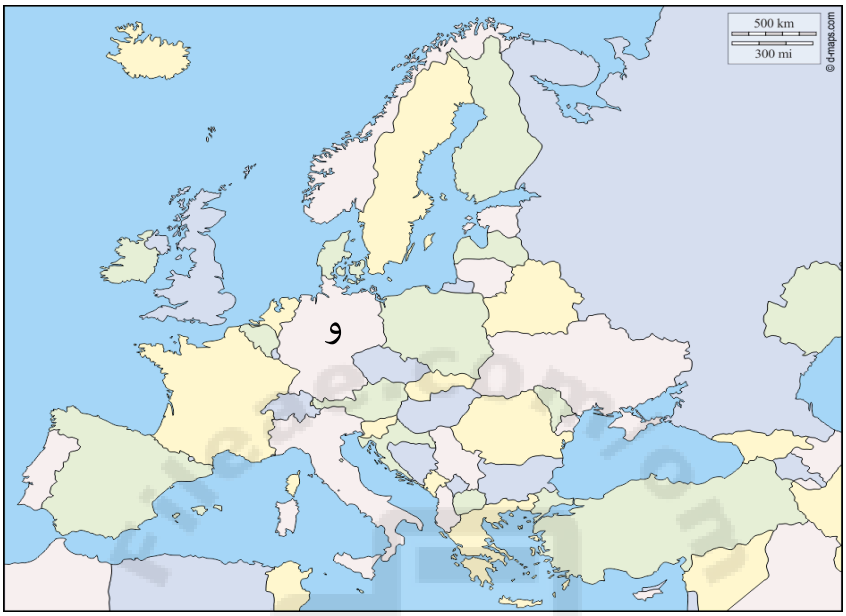

◇ الأطراف المعنية بإدارة المخلفات الخطرة والمواد الكيماوية ◇ تغير المناخ

◇ قمة الأرض ◇ الاحتباس الحراري

من خلال الخريطة أجب عن المفردتين ١٢و١٣:

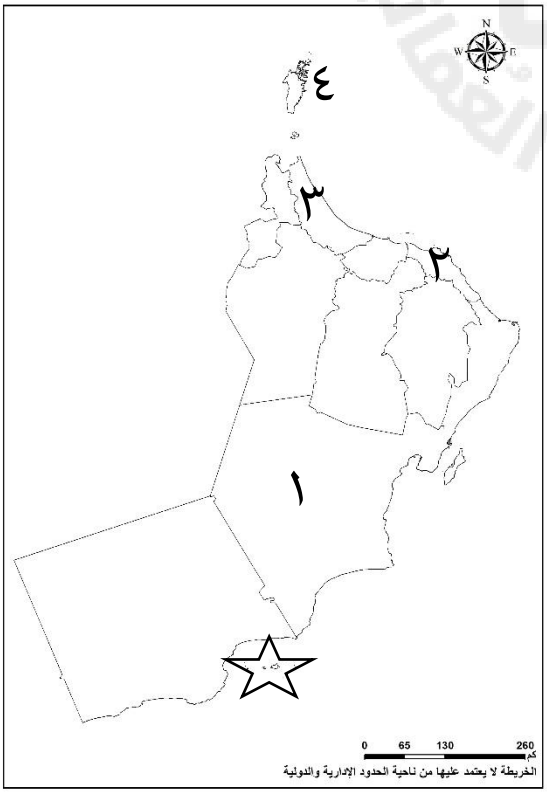

١٢ ـ الرقم الذي يشير إلى إحدى المحافظات العُمانية التي تتميز بجمال مناظرها المتمثلة بشعابها المرجانية:

◇ ١ ◇ ٢ ◇ ٣ ◇ ٤

١٣ ـ تعرف الجزر المشار لها بالرمز (☆) بـ:

◇ الديناميات ◇ مصيرة

◇ الحلانيات ◇ أم الغنم

للحصول على نسخة كاملة من كتاب "الإبحار إلى الدراسات الاجتماعية" 77128502

يتبع/٤

تابع أولاً: الأسئلة الموضوعية

١٤ ـ الشكل الصحيح الذي يمثل أهمية التنوع الأحيائي في المجالات المختلفة:

☐ المجال الطبي ← بعض العقاقير من أصل نباتي أو حيواني | المجال الزراعي ← المكافحة الحيوية | المجال البيئي ← المحافظة على مكونات الهواء | المجال الصناعي ← المواد الخام من أصل نباتي أو حيواني

☐ المجال الطبي ← المحافظة على مكونات الهواء | المجال الزراعي ← بعض العقاقير من أصل نباتي أو حيواني | المجال البيئي ← المكافحة الحيوية | المجال الصناعي ← المواد الخام من أصل نباتي أو حيواني

☐ المجال الطبي ← المكافحة الحيوية | المجال الزراعي ← المحافظة على مكونات الهواء | المجال البيئي ← بعض العقاقير من أصل نباتي أو حيواني | المجال الصناعي ← المواد الخام من أصل نباتي أو حيواني

☐ المجال الطبي ← المواد الخام من أصل نباتي أو حيواني | المجال الزراعي ← بعض العقاقير من أصل نباتي أو حيواني | المجال البيئي ← المحافظة على مكونات الهواء | المجال الصناعي ← المكافحة الحيوية

يتبع/٥

للحصول على نسخة كاملة من كتاب "الإبحار إلى الدراسات الاجتماعية" 77128502

الأسئلة المقالية:

١٥ ـ أ. اكتب اسم المفهوم أو المصطلح الدال على العبارات الآتية:

م	العبارة	المفهوم أو المصطلح
(١)	تضم الكائنات الحية وما يحيط بها من ماء وهواء وغيرها من موارد طبيعية.	
(٢)	تتضمن كل ما أنشأه الإنسان نتيجة تفاعله واستثماره لموارد بيئته الطبيعية.	

ب. صنف الإنجازات الآتية بالجدول بكتابة العصر الذي تنمي إليه (النبهاني، اليعربي، البوسعيدي).

الانجاز	العصر الذي تنمي إليه
أصبحت الموانئ العُمانية مسقط ومطرح وصور من أهم أحواض بناء السفن.	ــــــــــــ
أدخال المانجو وانتشار زراعته في عُمان.	ــــــــــــ
زيارة أول حاكم عربي إلى الولايات المتحدة الأمريكية.	ــــــــــــ
إعادة بناء قلعة عراد في البحرين.	ــــــــــــ

ج. اذكر واحداً فقط من:

(١) ـ أسباب الانتقال السلس للحكم بعد وفاة السلطان قابوس ـ طيب الله ثراه ـ وتولى السلطان هيثم بن طارق المعظم.

---

(٢) ـ الأئمة الذين حاربوا ملوك النباهنة.

---

(٣) ـ عوامل انتهاء دولة اليعاربة.

يتبع/٦

للحصول على نسخة كاملة من كتاب "الإبحار إلى الدراسات الاجتماعية" 77128502

تابع ثانياً: الأسئلة المقالية:

١٦ ـ أ ـ " النفايات هي مجمل مخلفات الأنشطة الإنسانية المنزلية والزراعية والصناعية والإنتاجية، أي كل المهملات المتروكة في مكان ما، والتي يهدد إهمالها ويسيء إلى الصحة والسلامة العامة. وتنقسم النفايات إلى عدة أنواع من حيث خطورتها أو نوعيتها، ومنها:

النفايات الخطرة: هي تلك التي تشتمل مكوناتها على مركبات معدنية أو إشعاعية تؤدي إلى مشاكل بيئية خطيرة.

النفايات الصلبة: هي النفايات المكونة من مواد معدنية أو زجاجية، وتنتج عن النفايات المنزلية والصناعية والزراعية، وهي بحاجة إلى مئات السنين للتحلل، ويشكل تواجدها خطرًا بيئيًا

النفايات السائلة: هي مواد سائلة تتكون من خلال استخدام المياه في العمليات الصناعية والزراعية المختلفة. ومنها: الزيوت، ومياه الصرف الصحي. وهي تُلقى في مصادر المياه الجارية "الأنهار أو البحار"

النفايات الغازية: هي الغازات أو الأبخرة الناتجة عن حلقات التصنيع، والتي تتصاعد في الهواء من خلال المداخن الخاصة بالمصانع. ومن تلك الغازات: أول أكسيد الكربون، ثاني أكسيد الكبريت، الأكاسيد النيتروجينية.

وللتخفيف من آثارها السلبية على الإنسان وصحته ولسلامة البيئة ونظافة المجتمع تقوم الدول بعمليات إدارة النفايات، وذلك بجمعها ونقلها إلى الأماكن المخصصة لها ومن ثم معالجتها.

١ ـ ما المفهوم الذي تشير إليه الصورة الآتية من المفاهيم التي تحتها خط في النص السابق؟ _____

٢ ـ صنف النفايات الواردة في الجدول الآتي، حسب نوعها التي تنتمي إليه من النفايات الواردة في النص السابق.

النفايات	نوعها التي تنتمي إليه من خلال النص السابق
تلك التي تحتفظ بسميتها أو قابليتها للاشتعال أو الانفجار وقد يكون لها نشاط إشعاعي	_____
ثاني أكسيد الكربون والكلور فلور كربون والميثان	_____
المياه الناتجة من عمليات التعدين والتصنيع	_____
مخلفات المنازل والمصانع وعميات البناء	_____

للحصول على نسخة كاملة من كتاب "الإبحار إلى الدراسات الاجتماعية" 77128502

تابع ثانياً: الأسئلة المقالية:

ب. برهن على ما يـأتي:

(١) ـ اهتمام السلطان تيمور بن فيصل بالجانب الثقافي.

---

(٢) ـ حرص السلطان سعيد بن تيمور بالعلاقات الخارجية مع الولايات المتحدة الامريكية.

---

(٣) ـ ازدهار العمارة في عصر اليعاربة .

ج . من دراستك للجانب العمرني والعلمي في عصر اليعاربة "، أجب عن السؤالين التاليين:

(١) ـ أعط مثال على المساجد التي بنيت في عصر اليعاربة.

---

(٢) ـ اذكر كتاب الف في التاريخ بهذا العصر.

---

١٧ ـ أ ـ ١ ـ "حبا الله عُمان تنوعاً فريداً في بيئاتها الطبيعية؛ مما اكسبها ثراً وتنوعاً في الحياة الفطرية" في ضوء العبارة أجب عن الأسئلة الآتية:

(١) ـ بم تفسر: تنوع بيئات سلطنة عُمان الطبيعية؟

---

(٢) ـ ما النتائج التي ترتبت ترتبت على اعتماد العُمانيون على إمكانيات البيئة الطبيعية في إقامة بيئتهم المشيدة؟

ب ـ علل: تدشين مكتب مساندة الاقتصاد الأخضر في سلطنة عُمان بالتعاون مع اللجنة الاقتصادية والاجتماعية لغربي آسيا.

للحصول على نسخة كاملة من كتاب "الإبحار إلى الدراسات الاجتماعية" 77128502

يتبع/٨

تابع ثانياً: الأسئلة المقالية:

ج . أدرس خريطة الوطن العربي جيداً، ثم أجب عن الأسئلة تليها:

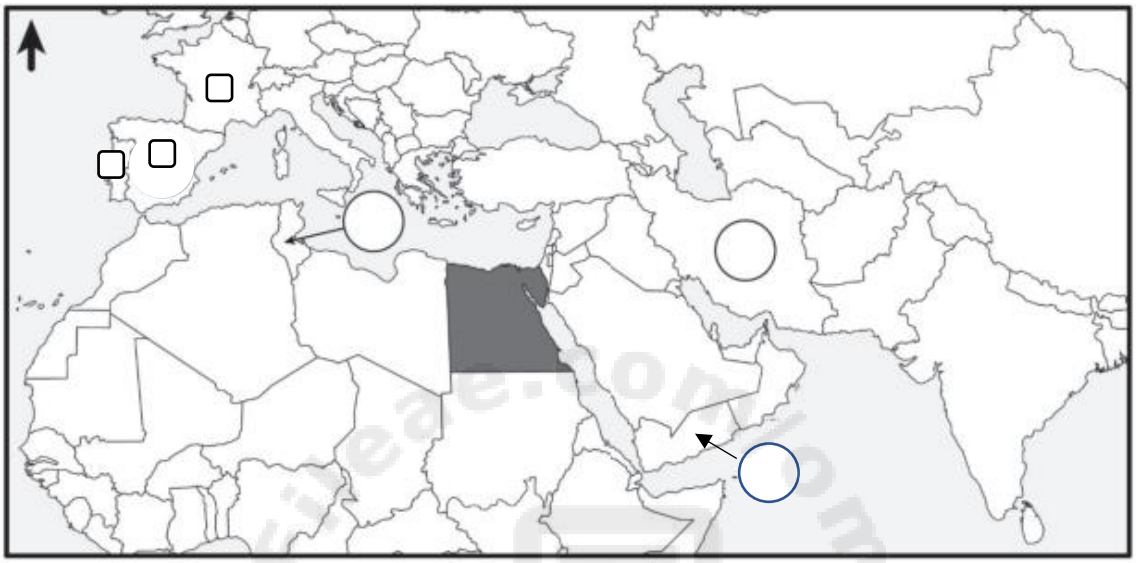

(١)ـ ما الدولة المضللة بالخريطة والتي زارها السلطان سعيد بن تيمور ؟ _____

(٢) ـ أكتب أرقام السلع الواردة في الجدول بمواقع الدول التي جلبت منها إلى عُمان بالقرن الثامن عشر الميلادي.

الرقم	السلعة
١	الملح
٢	البُن

(٣) ـ ضلل المربع ☐ الصحيح الذي يشير إلى موقع الدولة التي تطورت العلاقات العمانية معها من خلال زيادة حجم التبادل التجاري عصر اليعاربة.

_____

يتبع/٩

للحصول على نسخة كاملة من كتاب "الإبحار إلى الدراسات الاجتماعية" 77128502

تابع ثانياً: الأسئلة المقالية:

١٨ ـ أ . أدرس خريطة عُمان الإدارية، ثم اكتب في كل دائرة بالخريطة رمز الصورة التي تمثل المقوم الصحيح للسياحية البيئة بموقع المحافظة:

ب

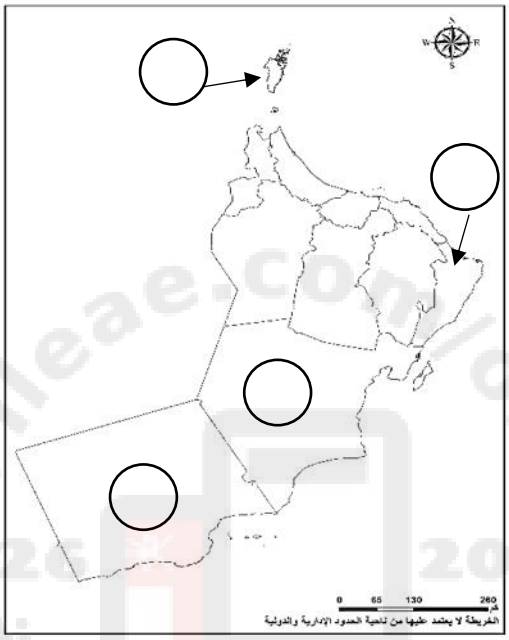

أ

د

ج

ب. من دراستك لـ(علاقات عُمان الخارجية في عصر النباهنة" أجب عن الأسئلة الآتية:

١ ـ بماذا تصف طبيعة علاقات النباهنة مع اليمن؟

_____

٢ ـ سم:

أ ـ ملك مملكة هرمز الذي غزا عُمان.

_____

ب ـ الجزيرة التي هاجر إليها الملك النبهاني سليمان بن نبهان بن مظفر.

_____

٣ ـ ما الأسباب التي جعلت الملك محمد بن أحمد النبهاني عظيماً؟

_____

للحصول على نسخة كاملة من كتاب "الإبحار إلى الدراسات الاجتماعية" 77128502

تابع ثانياً: الأسئلة المقالية:

١٩ ـ أ . (١) ـ ما الحصن الذي يقع في مقنيات بولاية عبري ويرجع تاريخ بنائه إلى ٩٧٢هـ؟

_____

(٢) ـ ما الدور الذي قام به الامام ناصر بن مرشد في مواجهة البرتغاليين؟

_____

ب. من دراستك لطرق التخلص من أجب عن السؤالين الآتين:

١ ـ سم طرق التخلص من النفايات في الشكلين (١،٢).

	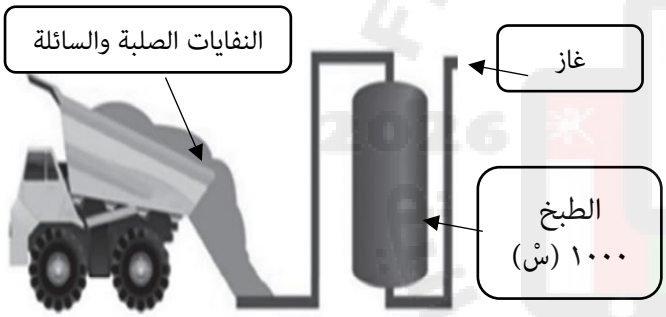
الشكل(١): طريقة _____	الشكل(٢): طريقة _____

٢ ـ متى انضمت سلطنة عُمان إلى اتفاقية ميناماتا؟ وما موضوعها؟

_____

ج.اذكر التاريخ الميلادي لما يأتي:

١ ـ صدور قانون حماية البيئة ومكافحة التلوث. _____

٢ ـ أنشاء وزراة للبيئة في سلطنة عمان. _____

للحصول على نسخة كاملة من كتاب "الإبحار إلى الدراسات الاجتماعية" 77128502

تابع ثانياً: الأسئلة المقالية:

٢٠ ـ أ.علل لما يأتي:

١ ـ جعل الامام سلطان بن سيف حامية في ظفار.

_____

٢ ـ عين الفونسو دي البوكيرك نائبا لملك البرتغال في المشرق.

_____

٣ ـ يعد تنظيم المحكمة من نماذج التطور الإداري في عصر النباهنة.

_____

ب. أعط دليلين على الأهمية الاقتصادية لإدخال زراعة القرنفل إلى زنجبار ١٨٤٢م.

_____

ج. امامك خريطة توضح إحدى إنجازات الأسطول العُماني في عصر البوسعيد، ادرسه جيدا ثم أجب عن الأسئلة الآتية:

١ ـ ما الإنجاز المقصود في الخريطة؟ _____

٢ ـ من الحاكم الذي كان في عهده الإنجاز الواضح بالخريطة؟ _____

٣ ـ ضع دائرة على المدينة التي ولد فيها الامام ناصر بن مرشد اليعربي.

للحصول على نسخة كاملة من كتاب "الإبحار إلى الدراسات الاجتماعية" 77128502

يتبع /١٢

تابع ثانياً: الأسئلة المقالية:

٢١ ـ أ. أكتب أرقام العبارات الآتية التي تمثل الأحداث التي وقعت في عصر اليعاربة داخل المربعات في المسطرة الزمنية التالية:

١ ـ تحرير مسقط ومطرح من السيطرة البرتغالية.
٢ ـ اتفاقية اليعاربة مع شركة الهند الشرقية البريطانية.
٣ ـ وفاة الامام ناصر بن مرشد.
٤ ـ المشروع اليعربي مع هولندا لتسهيل نقل بضائعهم عبر الأراضي العمانية إلى ميناء البصرة.

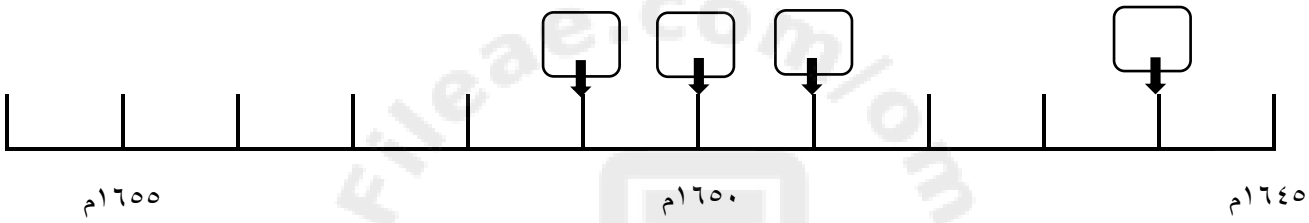

ب. من دراستك لقضية انقراض الحيوانات، أجب عن الأسئلة الآتية:

١ ـ اذكر اثنين من الحيوانات المعرضة للانقراض على مستوى العالم.

٢ ـ ما المسطح المائي الذي يعشش على سواحله الصقر الأدهم في سلطنة عُمان؟

٣ ـ بم تفسر: إعلان السلطنة بعض المناطق كمحميات طبيعية؟

٤ ـ لماذا يصنف علماء البيئة بعض الحيوانات بأنها معرضة للانقراض؟

انتهت الأسئلة مع تمنياتنا للجميع بالنجاح والتوفيق

للحصول على نسخة كاملة من كتاب "الإبحار إلى الدراسات الاجتماعية" 77128502

إعداد/ محمد إسماعيل عبدالله البلوشي ـ معلم أول مادة تاريخ ـ مدرسة نعيم بن مسعود / صحار

سلطنة عُمان
وزارة التربية والتعليم

نموذج إجابة امتحان الصف الثاني عشر
للعام الدراسي ١٤٤٦/١٤٤٧هـ - ٢٠٢٥/٢٠٢٦م
الامتحان التجريبي (٤) - الفصل الدراسي الأول

المـــــادة: الدراسات الاجتماعية (هذا وطني) **الدرجة الكلية: (٧٠) درجة.**

تنبيـــــــه: نموذج الإجابة في (٧) صفحات.

أولاً: إجابة السؤال الموضوعي:

المفردة	الإجابة	الدرجة	الصفحة	المخرج التعليمي	المستوى المعرفي
١	فيصل بن حمود البوسعيدي	١	٤٦ي	الأولى	المعرفة
٢	ديوان الكيذاوي	١	٢٣و٢٦	الأولى	المعرفة
٣	الراوية	١	٤٤	الأولى	الفهم والتطبيق
٤	الثامن عشر	١	٤٢	الأولى	المعرفة
٥	٤	١	٢٦	الأولى	الفهم والتطبيق
٦	▲	١	٣٠	الأولى	القدرات العليا
٧	الأرز	١	٢٢و٣٠	الأولى	المعرفة
٨	الاقتصادية	١	٦١و٦٢	الثانية	الفهم والتطبيق
٩	١٦٩٨	١	٢٦	الأولى	الفهم والتطبيق
١٠		١	٥٣	الثانية	الفهم والتطبيق

للحصول على نسخة كاملة من كتاب "الإبحار إلى الدراسات الاجتماعية" 77128502

تابع نموذج الامتحان التجريبي (٤)

تابع أولاً: الأسئلة الموضوعية:

المفردة	الإجابة	الدرجة	الصفحة	المخرج التعليمي	المستوى المعرفي
١١	تغير المناخ	١	٥٥	الثانية	الفهم والتطبيق
١٢	٢	١	٦٢	الثانية	الفهم والتطبيق
١٣	الحلانيات	١	٦٢و ١١٥	الثانية	الفهم والتطبيق
١٤	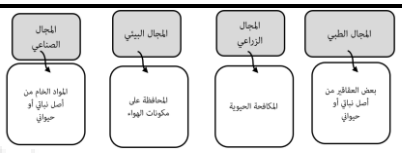	١	٥٤	الثانية	الفهم والتطبيق
المجموع			١٤		

للحصول على نسخة كاملة من كتاب "الإبحار إلى الدراسات الاجتماعية" 77128502

تابع ثانيا: إجابة الأسئلة المقالية:

السؤال	الجزئية	المفردة	الإجابة الصحيحة	الدرجة	الصفحة	المخرج التعليمي	المستوى المعرفي
١٥	أ	١	البيئة الطبيعية (يجب كتابة الاسم كاملا وصحيحا)	½	٥٢	الثانية	المعرفة
		٢	البيئة المشيدة (يجب كتابة الاسم كاملا وصحيحا)	½	٥٢		
	ب		البوسعيدي النبهاني البوسعيدي اليعربي	١ ١ ١ ١	١٨ ٤٣	الأولى	القدرات العليا
	ج	١	عراقة عمان / تماسك شعبها / حكمة حكامها (يكتفى بواحدة فقط)	١	٣٩		
		٢	أبو الحسن خميس بن عامر الخروضي/ محمد بن إسماعيل الحاضري (يكتفى بواحدة منها)	١	١٤		
		٣	تنافس أفراد البيت اليعربي بمساندة رؤساء القبائل / قيام حروب طاحنة/ طمع الفرس في السيطرة على عمان (يكتفى بواحدة منها)	١	٣٥		

للحصول على نسخة كاملة من كتاب "الإبحار إلى الدراسات الاجتماعية" 77128502

تابع نموذج إجابة الامتحان التجريبي (٤)، الدراسات الاجتماعية للصف الثاني عشر ٢٠٢٥/٢٠٢٦ الفصل الدراسي الأول

تابع ثانيا: إجابة الأسئلة المقالية:

السؤال	الجزئية	المفردة	الإجابة الصحيحة	الدرجة	الصفحة	المخرج التعليمي	المستوى المعرفي
١٦	أ	١	إدارة النفايات	١	٦٩	الثانية	القدرات العليا
		٢	النفايات الخطرة النفايات الغازية النفايات السائلة النفايات الصلبة	½ ½ ½ ½	٦٩		
	ب	١	طباعة ديوان الشاعر سعيد بن مسلم ١٩٣٧م في مدينة اوساكا باليابان على نفقته	١	٤٧	الأولى	الفهم والتطبيق
		٢	عقد اتفاقية صداقة وعلاقات اقتصادية مع الولايات المتحدة الأمريكية / زار الولايات المتحدة الأمريكية / أول حاكم عربي يزور الولايات المتحدة الأمريكية	١	٣٧		
		٣	تأسيس مدينة الحمراء / تطوير قرية الحزم / بناء المساجد / الاهتمام بالعمارة العربية / بناء القلاع والحصون (يكتفى بواحدة فقط)	١	٤٥		
	ج	١	مسجد اليعاربة	١	٢٦	الأولى	المعرفة
		٢	قصص وأخبار جرت في عمان	١	٣٣		

للحصول على نسخة كاملة من كتاب "الإبحار إلى الدراسات الاجتماعية" 77128502

تابع نموذج إجابة الامتحان التجريبي (٤)، الدراسات الاجتماعية للصف الثاني عشر ٢٠٢٥/٢٠٢٦ الفصل الدراسي الأول

تابع ثانيا: إجابة الأسئلة المقالية:

السؤال	الجزئية	المفردة	الإجابة الصحيحة	الدرجة	الصفحة	المخرج التعليمي	المستوى المعرفي
١٧	أ	١	تعدد مظاهر السطح (التضاريس) حيث تضم الأرض العمانية أشكالاً مختلفة من التضاريس كالجبال والسهول والواحات والهضاب / الموقع الجغرافي والفلكي للسلطنة وما ترتب عليه من امتدادها على سواحل طويلة وتنوع مناخها مما أسهم في تنوع البيئة العمانية وتفردها.	٢	٥٩	الثانية	الفهم والتطبيق
		٢	تعدد المهن والحرف التي اشتغلوا بها منذ القدم / تنوع أنماط حياتهم وعاداتهم وتقاليدهم/ مما أكسب المجتمع العماني ثراء وتنوع في مختلف مجالات الحياة (يكتفى بواحدة)	١	٦٠	الثانية	المعرفة
	ب		تطوير مشاريع إنتاجية تعني باستدامة البيئة من خلال الاستغلال الأمثل للموارد الطبيعية	١	٦٦	الأولى	الفهم والتطبيق
١٧	ج	١	مصر	١	٣٧	الأولى	الفهم والتطبيق
		٢	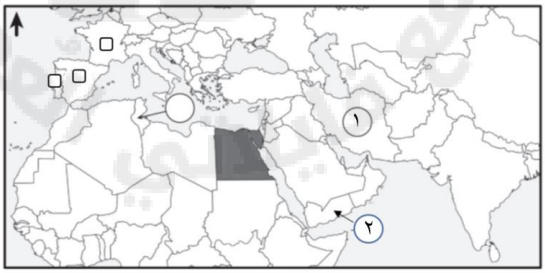	١ ١	٤٢	الثانية الأولى	
		٣		١	٣٤	الأولى	

للحصول على نسخة كاملة من كتاب "الإبحار إلى الدراسات الاجتماعية" 77128502

السؤال	الجزئية	المفردة	الإجابة الصحيحة	الدرجة	الصفحة	المخرج التعليمي	المستوى المعرفي
١٨	أ		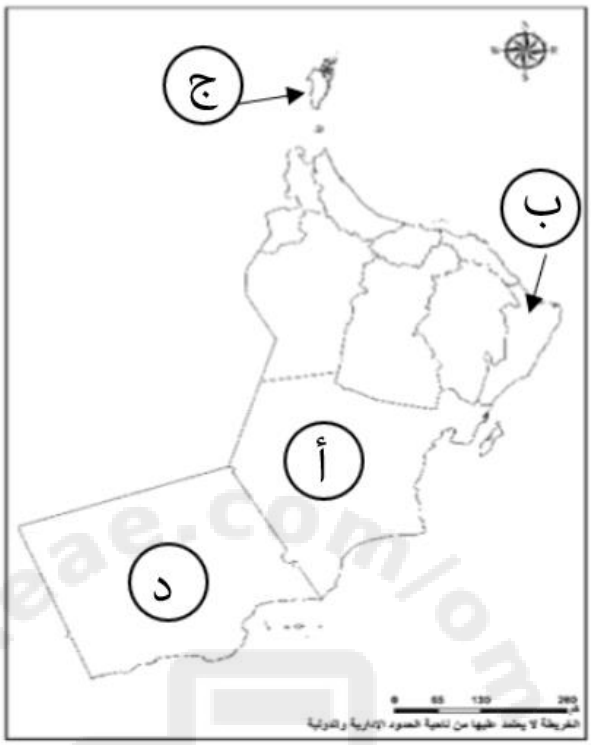	٤	٦٢ ١١٥	الثانية	الفهم والتطبيق
	ب	١	علاقات وطيدة (تبادل الهدايا بين الملك النبهاني أبو المعالي كهلان بن عمر بن نبهان مع ملك اليمن شمس الدين بن ازدمر)	١	١٥	الأولى	المعرفة
		٢	أ ـ توران شاه ب ـ جزيرة باتي	١	١٥ ١٦		
		٣	وسع من مملكته / ضم الجزر المجاورة لجزيرة باتي (واحدة وبما يفيد المعنى)	١	١٦		

للحصول على نسخة كاملة من كتاب "الإبحار إلى الدراسات الاجتماعية" 77128502

تابع نموذج إجابة الامتحان التجريبي (٤)، الدراسات الاجتماعية للصف الثاني عشر ٢٠٢٥/٢٠٢٦ الفصل الدراسي الأول

تابع ثانيا: إجابة الأسئلة المقالية:

السؤال	الجزئية	المفردة	الإجابة الصحيحة	الدرجة	الصفحة	المخرج التعليمي	المستوى المعرفي
	أ	١	حصن الأسود	١	١٩	الأولى	المعرفة
		٢	قام بشن حملات منظمة استهدفت طرد البرتغاليين من مدن الساحل العماني حتى تمكن من تحرير معظمها والتضييق عليهم ومحاصرتهم في مسقط ومطرح وعقد معهم اتفاقية ١٦٤٨م ألزمتهم بدفع الجزية وتسليم بعض الحصون وحرية التجارة.	١	٢٦	الأولى	المعرفة
	ب	١	الشكل (١): طريقة الدفن الشكل(٢): طريقة التغويز البلازمي	١ ١	٧٠	الثانية	القدرات العليا
		٢	٢٠٢٠م ـ الزئبق	١+١	٧١	الثانية	المعرفة
	ج		١ ـ ١٩٨٢م ٢ ـ ١٩٨٤م	١ ١	٦٤ ٦٦	الثانية	المعرفة

للحصول على نسخة كاملة من كتاب "الإبحار إلى الدراسات الاجتماعية" 77128502

تابع نموذج إجابة الامتحان التجريبي (٤)، الدراسات الاجتماعية للصف الثاني عشر ٢٠٢٥/٢٠٢٦ الفصل الدراسي الأول

تابع ثانيا: إجابة الأسئلة المقالية:

السؤال	الجزئية	المفردة	الإجابة الصحيحة	الدرجة	الصفحة	المخرج التعليمي	المستوى المعرفي
٢٠	أ	١	لئلا يتطرق عليها العدو فيتمركز فيها ويكون شره لعُمان من الجسم العماني أو للدفاع عنها وحمايتها	١	٢٧	الأولى	الفهم والتطبيق
		٢	برز كمبعوث قوي في ترسيخ سلطة البرتغاليين في إفريقيا وآسيا / نجح في السيطرة على أجزاء كبيرة من المشرق (يكتفى بواحدة وبما يفيد المعنى)	١	٢٣	الأولى	
		٣	لأنه تكون من رئيس القضاة والقاضي وكاتب الحكم ووكلاء عن المدعي والمدعى عليه	١	١٣		
	ب		راجت تجارته وأصبحت من الموارد الرئيسية الممولة لخزينة الدولة / أصبحت زنجبار أكبر مصدر للقرنفل في العالم	٢	٤٣		المعرفة
	ج	١	تحرير البحرين من سيطرة الفرس	١	٣٧	الاولى	فهم وتطبيق
		٢	السيد سلطان بن أحمد	١	٣٧		
		٣		١	٢٥		

للحصول على نسخة كاملة من كتاب "الإبحار إلى الدراسات الاجتماعية" 77128502

تابع نموذج إجابة الامتحان التجريبي (٤)، الدراسات الاجتماعية للصف الثاني عشر ٢٠٢٥/٢٠٢٦ الفصل الدراسي الأول

تابع ثانيا: إجابة الأسئلة المقالية:

السؤال	الجزئية	المفردة	الإجابة الصحيحة	الدرجة	الصفحة	المخرج التعليمي	المستوى المعرفي
٢١	أ		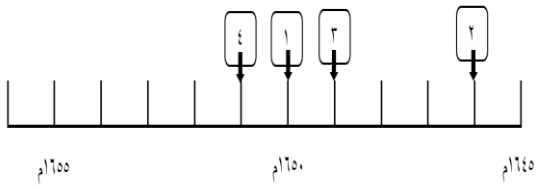	٤	٣٤ ٢٦	الأولى	القدرات العليا
٢١		ب	١ النمر السيبيري / وحيد القرن الأسود / سلحفاة منقار الصقر/ (يكتفى باثنتين فقط وتقبل الإجابات الأخرى مثل: الباندا / الغوريلا / الفيل الأفريقي / ببغاء الغابون / الشمبانزي ...)	١	٧٢	الثانية	المعرفة
			٢ بحر عُمان	١	٧٤		
			٣ لصون بيئتها الطبيعية أو الثقافية أو لحماية نوع من أنواع الحيوانات أو النباتات البرية أو البحرية	١	٧٥		
			٤ تناقص أعدادها على مستوى العالم	١	٧٢		

انتهى نموذج الإجابة مع تمنياتي لكم بالتوفيق في الاختبار النهائي

للحصول على نسخة كاملة من كتاب "الإبحار إلى الدراسات الاجتماعية" 77128502