تم تحميل هذا الملف من موقع المناهج العمانية

موقع المناهج العمانية

www.alManahj.com/om

الملف حل تمارين الكتاب 1_3
موقع المناهج ⇦ المناهج العمانية ⇦ الصف الثاني عشر ⇦ رياضيات متقدمة ⇦ الفصل الثاني

روابط مواقع التواصل الاجتماعي بحسب الصف الثاني عشر			
روابط مواد الصف الثاني عشر على تلغرام			
التربية الاسلامية	اللغة العربية	اللغة الانجليزية	الرياضيات

المزيد من الملفات بحسب الصف الثاني عشر والمادة رياضيات متقدمة في الفصل الثاني	
1	كتاب النشاط وفق منهج كامبردج الجديد
2	كتاب الطالب وفق منهج كامبردج

تمارين (١-٣) ١٢ متقدم

١ إيجاد مساحة القطاع الدائري بدلالة π .

(أ) نق = ١٢ سم ، $\theta = \frac{\pi}{4}$

م = $\frac{1}{2}$ نق^2 θ

= $\frac{1}{2} \times ١٢ \times ١٢ \times \frac{\pi}{4}$ = ٣٦ π سم^2

(ب) نق = ١٠ سم ، $\theta = \frac{٣\pi}{٥}$

م = $\frac{1}{2} \times ١٠ \times ١٠ \times \frac{٣\pi}{٥}$

= ٣٠ π سم^2

(ج) نق = ٠,٥ ، $\theta = \frac{\pi}{9}$

م = $\frac{1}{2} \times ٠,٥ \times ٠,٥ \times \frac{\pi}{9}$

= ٠,٠٢٥ π سم^2

(د) نق = ٩ سم ، $\theta = \frac{٣\pi}{٤}$

م = $\frac{1}{2} \times ٩ \times ٩ \times \frac{٣\pi}{٤}$

= ٣٤ π سم^2

٢ مساحة القطاع الدائري

(أ) نق = ٣٤ سم ، $\theta = ١,٥$

م = $\frac{1}{2} \times ٣٤ \times ٣٤ \times ١,٥$

= ٨٦٧ سم^2

(ب) نق = ٦,٢ سم ، $\theta = ٩$

م = $\frac{1}{2} \times ٦,٢ \times ٦,٢ \times ٩$

= ٣٤٠,٢ سم^2

٣ إيجاد قياس الزاوية المركزية :

(أ) نق = ٤ سم ، م = ٩ سم^2

م = $\frac{1}{2}$ نق^2 θ

٩ = $\frac{1}{2} \times ٤ \times ٤ \times \theta$

٩ = ٨ θ

θ = $\frac{٩}{٨}$ = ١,١٢٥ ق

(ب) نق = ٦ سم ، م = ٢٧ سم^2

م = $\frac{1}{2}$ نق^2 θ

٢٧ = $\frac{1}{2} \times ٦ \times ٦ \times \theta$

٢٧ = ١٨ θ

θ = $\frac{٢٧}{١٨}$ = ١,٥ ق

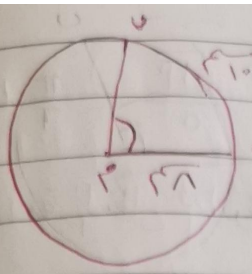

٤ (أ) $ق(\angle ب م ء) = \frac{١٠}{٨} = ١,٢٥$ ك

(ب) $م = \frac{١}{٢}$ نق^{٢} ع ك

$= \frac{١}{٢} \times ٨ \times ٨ \times ١,٢٥$

$= ٤٠$ سم^{٢}

طول القوس = نق × ع

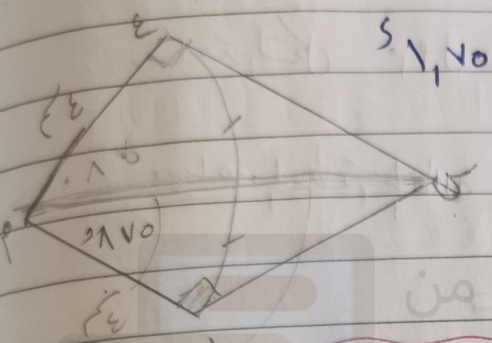

٥ نق = ٤ سم ، ل $\overset{\frown}{ع}$ = ٧ سم

(أ) $ق(\angle م ء ع) = \frac{٧}{٤} = ١,٧٥$ ك

(ب) ظا $(\frac{١,٧٥}{٢})^{ك} = \frac{ل س}{٤}$

ل س = ٧٩,٤ سم

المماس عمودي على نصف قطر الدائرة

(ج) مساحة المنطقة المظللة = ٢ × مساحة المثلث − مساحة القطاع الدائري

$= ٢ \times \frac{١}{٢} \times ق م \times ق ء - \frac{١}{٢} نق^{٢} \times ع$

$= ٤ \times ٧٩,٤ - \frac{١}{٢} \times ٤ \times ٤ \times ١,٧٥$ ك

$= ١٦,٥$ سم^{٢}

٦ نحتاج ارتفاع Δ ب م ء أي $\overline{ب ق}$

ظا $(\frac{\pi}{٣})^{ك} = \frac{ب ق}{٨} \Leftarrow \frac{ب ق}{ق م} = ٨$ ظا $(\frac{\pi}{٣})^{ك} = ١٣,٨٦$ سم

Δ ب م ء $= \frac{١}{٢} \times ٨ \times ١٣,٨٦ = ٥٥,٤٣$ سم^{٢}

القطاع الدائري $= \frac{١}{٢}$ نق^{٢} ع ك $= \frac{١}{٢} \times ٨ \times ٨ \times \frac{\pi}{٣} = ٣٣,٥١$ سم^{٢}

المنطقة المظللة $= ٥٥,٤٣ - ٣٣,٥١ = ٢١,٩٢$ سم^{٢}

$= ٢٢,١٢ - ٧$ سم^{٢}

تم تحميل هذا الملف من موقع المناهج العمانية
almanahj.com/om

$\frac{\pi}{٦}$ ظا $= \frac{\overline{ل ف}}{٥}$ ← $\overline{ل ف} = ٥$ ظا $\frac{\pi}{٦} = ٢,٨٨٧$ سم

مساحة القطاع الدائري $= \frac{١}{٢} ل ق^{٢} هـ = \frac{١}{٢} \times ٥ \times ٥ \times \frac{\pi}{٣}$

$= \frac{٢٥}{٦} \pi$

مساحة المثلث م ف ل $= \frac{١}{٢} \times ٥ \times ٢,٨٨٧ = ٧,٢١٧$ سم^{٢}

مساحة الشكل م ف ل ن $= ٥ \times ٧,٢١٧ = ٣٦,٠٨٥$ سم^{٢}

مساحة المنطقة المظللة = مساحة الشكل م ف ل ن − مساحة القطاع الدائري

$= ٣٦,٠٨٥ - \frac{٢٥}{٦} \pi = ١,٣٣٤$

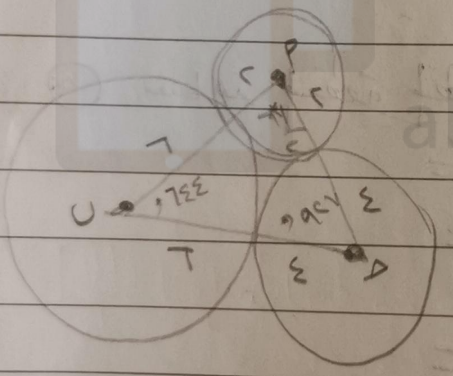

$ق م^{٢} = ق ل^{٢} + م ل^{٢} - ٢ ق ل \times م ل \times$ جتا ب

$٦^{٢} = ٤^{٢} + ٣^{٢} - ٢ \times ٤ \times ٣ \times$ جتا ب

$٣٦ = ١٦ + ٩ - ٢٤$ جتا ب

١٦٠ جتا ب $= ١٤٨$

جتا ب $= \frac{١٤٨}{١٦٠} = \frac{٤}{٥}$

ق (∠ ب) $= ٣٦,٨$ ق (∠ ق) $= ٤٣,٦$

$١٠^{٢} = ٦^{٢} + ٨^{٢} - ٢ \times ٦ \times ٨$ جتا ق

$١٠٠ = ٣٦ + ٦٤ - ٩٦$ جتا ق

جتا ق $= ٠$ ← ق (∠ ق) $= ٩٠^{\circ} \leftarrow \frac{\pi}{٢}$

ق (∠ ك) $= ١٨٠ - (\frac{\pi}{٢} + ٤٣,٦) =$

$= ٩٤٦,٠$

مساحة المثلث $ABC = \frac{1}{2} \times 6 \times 8 \times \sin 53.13^\circ = 24$ سم^2

مساحة القطاع الدائري (1) $= \frac{1}{2} \times 4^2 \times 1.927 = 7.708$ سم^2

مساحة القطاع الدائري (2) $= \frac{1}{2} \times 5^2 \times \frac{\pi}{2} = 19.635$ سم^2

مساحة القطاع الدائري (3) $= \frac{1}{2} \times 6^2 \times 3.534 = 63.612$ سم^2

مجموع مساحات القطاعات الدائرية $= 91.055$ سم^2

مساحة المنطقة المظللة = مساحة المثلث ABC − مجموع مساحات القطاعات الدائرية

$= 24 - 91.055 = -67.055$ سم^2

٩) نقطة $= 8$ سم، $ق(\angle م ف ل) = 2$ راديان، $\overset{\frown}{ف ل}$ قوس في دائرة مركزها $م$

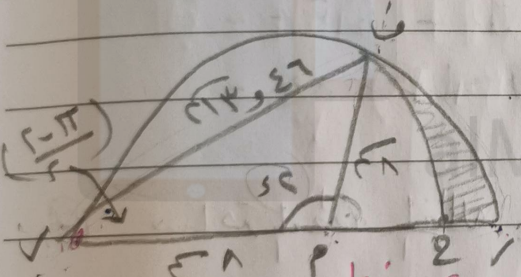

أ) مساحة $\triangle م ف ل$

$= \frac{1}{2} \times 8 \times 8 \times \sin 2$ سم^2

$= 29.091$ سم^2

مساحة المثلث تحليلية ضلعين وزاويه محصورة بينهما

المساحة $= \frac{1}{2} \times$ (ضلع أول) $\times$ (ضلع ثاني) $\times$ جا (الزاوية بين الضلعين)

$= \frac{1}{2} \times م ف \times م ل \times \sin 2$ سم^2

ب) القطاع الدائري $ف م ل = \frac{1}{2} \times 8^2 \times (2 - \pi)$ سم^2

$= 36.503$ سم^2

ج) القطاع الدائري $= \frac{1}{2} \times (13.46)^2 \times \left(\frac{2 - \pi}{2}\right) = 51.273$ سم^2

(شرح)

$ف ل^2 = 8^2 + 8^2 - 2 \times 8 \times 8 \times \cos 2$ سم^2

$\therefore ف ل = 13.46$ سم = نقطة الدائرة الثانية

ج) مساحة المنطقة المظللة =
مساحة المثلث م ف ر + مساحة القطاع ف م ز − مساحة القطاع ف ر ع
= ٣٦,٥٣ + ٩٨,٩٠ − ٥١,٧٣
= ١٣,٨٩٨ سم²

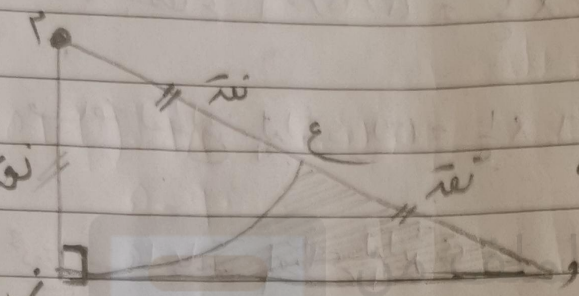

١٠
أ) (و ز)² = (٢ نقه)² − نقه²
٤ نقه² − نقه² = ٣ نقه²
و ز = √٣ نقه
طول ع ز = نقه × π/٣

ب) ق(∠ م) = نقه / ٢ نقه = ١/٢ ⇒ ق(∠ م) = ٦٠°

ج) ح = و ز + و ع + ع ز
= √٣ نقه + نقه + π/٣ نقه
= نقه/٣ (π + ٣√٣ + ٣)

ب) مساحة المنطقة المظللة = مساحة المثلث − مساحة القطاع الدائري

= ١/٢ × √٣ نقه × نقه − ١/٦ × نقه² × π/٣

= (٣√٣ × ٣)/(٢ × ٣) نقه² − π/٦ نقه²

= نقه²/٦ (٣√٣ − π)

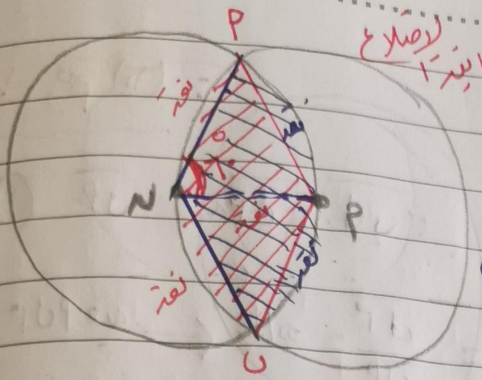

خواص المثلث متطابق الأضلاع

حل رقم (١١) :

$\triangle$ م ن ل فيه :

م ن = م ل = ن ل = نق ⟵ مساوي لأضلاع

ق (ق) = ق (م) = ق (ن) = ٦٠°

١٢٠° ← $\left(\frac{\pi}{3}\right)$ ق

مساحة القطاع الدائري م ن ل = $\frac{1}{6} \times$ نق$^2 \times \frac{\pi}{3}$ = $\frac{\pi}{3}$ نق^2

مساحة القطاع الدائري م ن ك = $\frac{1}{6} \times$ نق$^2 \times \frac{\pi}{3}$ = $\frac{\pi}{3}$ نق^2

مساحة القطاعين معاً = $\frac{2}{3}\pi$ نق^2

مساحة المنطقة المظللة = مساحة القطاعين معاً − ٢ × مساحة المثلث م ن ل

= $\frac{2}{3}\pi$ نق^2 − ٢ × $\frac{1}{2}$ × نق × نق × جا ٦٠°

= $\frac{2}{3}\pi$ نق^2 − نق$^2 \times \frac{\sqrt{3}}{2}$

= نق^2 $\left(\frac{2}{3}\pi - \frac{\sqrt{3}}{2}\right)$

مساحة المثلث

= $\frac{1}{2}$ × طول الضلع الأول × طول الضلع الثاني

× جا (الزاوية بين الضلعين)

حل تمرين (٣٢) :

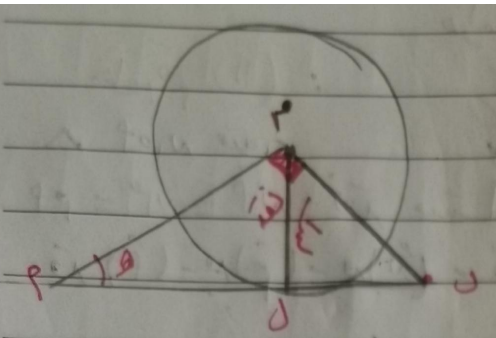

(أ) $\overline{ل ن} + \overline{ل ق} = \overline{ق ن}$

في $\triangle$ ق ل م : $\text{ظا}\, هـ = \frac{\overline{ق ل}}{\overline{ل م}} = \frac{1}{\overline{ل ق}}$

$\overline{ل ق} = \frac{1}{\text{ظا}\, هـ}$

في $\triangle$ ل ن م : $\text{ظا}\, \hat{ن} = \frac{1}{\overline{ل ن}}$

$\text{ظا}(\frac{\pi}{2} - هـ) = \frac{1}{\overline{ل ن}} \leftarrow \overline{ل ن} = \frac{1}{\text{ظا}(\frac{\pi}{2} - هـ)}$

$\overline{ل ن} = \frac{1}{\text{ظتا}\, هـ} = \text{ظا}\, هـ$

$\overline{ق ن} = \overline{ل ن} + \overline{ل ق} = \text{ظا}\, هـ + \frac{1}{\text{ظا}\, هـ}$

$ق(\hat{ن}) = 180 - (90 + هـ)$

$= 90 - هـ$

$= \frac{\pi}{2} - هـ$

قوانين مجسان متتان

$\text{جا}(90 - س) = \text{جتا}\, س$

$\text{جتا}(90 - س) = \text{جا}\, س$

$\text{ظا}(90 - س) = \text{ظتا}\, س$

$\text{قا}\, س = \frac{1}{\text{جا}\, س}$

$\text{قتا}\, س = \frac{1}{\text{جتا}\, س}$

$\text{ظتا}\, س = \frac{1}{\text{ظا}\, س}$

مساحة القطاع الأكبر الدائرة = مساحة المثلث م ن ل + مساحة القطاع الأصغر الدائرة

$\frac{1}{2} \times$ نق^2 $\times$ هـ^c $= \frac{1}{2} \times$ م ن $\times$ م ل

$\frac{1}{2} \times 1^2 \times \frac{3\pi}{4} = \frac{1}{2} \times \sqrt{3} \times 1$

$\frac{3\pi}{2} = \frac{1}{\text{ظا هـ}} + \text{ظا هـ}$

$\frac{3\pi}{2} = \frac{1 + \text{ظا}^2 \text{هـ}}{\text{ظا هـ}}$

$1 + \text{ظا}^2 \text{هـ} = \frac{3\pi}{2} \text{ظا هـ} \leftarrow \text{ظا}^2 \text{هـ} - \frac{3\pi}{2} \text{ظا هـ} + 1 = 0$

$\text{ظا هـ} = \frac{\frac{3}{2}\pi \pm \sqrt{\frac{9}{4}\pi^2 - 4}}{2} = \frac{3\pi \pm \sqrt{9\pi^2 - 16}}{4}$

$\text{ظا هـ} = 4,819 \leftarrow$ هـ $= 1,352$ $\leftarrow$ هـ $\approx 77,5°$ مرفوضة

$\text{ظا هـ} = 2,747 \leftarrow$ هـ $= 1,219$ $\leftarrow$ هـ $= 69,5°$

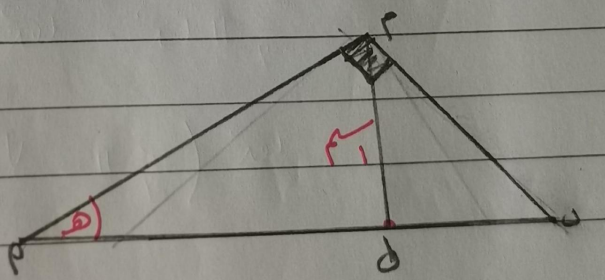

الضلع المقابل للزاوية الأكبر هو الضلع الأطول

$\therefore$ ق(ب) $= 1,352$

ق(هـ)$^c = 1,219$

لأن م ن $>$ م ل

حل رقم ١٣ :

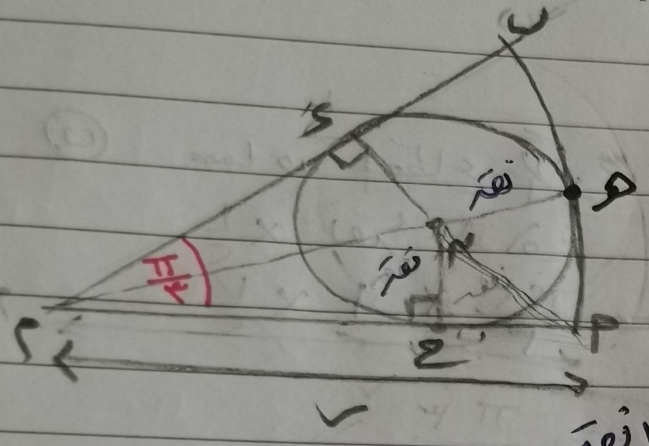

(أ) ر = ٣ نقطة

Δ م ن ح قائم الزاوية في ح :

$\frac{\pi}{٦} = \frac{\text{ح ن}}{\text{م ن}} \leftarrow \frac{\text{نقطة}}{\text{م ن}} = \frac{١}{٢}$

← م ن = ٢ نقطة

م م = ه ن + م ن = نقطة + ٢ نقطة = ٣ نقطة

ولكن كل من ا ، ه ، ب تقع على محيط الدائرة التي مركزها م

$\overline{\text{م ا}} = \overline{\text{م ه}} = \overline{\text{م ب}}$ انصاف اقطار

∴ م م = م ا = ر = ٣ نقطة

(ب) $\frac{\text{مساحة الدائرة الداخلية}}{\text{مساحة القطاع الدائري الخارجي}} = \frac{\text{ح}}{٣}$

$= \frac{\pi \text{ نقطة}^٢}{\frac{\pi}{٣} \times ٩ \text{ نقطة}^٢ \times \frac{١}{٢}} = \frac{\pi \text{ نقطة}^٢}{\frac{\pi}{٢} \times \text{ر}^٢ \times \frac{١}{٢}}$

$= \frac{١}{\frac{٩}{٢}} = \frac{٢}{٩}$

$\frac{\text{ح}}{٣} = \frac{٢}{٩}$