مذكرة تمارين محلولة في الوحدة الأولى القياس الدائري الجزء الأول

تم تحميل هذا الملف من موقع المناهج العمانية

موقع فايلاتي ⇦ المناهج العمانية ⇦ الصف الخامس ⇦ رياضيات متقدمة ⇦ الفصل الأول ⇦ ملفات متنوعة ⇦ الملف

تاريخ إضافة الملف على موقع المناهج: 13-11-2025 12:50:59

المزيد من مادة رياضيات متقدمة:

ملفات ا كتب للمعلم ا كتب للطالب ا اختبارات الكترونية ا اختبارات ا حلول ا عروض بوربوينت ا أوراق عمل منهج انجليزي ا ملخصات وتقارير ا مذكرات وبنوك ا الامتحان النهائي ا للمدرس

التواصل الاجتماعي بحسب الصف الخامس

صفحة المناهج العمانية على فيسبوك

المزيد من الملفات بحسب الصف الخامس والمادة رياضيات متقدمة في الفصل الأول

سلطنة عُمان
وزارة التربية والتعليم

اختبار قصير (٢) للصف الخامس – الفصل الدراسي الأول

للعام الدراسي ٢٠٢٥/٢٠٢٦ م

$\frac{\quad}{١٠}$

اسم الطالب / ة: ..... الصف: خامس/ .....

أجب عن جميع الأسئلة الآتية:

رقم المفردة	المفردة	الدرجة
(١)	حوط عدد خطوط التماثل في المثلث المقابل ٣ ٢ ١ صفر 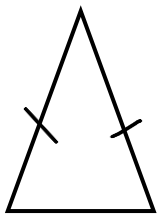	[١]
(٢)	صل كل عبارة في العمود الأول بما يناسبها في العمود الثاني عدد أزواج الخطوط المتوازية في الشكل عدد أزواج الخطوط المتوازية في الشكل ١ ٢ ٣	[٢]
(٣)	لاحظ البطاقات المرقمة الآتية: ٣٨ ٤٠ ٥٥ ٦٥ أكتب العدد من هذه البطاقات يقبل القسمة على العدد ٢ و ٥ العدد هو _____	[١]

Fileae.com/om
موقع فايلاتي العمانية 2026 2025

(٤)	ارسم انعكاس الشكل المجاور في خط المرآة 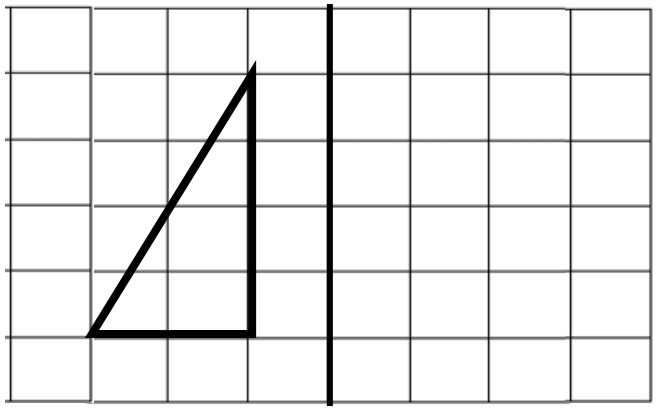	[٢]
(٥)	ظلل مستطيل مساحته ٦ سم^{٢} في شبكة المربعات. 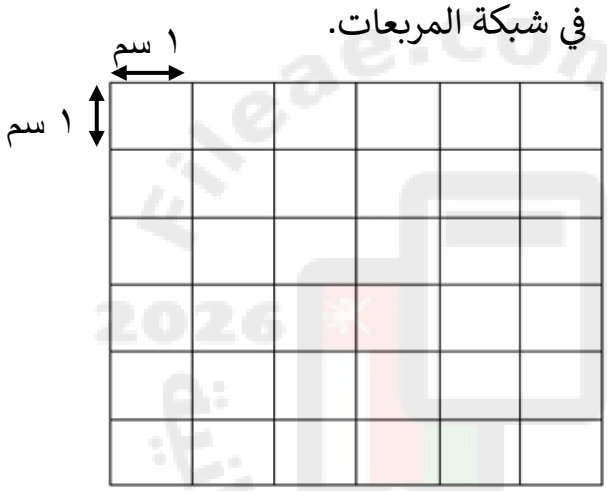	[٢]
(٦)	عاملين للعدد ١٨ مجموعهما ١١ هما _____ ، _____	[١]
(٧)	حديقة على شكل سداسي منتظم طول ضلعه ١٠ سم^{٢} فإن محيطها هو ٦سم ١٠ سم ٦٠ سم ٦٦سم	[١]

انتهت الأسئلة .....

إعداد: أ. أحمد الشبيبي