خمسة نماذج من الاختبارات النهائية مع نماذج الحل

تم تحميل هذا الملف من موقع المناهج العمانية	
موقع فايلاتي ⇦ المناهج العمانية ⇦ الصف الخامس ⇦ رياضيات ⇦ الفصل الأول ⇦ ملفات متنوعة ⇦ الملف	
تاريخ إضافة الملف على موقع المناهج: 26-11-2025 09:45:15	
ملفات ا كتب للمعلم ا كتب للطالب ا اختبارات الكترونية ا اختبارات ا حلول ا عروض بوربوينت ا أوراق عمل منهج انجليزي ا ملخصات وتقارير ا مذكرات وبنوك ا الامتحان النهائي ا للمدرس	المزيد من مادة رياضيات:

التواصل الاجتماعي بحسب الصف الخامس					
صفحة المناهج العمانية على فيسبوك					

المزيد من الملفات بحسب الصف الخامس والمادة رياضيات في الفصل الأول	
1	أسئلة اختبار قصير ثاني نموذج رابع بدون حل
2	أسئلة اختبار قصير ثاني نموذج ثالث بدون حل
3	أسئلة اختبار قصير ثاني نموذج ثاني بدون حل
4	أسئلة اختبار قصير ثاني نموذج أول بدون حل
5	تجميع أسئلة الامتحانات النهائية السابقة

أكاديمية همم التعليمية
Himam Education Academy
همم
ترقى
سلم
المجد

تحديث 2025

5

الصف الخامس

نماذج إختبارات نهائية

(مع نموذج الحل)

الفصل الدراسي الأول

أ.أحمد الشبيبي

AHMED_ALSHABIBII

HIMAM_ACADEMY

5

سلطنة عُمان
وزارة التربية والتعليم

المديرية العامة للتربية والتعليم بمحافظة جنوب الباطنة

امتحـان مادة الرياضيات للصف الخامس

للعام الدراسي ١٤٤٤/ ١٤٤٥هـ - ٢٠٢٣/ ٢٠٢٤م

الدور الأول – الفصل الدراسي الأول

- **زمن الامتحان : (ساعة ونصف)** **عدد صفحات أسئلة الامتحان : (٩) صفحات.**
- **الإجابة في الورقة نفسها.** **درجة الكلية للامتحان: (٤٠ درجة)**

اسم الطالب			
المدرسة		**الصف**	

تعليمات الامتحان:

- أجب عن جميع الأسئلة في الفراغ المخصص في ورقة الأسئلة، ودرجة كل سؤال أو جزء من السؤال مكتوبة في اليسار بين حاصرتين.
- وضّح كل خطوات حلّك في دفتر الأسئلة.
- يُسمح باستخدام المسطرة والمنقلة والمثلث القائم.
- **لا يُسمح** باستخدام الآلة الحاسبة.

رقم الصفحة	الدرجة		التوقيع بالاسم	
	بالأرقام	بالحروف	المصحح الأول	المصحح الثاني
١	٤			
٢	٧			
٣	٤			
٤	٦			
٥	٥			
٦	٤			
٧	٢			
٨	٥			
٩	٣			
المجموع			**جمعه**	**مراجعة الجمع**
المجموع الكلي	٤٠			

امتحان نهاية الفصل الدراسي الأول لمادة الرياضيات الصف : الخامس
للعام الدراسي ٢٠٢٣/٢٠٢٤م

١)	حوّط القيمة المكانية للرقم ٦ في العدد ٤٢٣٦٥٨: ٦٠ ٦٠٠ ٦٠٠٠ ٦٠٠٠٠	[١]
٢)	اختر صواب إذا كانت العبارة صحيحة وخطأ اذا كانت العبارة خاطئة:	[١]

العبارة	صواب	خطأ
الشبكة المقابلة تمثل شبكة مكعب مفتوح 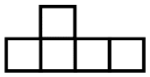		
الشكل المقابل به خطان متعامدان .		

٣)	أكمل لتكون العبارة صحيحة: مثلث جميع زواياه متساوية وجميع أضلاعه متطابقة هو مثلث _____	[١]
4)	من الشكل المقابل. اكتب احداثيات النقطة ع . 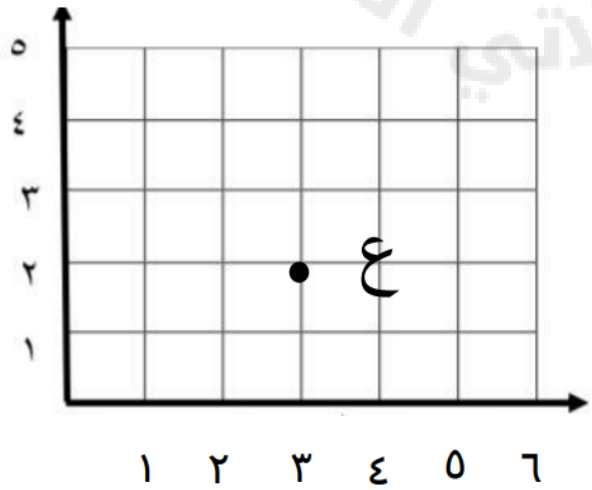 ع = (،)	[١]

٤

٥)	أكتب العدد المناسب داخل المربع على خط الأعداد 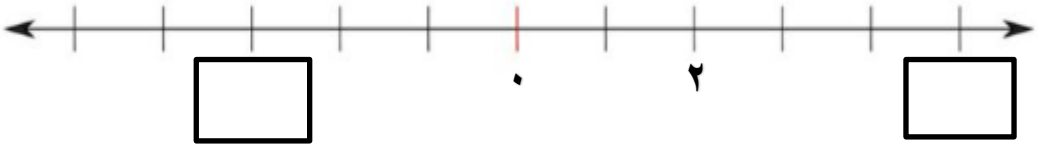 	[٢]
٦)	اوجد ناتج: ٦٠٣ + ٧٥٩ الناتج = _____	[١]
٧)	أكمل المخطط التالي: 	[٢]
٨	مستطيل أبعاده ٥ م و ٤ م . احسب مساحته ؟ اكتب خطوات الحل مساحة المستطيل= _____ م^{٢}	[٢]

	٧

Fileae.com/om 2023 2024 موقع فايلاتي العمانية

٩)	استخدم أحمد كل بطاقة من البطاقات المقابلة مرة واحدة لتصبح الجملة العددية صحيحة. اكتب الأرقام المناسبة في المربعات. ☐ + ٠,٦ = ١٠ ١ - ☐ = ٠,٥ ٠,٣ + ☐ = ١ 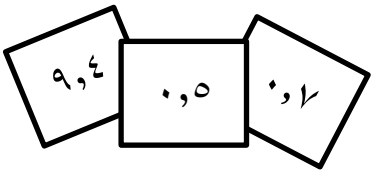 	[٢]
١٠	حوط العدد العشري الذي يكون فيه رقم الجزء من عشرة يساوي ضعف الاحاد: ٢,١ ٢,٦ ٣,٦ ٦,٣	[١]
١١	يقول سالم : 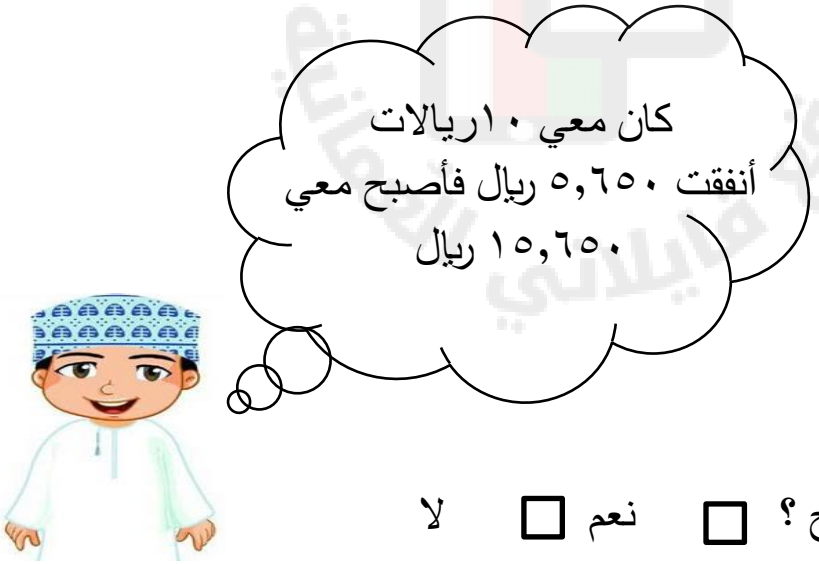 هل ما يقوله سالم صحيح ؟ ☐ نعم ☐ لا فسر اجابتك	[١]

	٤

Fileae.com/om 2026 2025

١٢	يوجد ١١٦ بطاقة يراد توزيعهم في علب. كل علبة تحتوي على ٤ بطاقات. ما عدد العلب المطلوبة لتوزيع جميع البطاقات؟ عدد العلب = _____	[١]
١٣	ضع علامة (> ، < ، =) لتكون العبارة صحيحة: ١) ٧ × ٤ ☐ ٢٥ ٢) ٨ × ٣ ☐ ٥ × ٦	[٢]
١٤)	حوط **جميع** عوامل العدد ٢٨: ٢ ٣ ٤ ٦ ٨	[١]
١٥)	صل بين ساعات العقارب في العمود الأيمن وما يناسبها من الساعات الرقمية في العمود الأيسر: ٤ : ٢٥ ٢٢ : ١٠ ٦ : ٤٠ ٣ : ٢٠	[٢]

	٦

١٦)	استخدم حقيقة ٥ × ٦ = ٣٠ لايجاد ناتج ٥٠ × ٦ = ☐	[١]
١٧)	أكمل الفراغ: أ) ١٥٠ × ١٠ = ١٥٠٠٠ ÷ ☐	[١]
١٨)	عند منى ٥٦٠ كرة وعند سلوى ٧٥٠ كرة وعند سعاد ٧٧٠ كرة . حوط مجموع الكرات: ١٣١٠ ١٣٣٠ ١٥٢٠ ٢٠٨٠	[١]
١٩)	ارسم خطوط التماثل للمثلثات التالية : 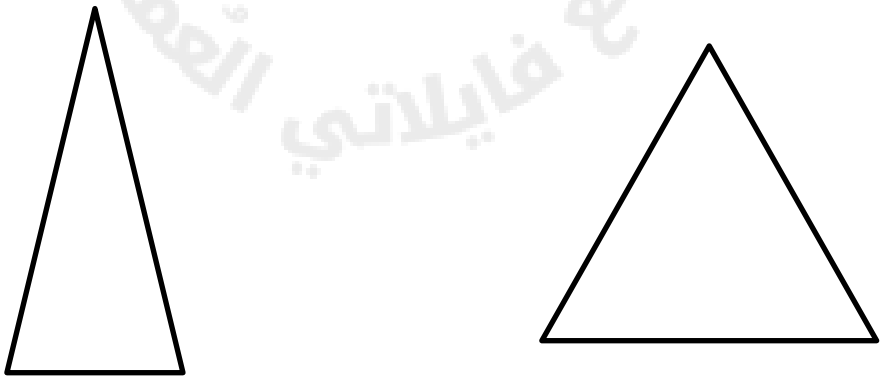	[٢]

٥	

٢٠	مع سالم ١ كغم من الدقيق استخدم منها ١٧٣ غم . ما الكمية المتبقية من الدقيق بالغرامات ؟ الكمية المتبقية = _____ غم	[١]
٢١)	ارسم مستطيل مساحته ١٠ سم مربع (اعتبر كل مربع مساحته ١ سم مربع)  	[١]
٢٢)	أكتب ثلاثة أعداد فردية مجموعها ٢١ ؟ _____ ، _____ ، _____	[١]
٢٣)	أكمل المتتالية: ☐ ، ١٥ ، ١٩ ، ☐ ، ٢٧ .	[١]

٢٤)	يقول مهند أكتب العدد الذي يشير الية مهند. _____ سنة	[١]
٢٥)	تفكر سلمى في عدد. العدد الذي تفكر فيه سلمى _____	[١]

٢٦)	أكمل تقريب العدد ٣٢٨٦ لأقرب مائه هو ☐	[١]
٢٧)	اوجد ناتج ٥٦٧٨ ـ ٢٨٣٥ = ☐	[١]
٢٨)	حوط ناتج ٧١٢ × ٥: ٣٥٠٠ ٣٥٥٠ ٣٥٦٠ ٣٦٠٠	[١]
٢٩)	لدى بثينة ٣٢ قلم تريد توزيعها على ٨ طالبات بالتساوي. احسب عدد الأقلام لكل طالبة؟ عدد الأقلام لكل طالبة = _____	[١]
٣٠)	بدأ سامي في المذاكرة الساعة ٦:٢٥ مساء وانتهى الساعة ٨:٤٠ مساء. ما المدة التي قضاها سامي في المذاكرة. المدة الزمنية = _____	[١]

٥	

٣١)	يملك محمد ضعف ما لدى اخاه فإذا كان اخاه يملك ٣,٥ ريال. فكم يملك محمد ؟ _____ ريال	[١]
٣٢)	قامت منى بحل الواجب كما هو موضح في الشكل: **الواجب:** استخدم محمد خيطا لرسم مثلث متطابق الاضلاع ، قام بقياس طول ضلع واحد فيه وكان ٦سم . اكتب طول الخيط الذي استخدمه محمد ؟ **الحل:** طول الخيط = ١٨ سم هل منى على صواب؟ ☐ نعم ☐ لا فسر اجابتك.	[١]
٣٣)	في الشكل المقابل : تقول سعاد أن طول ضلع السداسي المنتظم في الشكل المقابل هو ٤سم هل سعاد على صواب؟ ☐ نعم ☐ لا فسر ذلك ؟ ..... 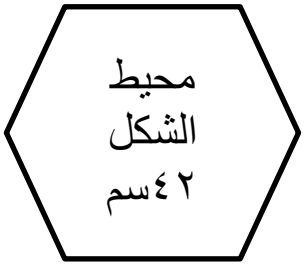 	[١]
	انتهت الأسئلة مع الدعاء للجميع بالتوفيق والنجاح.	

امتحان نهاية الفصل الدراسي الأول لمادة الرياضيات الصف : الخامس
للعام الدراسي ٢٠٢٣/٢٠٢٤م

المديرية العامة للتربية والتعليم بمحافظة جنوب الباطنة
مدرسة عاتكة بنت ابي صفرة

نموذج إجابة امتحان الرياضيات الصف الخامس الفصل الأول الدور الاول

نهاية العام الدراسي ٢٠٢٣/٢٠٢٤م

المـــــادة: الرياضيات الدرجة الكلية: (٤٠) درجة
تنبيـــــه: نموذج الإجابة في (٥) صفحات.

رقم مفردة	هدف التقويم	مستوى الطلب	الاجابة	الدرجات	الإرشادات
١	معرفة	منخفض	٦٠٠	١	
٢	معرفة	منخفض	صحيحة خاطئة	١	يأخذ الطالب درجة اجابتين صحيح
٣	معرفة	منخفض	مثلث متطابق الاضلاع	١	
٤	معرفة	منخفض	(٣ ، ٢)	١	
٥	معرفة	منخفض		٢	
٦	معرفة	منخفض	١٣٦٢	١	

امتحان نهاية الفصل الدراسي الأول لمادة الرياضيات الصف : الخامس
للعام الدراسي ٢٠٢٣/٢٠٢٤م

رقم مفردة	هدف التقويم	مستوى الطلب	الاجابة	الدرجات	الإرشادات
٧	تطبيق	منخفض	٤٣ $\xrightarrow{-٢٠٠}$ ٢٤٣ $\xrightarrow{+١٢٠}$ ٣٦٣	٢	
٨	تطبيق	منخفض	مساحة المستطيل = الطول × العرض = ٥ × ٤ = ٢٠ سم	١ ١	
٩	تطبيق	منخفض	٩,٤ ٠,٥ ٠,٧	١ ١	**درجتين لجميع الإجابات** **درجة اجابتين صـ**
١٠	استدلال	منخفض	٣,٦	١	
١١	استدلال	منخفض	خطأ انفق نطرح ١٠ ـ ٥,٦٥٠ = ٤,٣٥٠	١	
١٢	استدلال	منخفض	٢٩ علبة	١	
١٣	معرفة	متوسط	< >	١ ١	

امتحان نهاية الفصل الدراسي الأول لمادة الرياضيات الصف : الخامس
للعام الدراسي ٢٠٢٣/٢٠٢٤م

رقم مفردة	هدف التقويم	مستوى الطلب	الاجابة	الدرجات	الإرشادات
١٤	معرفة	متوسط	٢ , ٤	١	
١٥	معرفة	متوسط	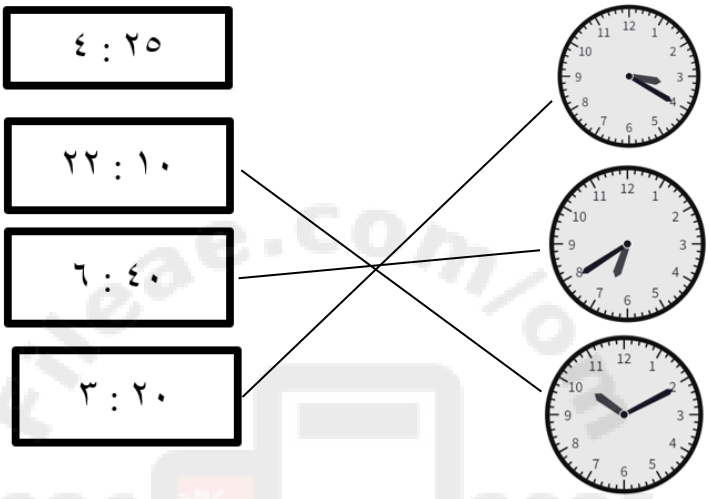	٢	٣ توصيلات صحيـ درجتين اجابتين صحيحة يأخ
١٦	معرفة	متوسط	٣٠٠	١	
١٧	تطبيق	متوسط	١٠	١	
١٨	تطبيق	متوسط	٢٠٨٠	١	
١٩	تطبيق	متوسط	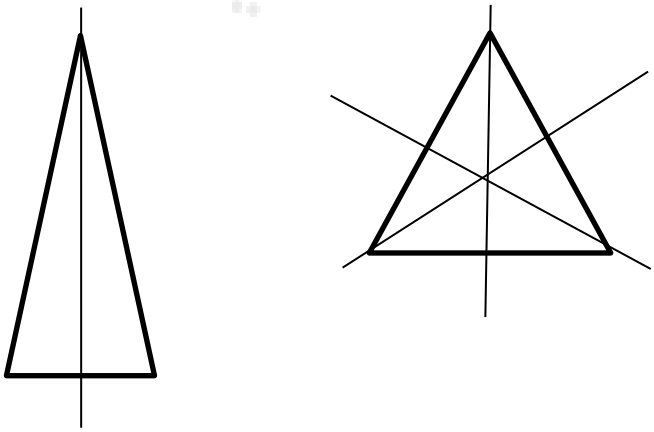	١ ١	
٢٠	تطبيق	متوسط	٨٢٧	١	

امتحان نهاية الفصل الدراسي الأول لمادة الرياضيات الصف : الخامس
للعام الدراسي ٢٠٢٣/٢٠٢٤م

رقم مفردة	هدف التقويم	مستوى الطلب	الاجابة	الدرجات	الإرشادات
٢١	تطبيق	متوسط		١	
٢٢	تطبيق	متوسط	١ + ١٣ + ٧	١	مراعاة جميع الـ
٢٣	استدلال	متوسط	١١ ٢٣	١	
٢٤	استدلال	متوسط	٣٥	١	
٢٥	استدلال	متوسط	٢٥	١	
٢٦	معرفة	مرتفع	٣٢٠٠	١	
٢٧	معرفة	مرتفع	٢٨٤٣	١	
٢٨	معرفة	مرتفع	٣٥٦٠	١	
٢٩	تطبيق	مرتفع	٤	١	
٣٠	تطبيق	مرتفع	ساعتين و ١٥ دقيقة	١	

Fileae.com/om 2026 2025 موقع فايلاتي العمانية

امتحان نهاية الفصل الدراسي الأول لمادة الرياضيات الصف : الخامس
للعام الدراسي ٢٠٢٣/٢٠٢٤م

رقم مفردة	هدف التقويم	مستوى الطلب	الاجابة	الدرجات	الإرشادات
٣١	تطبيق	مرتفع	٧ ريال	١	
٣٢	استدلال	مرتفع	صح ٦ + ٦+ ٦ = ١٨ سم	١	
٣٣	استدلال	مرتفع	خطأ طول الضلع = ٧ سم	١	

نهاية نموذج الاجابة

	٣

المديرية العامة للتربية والتعليم بمحافظة جنوب الباطنة

امتحان مادة الرياضيات للفصل الدراسي الأول –الدور الأول
للصف : الخامس
للعام الدراسي ١٤٤٥هـ - ٢٠٢٣/٢٠٢٤م

اسم الطالب	
الصف والشعبة	

* زمن الامتحان: ساعة ونصف
* الدرجة الكلية للامتحان: ٤٠ درجة
* عدد صفحات أسئلة الامتحان (٦)
* الإجابة في الدفتر نفسه
* يسمح باستخدام الأدوات الهندسية
* **لا يسمح** باستخدام الآلة الحاسبة

الصفحة	الدرجة		التوقيع بالاسم	
	بالأرقام	بالحروف	المصحح الأول	المصحح الثاني
١	٧			
٢	٩			
٣	٨			
٤	٦			
٥	٥			
٦	٥			
المجموع			جمعه	مراجعة الجمع
المجموع الكلي	٤٠			

امتحان مادة الرياضيات للفصل الدراسي الأول –الدور الأول

للصف : الخامس للعام الدراسي ١٤٤٥هـ - ٢٠٢٣/٢٠٢٤م

١)	حوط على تقريب العدد ٢٤٦٧٣ لأقرب عشرة : ٢٤٧٠٠ ٢٤٦٠٠ ٢٤٦٨٠ ٢٤٦٧٠	[١]
٢)	ما اسم المجسم الذي تمثله الشبكة المقابلة ؟ 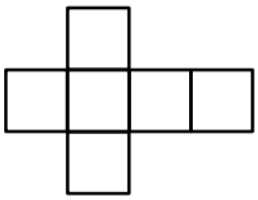	[١]
٣)	اكتب نوع المثلث المقابل من حيث الأضلاع : 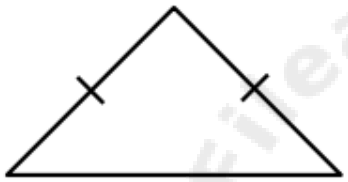	[١]
٤)	أكتب إحداثيات النقطة أ : أ (،) 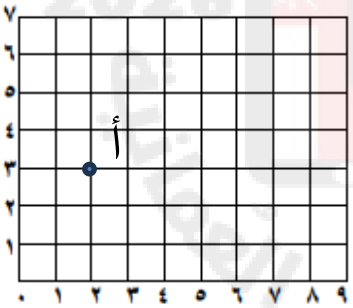	[١]
٥)	رتب درجات الحرارة السيليزية التالية تصاعديا (من الأصغر إلى الأكبر) : ٠° ، -٣° ، ١° ، -١° ..... ، ..... ، ..... ،	[٢]
٦)	أكمل العبارة التالية : ٦٠ ÷ ☐ = ٤٠ ÷ ٤	[١]

الدرجة		٧

يتبع/٢

امتحان مادة الرياضيات للفصل الدراسي الأول –الدور الأول

للصف : الخامس للعام الدراسي ١٤٤٥هـ - ٢٠٢٣/٢٠٢٤م

٧) يوضح الجدول التالي المسافة بين بعض الولايات في سلطنة عمان بالكيلومتر:

أوجد المسافة بين مسقط وهيماء .

مسقط – نزوى	١٥٥
نزوى – عبري	١٣٧
نزوى – هيماء	٣٧٤

[٢]

٨) مزرعة على شكل مستطيل طولها ١٠٠ م وعرضها ٥٠ م فأوجد:

أ) محيط المزرعة =

ب) مساحة المزرعة = [٢]

٩) صل العمود الأول بالإجابة الصحيحة له في العمود الثاني :

العمود الأول
نصف العدد ١٢٤
ضعف العدد ١٢

العمود الثاني
١٤٤
٦٢
٢٤

[٢]

١٠) حوط على العدد الذي نضعه في المربعين لكي تكون العبارة صحيحة:

□,٤ > ٤,□ [١]

٥ ٤ ٣ ٢

١١) كان لدى وليد ٥٠ ريالاً، اشترى حقيبة بمبلغ (١٠,٥٠٠) ريال وحذاءً بمبلغ (٤,٧٠٠) ريال . كم تبقى لدى وليد ؟ [١]

١٢) استخدم رقمين من الأرقام (٨ ، ٦ ، ٢) لإكمال العملية الحسابية التالية :

□ ٢×٣ = □ ٧ [١]

الدرجة | | ٩ |

يتبع/٣

امتحان مادة الرياضيات للفصل الدراسي الأول –الدور الأول

للصف : الخامس للعام الدراسي ١٤٤٥هـ - ٢٠٢٣/٢٠٢٤م

١٣) **ضع علامة (√) في المكان المناسب لها مقابل كل عبارة فيما يلي :** [٢]

العبارة	صح	خطأ
٢٢٤ × ٣ = ٢٧٢		
١,٥ × ٧ = ١,٠٥		

١٤) **حوط على العدد الذي يقبل القسمة على ٥ ، ٢ معاً من بين الأعداد التالية :** [١]

٣٦٧٥ ٣٦٧٢ ٣٦٧٠ ٣٦٦٨

١٥) **الساعات التالية بنظام ٢٤ ساعة ، اكتبها بنظام ١٢ ساعة .** [٢]

٧:٣٥ ⟸ ☐

١٤:٠٠ ⟸ ☐

١٦) **أكمل العدد الناقص :** [١]

٣,٤ + ☐ = ١٠

١٧) **قاعدة المتتالية : ٢ ، ٦ ، ١٠ ، ١٤ ، .....** [١]

هي:.....

١٨) **حوط على المسافة التي قطعها محمد إذا سار مسافة ٣٦٧ م من بيته إلى المدرسة ، ثم ذهب إلى بيت صديقه مسافة ١٩٥ م ، ثم رجع إلى بيته مسافة ٢٠٠ م :** [١]

٧٦٢ ٧٦٠ ٥٦٢ ٥٦٠

الدرجة ☐ / ٨

يتبع/٤

امتحان مادة الرياضيات للفصل الدراسي الأول –الدور الأول

للصف : الخامس للعام الدراسي ١٤٤٥هـ - ٢٠٢٣/٢٠٢٤م

١٩) ارسم خط يوازي الخط المرسوم في الشبكة (أ) ، وارسم خط عمودي على الخط المرسوم في الشبكة (ب) . [٢]

٢٠) رتب الكتل التالية (٣٣٢٤ غم ، ٣,٢١٥ كغم ، ٤,١ كغم) ترتيبا تصاعديا. [١]

٢١) خماسي منتظم محيطه ٤٠ سم ، أوجد طول ضلعه : [١]

٢٢) ما العدد الناقص في خط الأعداد التالي : [١]

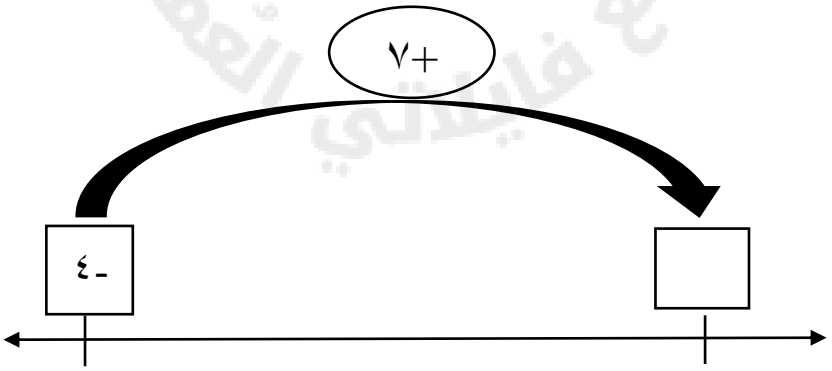

٢٣) أكمل لتكون الصيغة التحليلية التالية صحيحة : [١]

٩٢ ☐ ٦٠ = ٢ + ☐ + ٤٠٠ + ٦٠٠٠٠

الدرجة ☐ ٦

يتبع/٥

امتحان مادة الرياضيات للفصل الدراسي الأول –الدور الأول

للصف : الخامس للعام الدراسي ١٤٤٥هـ - ٢٠٢٣/٢٠٢٤م

٢٤)	يقول سالم عند توزيع ١٥٤ برتقالة على ٧ صناديق سيحوي كل صندوق على ٢٣ برتقالة . **هل ما قاله سالم صحيح ؟ فسر إجابتك .**	[١]
٢٥)	**اكتب عاملين للعدد ٣٠ يكون حاصل جمعهما ١١ :** ..... ،	[١]
٢٦)	**أكمل المتتالية التالية :** ١٢٠، ٩٠ ، ٦٠ ،	[١]
٢٧)	**أوجد ناتج طرح ٧٤٢ – ٢٨٩**	[١]
٢٨)	**حوط على ناتج ١٢٥ ÷ ٥** ١٥ ٢٠ ٢٥ ٣٠	[١]
الدرجة	٥	

يتبع/٦

امتحان مادة الرياضيات للفصل الدراسي الأول –الدور الأول

للصف : الخامس للعام الدراسي ١٤٤٥هـ - ٢٠٢٣/٢٠٢٤م

٢٩) لدى منى ١٠٨ علبة عصير وتريد وضعها في ٤ صناديق بالتساوي ؛ فكم سيكون عدد علب العصير في كل صندوق ؟ [١]

٣٠) استخدم الجدول الزمني التالي للإجابة عن السؤال : [١]

الجدول الزمني للحافلات	
مسقط	٩:١٤
سمائل	٩:٥٠
إزكي	١٠:٢٠
نزوى	١٠:٤٢

كم تستغرق الحافلة من الوقت للانتقال من مسقط إلى إزكي ؟

٣١) يباع هاتف بقيمة ٣٣ ريال ، فكم ستكون قيمة ١٦ هاتفاً ؟ [١]

٣٢) الخطان المقابلان غير متعامدين . فسر إجابتك [١]

٣٣) أوجد طول وعرض المستطيل الذي مساحته ٣٦ وحدة مربعة ، وطوله يزيد عن عرضه بخمس وحدات طول . أوجد ما يلي : [١]

الطول =

العرض =

الدرجة		٥

انتهت الأسئلة مع تمنياتنا لكم بالتوفيق بالنجاح

سلطنة عُمان
وزارة التربية والتعليم

المديرية العامة للتربية والتعليم بمحافظة جنوب الباطنة

نموذج إجابة امتحان الرياضيات للصف الخامس للفصل الدراسي الأول –الدور الأول

للعام الدراسي ١٤٤٥هـ - ٢٠٢٣/٢٠٢٤م

المـــــادة: الرياضيات الدرجة الكلية: (٤٠) درجة

تنبيـــــه: نموذج الإجابة في (٤) صفحات.

رقم الوحدة	هدف التقويم	مستوى الهدف	الإجابة	الدرجات	الإرشادات
١	معرفة	منخفض	٢٤٦٧٠	١	
٥	معرفة	منخفض	المكعب	١	
٥	معرفة	منخفض	مثلث متطابق الضلعين	١	
٦	معرفة	منخفض	أ (٢ ، ٣)	١	
١٠	معرفة	منخفض	-٣°، -١°، ٠°، ١°	٢	٤ إجابات صحيحة ٢ أو ٣ إجابات صح غير ذلك لا ش
١٤	معرفة	منخفض	٦	١	
٢	تطبيق	منخفض	١٥٥ + ٣٧٤ = ٥٢٩ كم	٢	١+١
٩	تطبيق	منخفض	أ) محيط المزرعة = ٢ × (١٠٠ + ٥٠) = ٣٠٠م ب) مساحة المزرعة = ١٠٠×٥٠ = ٥٠٠٠ م مربع	٢	لكل جزئية در
١٢	تطبيق	منخفض	العمود الأول: نصف العدد ١٢٤ ، ضعف العدد ١٢ العمود الثاني: ١٤٤ ، ٦٢ ، ٢٤	٢	درجة لكل جز
١١	استدلال	منخفض	٥	١	
١٣	استدلال	منخفض	٥٠ – (١٠,٥٠٠ + ٤,٧٠٠) = ٣٤,٨٠٠ ريال	١	
١٤	استدلال	منخفض	٦ ٢×٣ = ٨ ٧	١	

رقم الوحدة	هدف التقويم	مستوى الهدف	الإجابة	الدرجات	الإرشادات
٣	معرفة	متوسط	صح: √ خطأ: √	٢	لكل جزئية در
٤	معرفة	متوسط	٣٦٧٠	١	
٨	معرفة	متوسط	٧:٣٥ صباحا ٢:٠٠ مساءا	٢	لكل جزئية در
١٢	معرفة	متوسط	٦,٦	١	
١	تطبيق	متوسط	إضافة ٤ كل مرة	١	
٢	تطبيق	متوسط	٧٦٢	١	
٥	تطبيق	متوسط	أ) رسم أي خط يوازي الخط المرسوم ب) رسم أي خط عمودي على الخط المرسوم	٢	درجة لكل جز
٧	تطبيق	متوسط	٣,٢١٥ كغم ، ٣٣٢٤ غم ، ٤,١ كغم	١	
٩	تطبيق	متوسط	طول الضلع = ٤٠ ÷ ٥ = ٨ سم	١	
١٠	تطبيق	متوسط	٣	١	
١	استدلال	متوسط	٩٢ [٤] ٦٠ = ٢ + [٩٠] + ٤٠٠ + ٦٠٠٠٠	١	
٣	استدلال	متوسط	كلام سالم غير صحيح لأن ١٥٤ ÷ ٧ = ٢٢ برتقالة أو ٧ ×٢٣ = ١٦١ برتقالة	١	
٤	استدلال	متوسط	٥ ، ٦	١	
١	معرفة	مرتفع	٣٠	١	
٢	معرفة	مرتفع	٤٥٣	١	
١٤	معرفة	مرتفع	٢٥	١	
٣	تطبيق	مرتفع	١٠٨ ÷ ٤ = ٢٧ علبة	١	
٨	تطبيق	مرتفع	ساعة و ٦ دقائق	١	
١٢	تطبيق	مرتفع	القيمة = ١٦ × ٣٣ = ٥٢٨ ريال	١	
٥	استدلال	مرتفع	لأن الزاوية التي بينهما لا تمثل زاوية قائمة	١	

رقم الوحدة	هدف التقويم	مستوى الهدف	الإجابة	الدرجات	الإرشادات
٩	استدلال	مرتفع	الطول = ٩ وحدة طول العرض = ٤ وحدة طول	١	لكل جزئية در

ترعى جميع الحلول الصحيحة الأخرى
نهاية نموذج الإجابة

سلطنة عُمان
وزارة التربية والتعليم

المديرية العامة للتربية والتعليم بمحافظة جنوب الباطنة

امتحـان مادة الرياضيات للصف الخامس

للعام الدراسي ١٤٤٤/ ١٤٤٥هـ - ٢٠٢٣/ ٢٠٢٤م

الدور الأول – الفصل الدراسي الأول

● زمن الامتحان : (ساعة ونصف) ●عدد صفحات أسئلة الامتحان : (٧) صفحات.

● الإجابة في الورقة نفسها. ● الدرجة الكلية للامتحان : (٤٠ درجة)

اسم الطالب			
المدرسة		الصف	

تعليمات الامتحان:

- أجب عن جميع الأسئلة في الفراغ المخصص في ورقة الأسئلة ، ودرجة كل سؤال أو جزء من السؤال مكتوبة في اليسار بين حاصرتين .
- وضّح كل خطوات حلّك في دفتر الأسئلة.
- يُسمح باستخدام المسطرة والمنقلة والمثلث القائم .
- **لا يُسمح** باستخدام الآلة الحاسبة .
- تأكد من اكتمال صفحات أسئلة الامتحان وفق العدد الموضح أعلاه.

رقم الصفحة	الدرجة		التوقيع بالاسم	
	بالأرقام	بالحروف	المصحح الأول	المصحح الثاني
١	٦			
٢	٧			
٣	٦			
٤	٧			
٥	٥			
٦	٥			
٧	٤			
المجموع			جمعه	مراجعة الجمع

المادة : الرياضيات الصف : الخامس الدور الأول – الفصل الدراسي الأول - العام الدراسي ٢٠٢٣/ ٢٠٢٤م

أجب عن جميع الأسئلة الآتية :

١) حوّط على قيمة الرقم ٦ في العدد ٨٦٣٥٢

٦ ٦٠ ٦٠٠ ٦٠٠٠ ٦٠٠٠٠

[١]

٢) ما نوع المثلث الذي رسمه أحمد حسب الأضلاع؟

الإجابة: .....[١]

٣) ما اسم المجسم المقابل

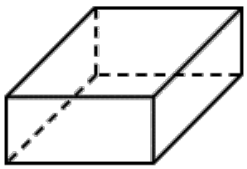

الإجابة: .....[١]

٤) من خلال شبكة الإحداثيات المقابلة:

ما إحداثيات النقطة ع ؟

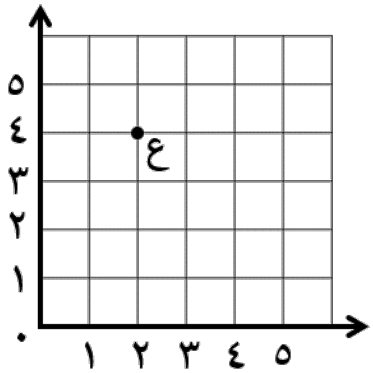

الإجابة: ع (..... ، .....) [١]

٥)لديك المتتالية: ٢٤ ، ٣٠ ، ٣٦ ، ٤٢ ، ٤٨ ، ...

أ) ما هي القاعدة المتّبعة في هذه المتتالية؟

الإجابة: .....[١]

ب) ما هو الحد السابع في هذه المتتالية؟

الإجابة: .....[١]

(٢)

المادة : الرياضيات الصف : الخامس الدور الأول – الفصل الدراسي الأول - العام الدراسي ٢٠٢٢/ ٢٠٢٣م

٦) مدرسة ما بها (٨) صفوف خامس، وكل صف به ٣٠ طالباً . ما إجمالي عدد طلبة الصف الخامس في هذه المدرسة؟

الإجابة: ..... [١]

٧) الرسم البياني المقابل يوضح عدد زوار أحد الأماكن السياحية خلال ثلاثة أيام.

ما إجمالي عدد الزوار لهذا المكان خلال الأيام الثلاثة؟

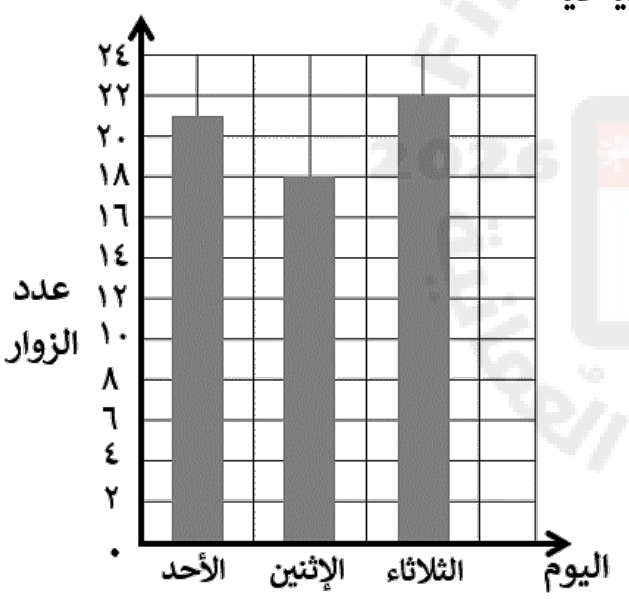

الإجابة: ..... [٢]

٨) في الشبكة المقابلة طول ضلع كل مربع ١ سم:



أ) ارسم على الشبكة مستطيلاً مساحته ١٢ سم^{٢} [١]

ب) ما أبعاد المستطيل الذي رسمته؟

الإجابة: الطول = ... سم ، العرض = ... سم [١]

٩) أكمل الأعداد الناقصة في العمليات التالية:

٣,٤ + ... = ١٠

	٧

يتبع / ٣

(٣)

المادة : الرياضيات الصف : الخامس الدور الأول – الفصل الدراسي الأول - العام الدراسي ٢٠٢٣/ ٢٠٢٤م

١٠) حوّط على العدد الذي يشير إليه السهم على خط الأعداد التالي:

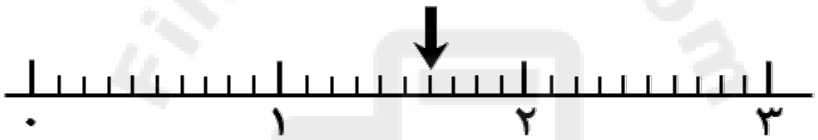

٢,٤ ١,٧ ١,٦ ١,٥ ١,٤

[١]

١١) حديقة على شكل مستطيل طولها ٣٥,٧ م وعرضها ١٥,٣ م . كم متراً يزيد طولها على عرضها؟

الإجابة: .....[١]

١٢) وضع مزارع ٢١٦ حبة برتقال في ٦ صناديق كبيرة بالتساوي.

كم حبة برتقال وضعت في الصندوق الواحد؟

الإجابة: .....[١]

١٣) توضح الشبكة المقابلة عملية ضرب ٢٣ × ٣٥ :

أكمل الفراغات التالية للحصول على ناتج الضرب

×	٥	٣٠
٣	١٥	٩٠
٢٠	١٠٠	٦٠٠

٢٣ × ٣٥ = ... + ... + ... + ... = ...

	٦

يتبع / ٤

(٤)

المادة : الرياضيات الصف : الخامس الدور الأول – الفصل الدراسي الأول - العام الدراسي ٢٠٢٣/ ٢٠٢٤م

١٥) صِل كل ساعة رقمية بما يناسبها من ساعات العقارب التالية:

٠٥:٤٠ ٢٠:٢٥

[٢]

١٦) تقول أروى:

ما العدد الذي تفكر فيه أروى؟

الإجابة: .....[١]

١٧) رتّب الأعداد التالية ترتيباً تصاعدياً:

١٥٧٣ ، ١٥٣٧ ، ١٥٢٢

..... ، ..... ، .....

[١]

١٨) حوّط على ناتج الجمع (المخرج) الذي سوف

يظهر من الآلة عند إدخال العدد ٣٤٩

	٧

يتبع / ٥

(٥)

المادة : الرياضيات الصف : الخامس الدور الأول – الفصل الدراسي الأول - العام الدراسي ٢٠٢٣/ ٢٠٢٤م

٢٠) لدى عيسى كيسين من التمر كتلة كل منهما ١,٤ كغم،

ما إجمالي كتلة الكيسين بوحدة الغرام؟

الإجابة: .....[١]

٢١) تقول سعاد: "إن محيط المضلع السداسي المنتظم المقابل يساوي ٤٠ سم"

صحّح الخطأ الذي وقعت فيه سعاد.

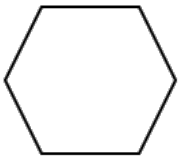

.....

.....[١]

٢٢) أكمل الجدول:

درجة الحرارة (سيليزية)	التغيّر في درجة الحرارة	درجة الحرارة الجديدة
٥	انخفاض ٧ درجات	

	٥

يتبع / ٦

(٦)

المادة : الرياضيات الصف : الخامس الدور الأول – الفصل الدراسي الأول - العام الدراسي ٢٠٢٣/ ٢٠٢٤م

٢٥) عدد ما ينطبق عليه الشروط التالية:

* يتكوّن من رقمين * مربع * أقل من ٥٠ * من مضاعفات ٣

من هو هذا العدد؟

الإجابة: .....[١]

٢٦) استخدم جميع بطاقات الأرقام المقابلة وبدون تكرار

لتكوين أكبر عدد فردي

٨	٤	٥	٦

الإجابة: .....[١]

٢٧) لدى سعيد ٢٠٠ ريال عماني. فسّر لماذا لا يكفيه هذا المبلغ لشراء ثلاثة أجهزة لوحية إذا كانت قيمة كل جهاز منها ٧٠ ريال عماني.

	٥

يتبع / ٧

(٧)

المادة : الرياضيات الصف : الخامس الدور الأول – الفصل الدراسي الأول - العام الدراسي ٢٠٢٣/ ٢٠٢٤م

٣٠) يقول خالد:

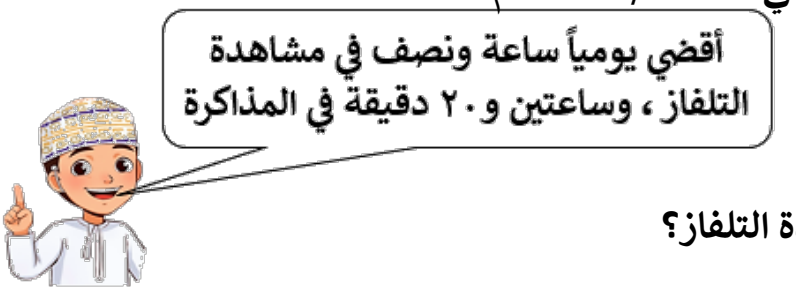

بكم يزيد الوقت الذي يستغرقه خالد في المذاكرة عن الوقت الذي يستغرقه في مشاهدة التلفاز؟

الإجابة: .....[١]

٣١) أكمل الفراغات في العملية التالية بعددين مختلفين ليصبح الناتج مساوياً للعدد ١

٠,٢ + + = ١

[١]

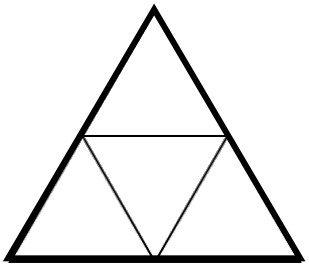

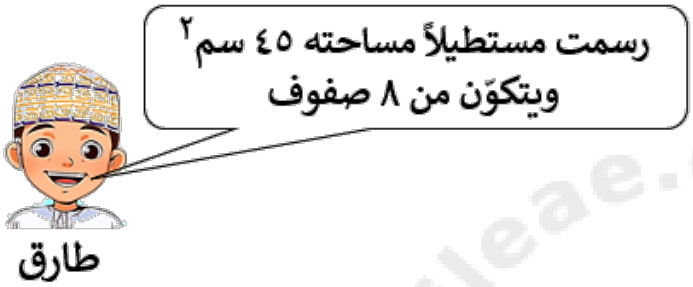

Fileae.com/om
2026 2025
موقع فايلاتي العمانية

سلطنة عُمان
وزارة التربية والتعليم

المديرية العامة للتربية والتعليم بمحافظة جنوب الباطنة
نموذج إجابة امتحان مادة الرياضيات للصف الخامس
للعام الدراسي ١٤٤٤/ ١٤٤٥هـ - ٢٠٢٣/ ٢٠٢٤م
الدور : الأول - الفصل الدراسي الأول

المادة : الرياضيات	الدرجة الكلية : (٤٠) درجة	تنبيه : نموذج الإجابة في (٤) ورقات

الصفحة	المفردة	هدف التعلم	هدف التقويم	الإجابة الصحيحة	الدرجة	إرشادات
١	١	5Nn2	معرفة منخفض	٦٠٠٠	١	
١	٢	5Gs1	معرفة منخفض	مثلث مختلف الأضلاع	١	
١	٣	5Gs4	معرفة منخفض	متوازي مستطيلات	١	
١	٤	5Gp	معرفة منخفض	(٢ ، ٤)	١	
١	٥	5Nn	معرفة منخفض	أ) إضافة ٦ أو + ٦	١	
		5N		ب) ٦٠	١	
٢	٦	5Mt2	معرفة منخفض	٨ × ٣٠ = ٢٤٠ طالب	١	
٢	٧	5Pt2	تطبيق منخفض	٢١ + ١٨ + ٢٢ = ٦١ زائر	٢	إذا كتب الطالب الناتج فقط بدون توضيح الطريقة فإنه يعطى الدرجة كاملة

الصفحة	المفردة	هدف التعلم	هدف التقويم	الإجابة الصحيحة	الدرجة	إرشادات
٢	٨	5Ma2	تطبيق منخفض	أ) 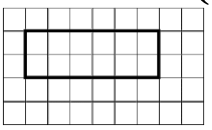 ب) الطول = ٦ سم ، العرض = ٢ سم	١ ١	حل آخر أ) 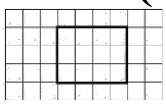 ب) الطول = ٤ سم ، العرض = ٣ سم

يتبع /٢

تابع نموذج إجابة امتحان الصف (الخامس) في المادة : الرياضيات

الفصل الدراسي الأول

الدور: الأول للعام الدراسي ١٤٤٤/ ١٤٤٥هـ - ٢٠٢٣/ ٢٠٢٤م

الصفحة	المفردة	هدف التعلم	هدف التقويم	الإجابة الصحيحة	الدرجة	إرشادات
٢	٩	5Nc2	تطبيق منخفض	٦,٦ ٠,٧	١ ١	
٣	١ ٠	5Nn4	استدلال منخفض	١,٦	١	
٣	١ ١	5Nc10	استدلال منخفض	٣٥,٧ ـ ١٥,٣ = ٢٠,٤	١	إذا كتب الطالب الناتج فقط بدون توضيح الطريقة فإنه يعطى الدرجة
٣	١ ٢	5Nc20	استدلال منخفض	٢١٦ ÷ ٦ = ٣٦ حبة في كل صندوق	١	إذا كتب الطالب الناتج فقط بدون توضيح الطريقة فإنه يعطى الدرجة
٣	١ ٣	5Nc21	معرفة متوسط	= ٦٠٠ + ١٠٠ + ٩٠ + ١٥ = ٨٧٥	١ ١	إذا كتب الطالب الناتج فقط بدون توضيح الطريقة فإنه يعطى الدرجتين

الصفحة	المفردة	هدف التعلم	هدف التقويم	الإجابة الصحيحة	الدرجة	إرشادات
٣	١ ـ ٤	5Ps9	معرفة متوسط	٢٤ ١٥٦	١	يحصل الطالب على الدرجة في حالة اختياره للعددين الصحيحين معاً فقط
٤	١ ـ ٥	5Mt2	معرفة متوسط	٠٥:٤٠ ٢٠:٢٥ 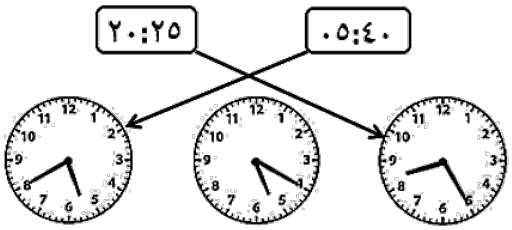	٢	يعطى الطالب درجة لكل توصيل صحيح بين الساعة الرقمية ومثيلتها من الساعات ذات العقارب
٤	١ ـ ٦	5Nc1	معرفة متوسط	٤٨٠	١	
٤	١ ـ ٧	5Nn8	تطبيق متوسط	١٥٢٢ ، ١٥٣٧ ، ١٥٧٣	١	
٤	١ ـ ٨	5Nc8	تطبيق متوسط	٦٩٠	١	
٤	١ ـ ٩	5Ps9	تطبيق متوسط	لا لأن البعد بين الخطين غير ثابت أو لأنه عند مدّ الخطين فإنهما سيتقاطعان	١ ١	

يتبع /٣

تابع نموذج إجابة امتحان الصف (الخامس) في المادة : الرياضيات

الفصل الدراسي الأول

الدور: الأول للعام الدراسي ١٤٤٤/ ١٤٤٥هـ - ٢٠٢٣/ ٢٠٢٤م

الصفحة	المفردة	هدف التعلم	هدف التقويم	الإجابة الصحيحة	الدرجة	إرشادات
٥	٢ ـ ٠	5Ml2	تطبيق متوسط	١,٤ + ١,٤ = ٢,٨ كغم = ٢٨٠٠ غم	١	إذا كتب الطالب الناتج فقط بدون توضيح الطريقة فإنه يعطى الدرجة

الصفحة	المفردة	هدف التعلم	هدف التقويم	الإجابة الصحيحة	الدرجة	إرشادات
٥	٢ ١	5Ma1	تطبيق متوسط	محيط المضلع السداسي المنتظم = ٦ × ٧ = ٤٢ سم وليس ٤٠ سم	١	
٥	٢ ٢	5Nn10	استدلال متوسط	- ٢ درجة سيليزية	١	
٥	٢ ٣	5Nn6	استدلال متوسط	٢	١	
٥	٢ ٤	5Ps6	استدلال متوسط	٨٤٠	١	
٦	٢ ٥	5Ps10	استدلال متوسط	٣٦	١	
٦	٢ ٦	5Ps3	معرفة مرتفع	٨٦٤٥	١	
٦	٢ ٧	5Pt3	معرفة مرتفع	لأن قيمة الأجهزة اللوحية = ٧٠ + ٧٠ + ٧٠ = ٢١٠ ريال عمانياً وهو مبلغ أكبر من ٢٠٠ ريال عماني	١	
٦	٢ ٨	5Ps2	معرفة مرتفع	٤	١	
٦	٢ ٩	5Nc2	تطبيق مرتفع	١٩,٠ = ١٩	١	
٧	٣ ٠	5Mt	تطبيق مرتفع	٥٠ دقيقة	١	
٧	٣ ١	5Nc1	تطبيق مرتفع	٠,٥ + ٠,٣	١	حل آخر: ٠,٦ + ٠,٢ أو ٠,٧ + ٠,١

يتبع / ٤

تابع نموذج إجابة امتحـان الصـف (الخامس) في المادة : الرياضيات

الفصل الدراسي الأول

الدور: الأول للعام الدراسي ١٤٤٤/ ١٤٤٥هـ - ٢٠٢٣/ ٢٠٢٤م

الصفحة	المفردة	هدف التعلم	هدف التقويم	الإجابة الصحيحة	الدرجة	إرشادات
٧	٣ ٢	5Ps9	استدلال مرتفع	طول ضلع المثلث الصغير = ١٢ ÷ ٣ = ٤ سم محيط المثلث الكبير = ٤ + ٤ + ٤ + ٤ + ٤ + ٤ = ٢٤ سم	١	إذا كتب الطالب الناتج فقط بدون توضيح الطريقة فإنه يعطى الدرجة
٧	٣ ٣	5Ps4	استدلال مرتفع	المساحة = الطول × العرض ولا يوجد عدد نضربه في ٨ ويكون الناتج ٤٥ سم^{٢}	١	

نهاية نموذج الإجابة

ملاحظة: تراعى الحلول الصحيحة الأخرى

	٤

المديرية العامة للتربية والتعليم بمحافظة الظاهرة

امتحـان نهاية الفصل الدراسي الأول لمادة : الرياضيات

للعام الدراسي ١٤٤٤ / ١٤٤٥ هـ - ٢٠٢٣ / ٢٠٢٤م

للصف : الخامس – الدور الثاني

- زمن الامتحان (ساعة و نصف)
- عدد صفحات أسئلة الامتحان : (٧) صفحات.
- الإجابة في الدفتر نفسه

اسم الطالب			
المدرسة		الصف	

- الدرجة الكلية للامتحان: ٤٠ درجة.
- يسمح باستخدام: المسطرة، المنقلة، المثلث القائم، الورق الشفاف.
- **لا يسمح** باستخدام: الآلة الحاسبة.

أقرأ التعليمات الآتية في البداية:

- **أجب** عن **جميع** الأسئلة في الفراغ المخصص في ورقة الأسئلة.
- وضح **كل** خطوات حلك في دفتر الأسئلة.
- درجة كل سؤال أو جزء من السؤال مكتوبة في اليسار بين الحاصرتين [ ].

الصفحة	الدرجة		التوقيع بالاسم	
	بالأرقام	بالحروف	المصحح الأول	المصحح الثاني
١	٧			
٢	٦			
٣	٤			
٤	٦			
٥	٦			
٦	٧			
٧	٤			
المجموع			جمعه	مراجعة الجمع
المجموع الكلي				

المادة : رياضيات الصف : الخامس الدور الثاني العام الدراسي ٢٠٢٣ -٢٠٢٤ م

١) اكتب القيمة المكانية للرقم ٩ في العدد ٦٩٣١٨ :

_____

[١]

٢) حدد النقطة التالية على الشبكة أ (٢ ، ٦)

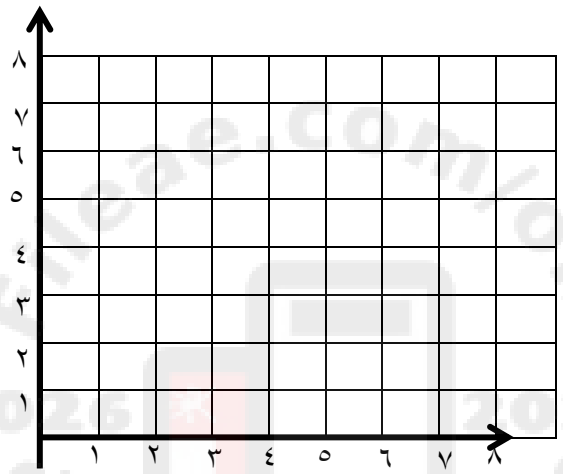

[١]

٣) اكتب الناتج فيما يلي :

العملية	الناتج
٩٤ × ١٠٠	.....
٤٥٠ ÷ ١٠	.....

[٢]

٤) وضع علامة (√) في المكان المناسب :

العبارة	صح	خطأ
المثلث متطابق الاضلاع له ٣ محاور تماثل		
المثلث الذي زواياه ٩٠ °, ٦٠ °, ٣٠ ° متطابق الضلعين		

[٢]

٥) حوط جميع الاعداد المربعة

٢ ٩ ٣٠ ٦٣ ٦٤

[١]

الدرجة		٧

يتبع/٢

المادة : رياضيات الصف : الخامس الدور الثاني العام الدراسي ٢٠٢٣ -٢٠٢٤ م

٦)	اكتب العدد المفقود لتكون العبارة صحيحة : ٠,٧ + ☐ = ١	[١]
٧)	ما نصف العدد ١٨ _____	[١]
٨)	عند علي ٧,٥ ريال فإن ضعف ما عند علي يساوي _____ ريال	[١]
٩)	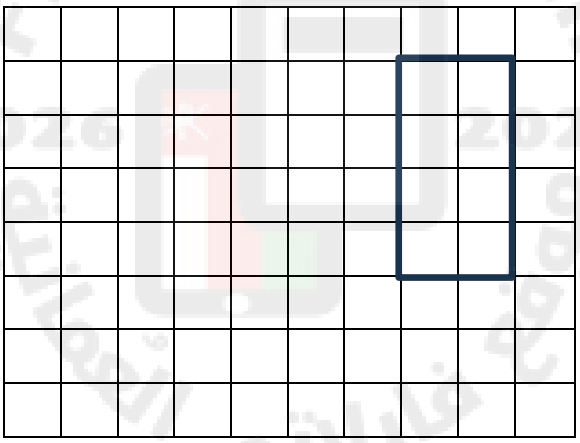 ما مساحة المستطيل ؟ ----------	[١]
١٠)	اكتب الفترة الزمنية من ٥ / يناير الى ٢٧ يناير بالأيام و الأسابيع .....أسابيع و ..... أيام	[٢]

الدرجة	٦		يتبع/٣

١١) حوط ناتج ٤,٥ + ٢,٣

٢,٥ ٧,١ ٦,٨ ٥,١

[١]

١٢) وصل العبارة من العمود الأول بما يناسبها في العمود الثاني

عدد يقبل القسمة على ٢	٢٧
عدد يقبل القسمة على ٥	٥٢
	٧٥
	٣٣

[١]

١٣) حوط على الخطين المتعامدين :

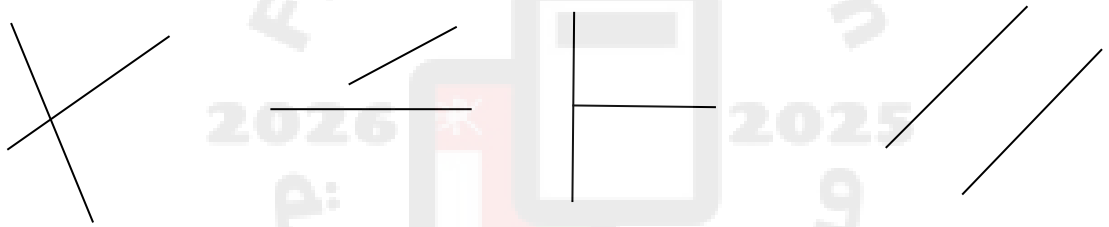

[١]

١٤) قرب العدد ١٧٨٥ لأقرب ١٠

_____

[١]

الدرجة		٤

يتبع/ ٤

١٥)	اشترى صالح سيارة مستعملة بمبلغ ٩١٨ ريال دفع منها ٢١٤ ريال ما المبلغ المتبقي على صالح ؟ _____ ريال	[١]
١٦)	ضع الرقم المناسب في كل مربع لتكون العملية الحسابية صحيحة ٣ ٤ ٥ ٧ ٤,□ - ٣,□ = ٠,٨	[١]
١٧)	اكمل : ٢٠٠ × ٦ = □	[١]
١٨)	اكتب درجة الحرارة الجديدة : درجة الحرارة: ٥ ، مقدار الانخفاض: ٦ ، درجة الحرارة الجديدة:	[١]
١٩)	اكمل الجدول الاتي المستطيل: ١ ، عدد الصفوف: ٥ ، عدد الاعمدة: ..... ، المساحة: ٢٠ وحدة مربعة المستطيل: ٢ ، عدد الصفوف: ٣ ، عدد الاعمدة: ٢ ، المساحة:	[٢]

الدرجة	٦		يتبع/ ٥

المادة : رياضيات الصف : الخامس الدور الثاني العام الدراسي ٢٠٢٣ -٢٠٢٤ م

٢٠)	حوط الرقم الذي يمثل طول ضلع المضلع السداسي المنتظم في الشكل المقابل بالسم : ٢ ٣ ٤ ٦ 	[١]
٢١)	كتلة محمد ٣٥,٣ كغم ما كتلة محمد لأقرب كغم _____ كغم	[١]
٢٢)	مع خالد ١٢٣ ريال و ما عند سعيد أكثر ب ٥ أضعاف عن الذي مع خالد كم سيكون المبلغ الذي مع سعيد ؟ وضح خطوات الحل	[٢]
٢٣)	سعر الحقيبة الواحدة ٥ريال ومع سلوى ٢٣ ريال كم حقيبة تستطيع سلوى شراءها ؟	[١]
٢٤)	اكتب جميع مضاعفات العدد ٧ التي تقع بين ٢٠ ، ٣٠	[١]

الدرجة	٦		يتبع/٦

٢٥) جمع عمر و سالم وعلي مبلغ من المال قدره ٢٠٠ريال كما في الجدول :

الشخص	عمر	سالم	علي
المبلغ	٧٥ ريال	٨٢ ريال	--------

كم المبلغ الذي جمعه علي ؟ ..... ريال [٢]

٢٦) قسم جاسم ٣٥ ريال على ٥ أطفال بالتساوي فما نصيب كل طفل من هذا المبلغ؟

..... [١]

٢٧ اذا كان ضعف العدد [ ][٦] يساوي ١٢٨

ما هو الرقم الناقص في منزلة الآحاد ؟ ..... [١]

٢٨ اكتب جميع الاعداد الناقصة في الجدول :

×		٥
٢	٠,٤	

[١]

٢٩ ذهب ناصر الى المكتبة القريبة من بيته فوجد الأسعار كما في الجدول التالي

الغرض	مسطرة	أقلام	دفاتر
القيمة	٠,٣٥٠ ريال	٠,٢٥٠ ريال	٠,٤٥٠ ريال

اذا كان عند ناصر ٠,٦٠٠ ريال ، ما الأشياء التي يمكنه شراءها ؟

_____ [١]

٣٠) حوط على الاجابة الصحيحة :

يبدأ عمل عبدالله الساعة ٧:٣٠ صباحا وينتهي الساعة ١:٣٠ مساءا ما المدة التي يقضيها في العمل :

٥ساعات ٦ساعات ٥ساعات ونصف ٦ ساعات ونصف

الدرجة	٧		يتبع / ٧

[١]

٣١)	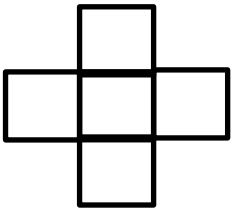 هل تكون هذه الشبكة مكعب مغلق ؟ ☐ نعم ☐ لا فسر اجابتك _____ _____	[٢]
٣٢)	توضح هذه المتتالية مضاعفات ٥ ٥ ، ١٠ ، ١٥ ، ٢٠ ،..... هل سيكون العدد ٩٥ موجودا في المتتالية ؟ فسر ذلك ----------	[١]
٣٣)	قال حمد اذا ضربنا ٢ في أي عدد فردي يكون الناتج عدد فردي هل حمد على صواب ؟ ☐ نعم ☐ لا اعط مثالا ----------	[١]

الدرجة	٤		

انتهت الأسئلة مع الدعاء للجميع بالتوفيق والنجاح.

المديرية العامة للتربية والتعليم بمحافظة الظاهرة

نموذج إجابة الاختبار النهائي الفصل الدراسي الأول الدور الثاني في مادة الرياضيات

للعام الدراسي 2023 / 2024

المفردة	رمز الهدف	الموضوع	المستوى	الإجابة	الدرجة	الصفحة	الارشادات
1	٥Nn٢	القيمة المكانية	معرفة	9000	1	12	
2	٥Gp١	الاحداثيات	معرفة	يحدد النقطة في الشبكة بصورة صحيحة	1	42	
3	٥Nn٥	القيمة المكانية	معرفة	9400 45	2	12	لكل مفردة درجة
4	٥Gs١	المثلثات	معرفة	صح خطأ	2	38	لكل مفردة درجة
5	٥Nc٦	المضاعفات و المربعات	معرفة	9 ،64	1	30	يحصل الطالب على درجة اذا حوط على الاجابتين

6	**٥Nc٢**	حقائق الاعداد العشرية	معرفة	0.3	1	63	
7	**٥Nc١٦**	المضاعفة و التنصيف	معرفة	9	1	66	
8	**٥Nc١٦**	المضاعفة و التنصيف	معرفة	15ريال	1	66	
9	**٥Ma٢**	المساحة 1	معرفة	8	1	52	
10	**5Mt1**	الجداول الزمنية	معرفة	--1-- أيام -3- أسابيع	2	50	لكل فراغ درجة
11	**5Nc10**	الجمع والطرح1	معرفة	6,8	1	18	

12	**5Nc4**	اختبارات قابلية القسمة	معرفة	عدد يقبل القسمة على (52) عدد يقبل القسمة على 5 (75)	1	32	يحصل الطالب على درجة اذا اجاب على المفردتين معا
13	**5Gs5**	الخطوط المتوازية والمتعامدة	معرفة		1	36	
14	**5Nn6**	الترتيب والتقريب	تطبيق	1790	1	14	
15	**5Nc8**	الجمع والطرح 1	تطبيق	704	1	18	
16	**5Nc19**	الطرح	تطبيق	5 , 7	1	68	يعطى الطالب درجة للاجابتين فقط

17	**5Nc12**	استراتيجيات عمليات الضرب	تطبيق	1200	1	64	
18	**5Nn10**	الاعداد الموجبة والسالبة	تطبيق	1-	1	59	
19	**5Ma2**	المساحة 1	تطبيق	عدد الاعمدة 4 المساحة = 6	2	52	لكل فراغ درجة
20	**5Ma1**	المحيط 1	تطبيق	6	1	54	
21	**5Ml4**	الكتلة	تطبيق	35	1	46	
22	**5Nc20**	الطرق الكتابية للضرب	تطبيق	123×5 = 615 يستخدم الطالب أي طريقة لايجاد ناتج الضرب	2	26	درجة لخطوات الحل و درجة للناتج
23	**5Nc26**	الطرق الكتابية للقسمة	تطبيق	4	1	29	
24	**5Nc5**	المضاعفات و المربعات	تطبيق	21 و 28	1	30	يعطى الطالب درجة اذا كتب الاجابتين
25	**5Nc18**	جمع المزيد من الاعداد	تطبيق	43 ريال	2	20	

26	**5Nc20**	الضرب والقسمة	تطبيق	7 ريال	1	74	
27	**5Pt6**	المضاعفة و التنصيف	استدلال	4	1	66	
28	**5Pt2**	الضرب و القسمة	استدلال	0.2 10	1	74	يحصل الطالب على درجة اذا كتب الاجابتين
29	**5Pt3**	جمع و طرح المبالغ المالية	استدلال	مسطرة و أقلام	1	72	
30	**5Ps4**	قراءة الوقت	استدلال	6 ساعات	1	48	
31	**5Pt7**	المكعب و متوازي المستطيلات	استدلال	لا - لان المكعب المغلق له 6 اوجه	2	40	تراعى الحلول الاخرى
32	**5Ps6**	المتتاليات 2	استدلال	نعم – لان احاده 5	1	56	تراعى الحلول الاخرى اذا اكمل الطالب المتتالية يحصل على الدرجة
33	**5Ps8**	العبارات العامة	استدلال	لا – مثلا 2×5=10 10 و 10 عدد زوجي	1	58	او أي مثال اخر

سلطنة عُمان
وزارة التربية والتعليم

امتحـان مادة: الرياضيات للصف الخامس (مسائي)

للعام الدراسي ١٤٤٥هـ - ٢٠٢٣/٢٠٢٤م

الدور: الأول الفصل الدراسي: الأول

- زمن الامتحان: ساعة ونصف.
- الإجابة في الدفتر نفسه.
- الدرجة الكلية للامتحان: ٤٠ درجة.
- عدد صفحات أسئلة الامتحان: (٩).
- يسمح باستخدام: المسطرة، المنقلة، المثلث القائم، الورق الشفاف.
- لا يسمح باستخدام: الآلة الحاسبة.

أقرأ التعليمات الآتية في البداية:

- أجب عن جميع الأسئلة في الفراغ المخصص في ورقة الأسئلة.
- وضح كل خطوات حلك في دفتر الأسئلة.
- درجة كل سؤال أو جزء من السؤال مكتوبة في اليسار بين الحاصرتين [].

الصفحة	الدرجة		التوقيع بالاسم	
	بالأرقام	بالحروف	المصحح الأول	المصحح الثاني
١				
٢				
٣				
٤				
٥				
٦				
٧				
٨				
٩				
١٠				
المجموع			جمعه	مراجعة الجمع
المجموع الكلي	٤٠			

اسم الطالب			
المدرسة		الصف	

امتحان نهاية الفصل الدراسي الاول لمادة الرياضيات الصف: الخامس للعام الدراسي ٢٠٢٣/٢٠٢٤

١	**حوط جميع الأعداد المربعة المحصورة بين ٩ و ٣٠** ١٦ ١٧ ٢٥ ٢٩	١
٢	**أوجد ناتج العمليات الحسابية الآتية:** أ) ٦٤٩ + ١٤٠ = ☐ ب) ٦٧٩ ـ ٥٢٨ = ☐	٢
٣	**أوجد ناتج:** ٣٠٠ × ٢ = ☐	١
٤	**ضع علامة (> أو < أو =) المناسبة في المربعات التالية:** ٨٦٣٩١ ☐ ٨٦٢٩١ ٣٩٠٥٤ ☐ ٣٩٥٠٤	٢
٥	**اكتب العدد المفقود:** ١ ـ ☐ = ٠,٤	١
٦	قامت عائلة ناصر بزيارة حديقة الحيوان في عطلة **نهاية الأسبوع** توضح النشرة المقابلة الأوقات والنشاطات في حديقة الحيوان **حديقة الحيوان** **أيام الأسبوع**: ١٠٠٠ إطعام الفيل، ١١٣٠ عرض الصقور، ١٢٠٠ إطعام الزرافة، ١٣١٥ إطعام أسد البحر، ١٥٣٠ مقابلة حراس الحيوانات **عطلات نهاية الاسبوع**: ١٠٠٠ إطعام الفيل، ١١٣٠ عرض الصقور، ١٢١٥ إطعام الزرافة، ١٣٤٥ إطعام أسد البحر، ١٦٣٠ مقابلة حراس الحيوانات أكتب الوقت الذي ستتمكن فيه العائلة من إطعام أسد البحر _____	١

الدرجة	٨	يتبع/٢

٧) حوط على عدد خطوط التماثل للمثلث المقابل

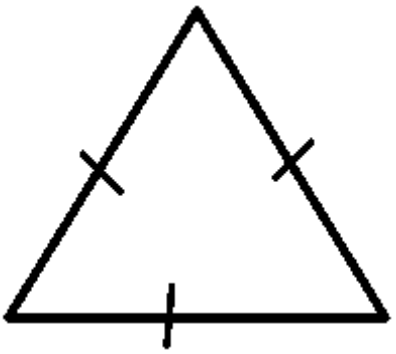

١ ٣ ٢ ٤

١

٨ ضع علامة (√) في المكان المناسب بجوار كل عبارة

العبارة	صواب	خطأ
نصف العدد ٣٢ هو ١٦		
ضعف العدد ٤٤ هو ٢٢		
نصف العدد ٨,١٤ هو ٤,٠٧		

٢

٩ لدى محمد ١٨,٥٠٠ ريال عماني اشترى أغراضا لمنزله قيمتها ١٣,٨٥٠ ريال عماني
كم المبلغ المتبقي لديه؟

_____ريال

١

الدرجة		٤

نماذج الاختبارات النهائية للصف الخامس مع نموذج الحل أ.أحم...
56 of 118

١٠ **تقول فاطمة :**

أشرح الخطأ الذي وقعت فيه فاطمة

الشرح:

١

١١ **الخطين الآتيين غير متوازيين**
فسر ذلك.

التفسير

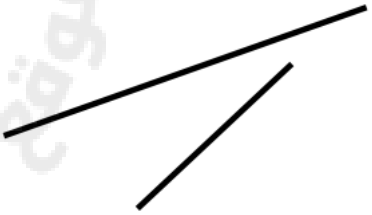

١

١٢ **هذا جزء من متتالية عددية**
تستمر المتتالية.

	١٥٠	١٥٥	١٦٠	١٦٥	١٧٠

حوط حول جميع الاعداد التي قد تظهر في المتتالية

١٢٠ ٢٣٠ ١٨٩ ١٠٠٠ ١٥٣

١

الدرجة		٣

يتبع/٤

١٣

يفكر عمر في عدد إذا ضرب في ٥ كان الناتج ٤٠

وإذا ضرب في ٩ كان الناتج ٧٢ ما العدد الذى يفكر فيه عمر ؟

العدد هو : _____

١

١٤ **أوجد المساحة بالوحدة المربعة في كلا من :**

أ) مستطيل يحتوي على ٥ صفوف من ٦ مربعات

_____

ب) مستطيل يحتوي على ٩ صفوف من ٣ مربعات

_____

٢

الدرجة		٣

يتبع/٥

امتحان نهاية الفصل الدراسي الأول لمادة الرياضيات الصف : .الخامس للعام الدراسي ٢٠٢٣/٢٠٢٤م

١٥ **حوط إحداثيات النقطة الممثلة على الشبكة المقابلة**

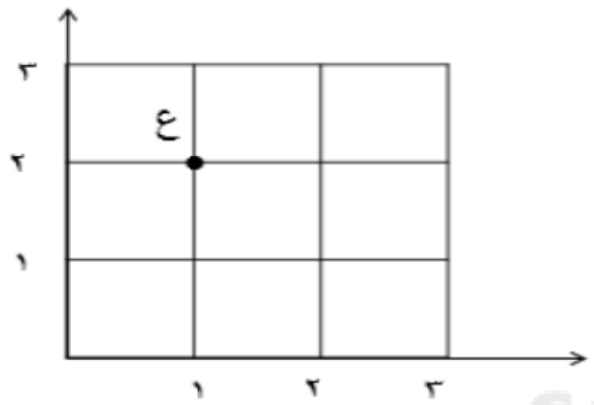

(١،١) **(٢،١)** **(١،٢)** **(٠،١)**

١

١٦ أكمل الفراغ بالعدد المناسب

٣,٤ + ☐ = ١٠

١

١٧ **ضع علامة (< أو > أو =) لتكون العبارة صحيحة**

٣,٤ ☐ ٣,٠٤

١

١٨ اكتب عددا يقبل القسمة على ٢ و ٥ معا

العدد هو _____

١

الدرجة		٤

يتبع/٦

١٩ **الجدول التالي يوضح أسعار بعض الأجهزة بالريال العماني**

أحسب اجمالي تكلفة شراء الثلاجة والتلفزيون؟

الجهاز	السعر
غسالة	٨٤ ريال
ثلاجة	١٩٠ ريال
تلفزيون	١٢٠ ريال

خطوات الحل:

٢

٢٠ **عدد طلاب مدرسة يساوي ١١٥ طالبا**
تم تقسيمهم على ٥ حافلات بالتساوي
احسب عدد الطلاب في كل حافلة.

_____طالب

١

٢١ **ساعد سعاد في توصيل القيمة المكانية للرقم ٣ في العمود (أ) بما يناسبها في العمود (ب)**

العمود(أ)

٩٥٠٣٠٢
٣٢٠٦٠٧

العمود (ب)

٣٠٠٠٠٠
٣٠٠
٣٠٠٠٠

١

٢٢ **تبدأ المتتالية الاتية بالعدد ١٥٠ ، يتم طرح ٥٠ في كل مرة**

١٥٠ ، ١٠٠ ، ٥٠ ، ---------

اكتب أول عدد في المتتالية السابقة أصغر من صفر

_____

١

الدرجة		٥

يتبع/٧

امتحان نهاية الفصل الدراسي الأول لمادة الرياضيات الصف : الخامس للعام الدراسي ٢٠٢٣/٢٠٢٤م

٢٣

سلك كهربائي طوله ١٣٢ متر يراد تقطيعه إلى ٦ قطع متساوية

أوجد طول القطعة الواحدة ؟

_____ متر

١

٢٤

يتكون الشكل المقابل من ٥ خطوط مستقيمة مرقمة من (١-٥)

أكمل العبارة الأتية

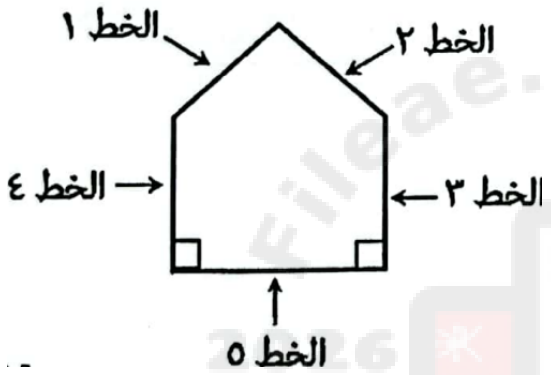

الخط ☐ **يوازي الخط** ☐

١

٢٥

تقول سلمى **الوقت في الساعة المقابلة بنظام ١٢ ساعة هو ١٠:٠٩ص**



هل سلمى على صواب : نعم ☐ لا ☐

فسر إجابتك:

_____

٢

الدرجة		٤

يتبع/٨

٢٦ قامت مريم بشراء ٤ أكياس من الأرز يحتوي كل كيس على ٢,٥ كغم فتقول مريم

مقدار الأرز الذي اشتريته يساوي ١٠ كغم

هل مريم على صواب؟

فسر أجابتك؟

_____ ١

٢٧ إذا كانت درجة الحرارة ٧ ° س وانخفضت بمقدار ٩ درجات سيليزية

ما درجة الحرارة الجديدة؟

_____درجة سيليزية ١

٢٨ حوط كتلة الهدية بالغرام:

٢٠٠٠ ١٠٠٠ ٢٠٠ ٣٠٠٠

١

٢٩ يقول أحمد صممت مثلثا متطابق الأضلاع باستخدام خيط وقست ضلعا واحدا وبلغ طوله ٦ سم

ما طول الخيط الذي أستخدمه أحمد؟

_____سم ٢

الدرجة		٥

يتبع/٩

٣٠ **ارسم شبكة تمثل مكعب مغلق**

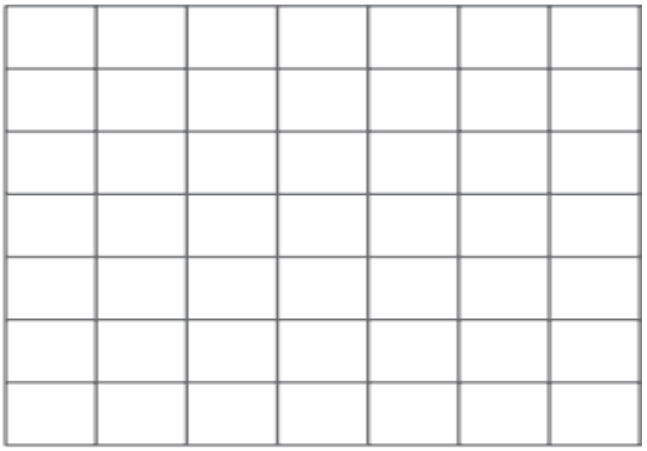

١

٣١ **صندوق حلويات به ٤ صفوف كل صف به ٤ قطع**
احسب عدد القطع في الصندوق

قطعة_____

١

٣٢ **تقول سلمى أن الشبكة المقابلة تمثل مكعب**
هل سلمى على صواب؟



نعم ☐ **لا** ☐

فسر إجابتك.

_____

١

٣٣ **أكمل الفراغات في الشبكة التالية:**

٨٠		×
	١٢	٢

١

الدرجة		٤

انتهت الاسئلة مع الدعاء للجميع بالتفوق والنجاح

سلطنة عُمان
وزارة التربية والتعليم

المديرية العامة للتربية والتعليم بمحافظة ظفار

نموذج إجابة امتحان الرياضيات الصف الخامس (مسائي)

نهاية العام الدراسي ١٤٤٥/١٤٤٦هـ - ٢٠٢٣/٢٠٢٤م - الفصل الدراسي الأول (الدور الأول)

المـــــادة: الرياضيات	الدرجة الكلية: (٤٠) درجة	تنبيـــــه: نموذج الإجابة في (٦) صفحات.

الصفحة	رقم المفردة	هدف التعلم	هدف التقويم	م. الطلب	الاجابة	الدرجات	الإرشادات
١	١	٥Nc٦	معرفة	منخفض	١٦ ، ٢٥	١	
١	٢	٥Nc١٠	معرفة	منخفض	أ)٧٨٩ ب) ١٥١	١ ١	
١	٣	٥Nc٢٠	معرفة	منخفض	٦٠٠	١	
١	٤	٥Nn٨	معرفة	منخفض	< >	١ ١	
١	٥	٥Nc١	معرفة	منخفض	٠,٦	١	
١	٦	٥Mt٣	معرفة	منخفض	١٣٤٥	١	

تابع نموذج إجابة امتحان الرياضيات الصف الخامس
نهاية العام الدراسي ١٤٤٥/١٤٤٦هـ - ٢٠٢٣/٢٠٢٤م – الفصل الدراسي الأول (الدور الأول)

الصفحة	رقم المفردة	هدف التعلم	هدف التقويم	م. الطلب	الاجابة	الدرجات	الإرشادات
٢	٧	٥Gs١	تطبيق	منخفض	٣	١	
٢	٨	٥Nc١٦	تطبيق	منخفض	صح خطأ صح	٢	جميع الإجابات صحيحة يعطي درجتان اجابتان صحيحتان يعطى درجة إجابة واحدة صحيحة يعطى صفر
٢	٩	٥Nc١٩	تطبيق	منخفض	١٨,٥٠٠ ـــ ١٣,٨٥٠ = ٤,٦٥٠	١	إذا كتب الطالب الناتج فقط بدون توضيح الطريقة يعطي درجة
٣	١٠	٥Ps٨	تطبيق	منخفض	حاصل جمع ثلاث أعداد فردية يكون فردي والعدد ٢٠ عدد زوجي	١	تراعى الحلول الاخرى
٣	١١	٥Gs٥	استدلال	منخفض	لأن المسافة بينهما غير ثابتة دائما أو يمكن أن يتقاطعا علي امتدادهما	١	تراعى الحلول الصحيحة
٣	١٢	٥Ps٦	استدلال	منخفض	١٢٠ ، ٢٣٠ ، ١٠٠٠	١	

تابع نموذج إجابة امتحان الرياضيات الصف الخامس
نهاية العام الدراسي ١٤٤٥/١٤٤٦هـ - ٢٠٢٣/٢٠٢٤م – الفصل الدراسي الأول (الدور الأول)

الصفحة	رقم المفردة	هدف التعلم	هدف التقويم	م. الطلب	الاجابة	الدرجات	الإرشادات
٤	١٣	٥Ps٩	استدلال	منخفض	٨	١	
٤	١٤	٥Ma٢	معرفة	متوسط	أ) ٣٠ ب) ٢٧	١ ١	
٥	١٥	٥Gp١	معرفة	متوسط	(١ ، ٢)	١	لا يعطي الطالب الدرجة في حالة اختياره أكثر من إجابة
٦	١٦	٥Nc٢	معرفة	متوسط	٦, ٦	١	
٧	١٧	٥Nn١١	معرفة	متوسط	٣, ٠٤ < ٣, ٤	١	
٥	١٨	٥Nc٤	معرفة	متوسط	١٠	١	تقبل الإجابة الصحيحة
٦	١٩	٥Nc١٨	تطبيق	متوسط	مجموع الثلاجة والتلفزيون ٣١٠ ريال	٢	تقبل الإجابة الصحيحة بأسلوب الطالب
٦	٢٠	٥Nc٢٣	تطبيق	متوسط	٢٣	١	
٦	٢١	٥Nn٢	تطبيق	متوسط	٩٥٠٣٠٢ ← ٣٠٠٠٠٠ ٣٢٠٦٠٧ ← ٣٠٠	١	إذا وصل اجابتان صح يعطى درجة إذا وصل واحدة فقط يعطى صفر

تابع نموذج إجابة امتحان الرياضيات الصف الخامس
نهاية العام الدراسي ١٤٤٥/١٤٤٦هـ - ٢٠٢٣/٢٠٢٤م – الفصل الدراسي الأول (الدور الأول)

الصفحة	رقم المفردة	هدف التعلم	هدف التقويم	م. الطلب	الاجابة	الدرجات	الإرشادات
					٣٠٠٠٠		
٦	٢٢	٥Nn١٢	تطبيق	متوسط	ـــ ٥٠	١	
٧	٢٣	٥Nc٢٣	تطبيق	متوسط	٢٢	١	
٧	٢٤	٥Gs٥	تطبيق	متوسط	الخط ٣ يوازي الخط ٤ ، أو الخط ٤ يوازي الخط ٣	١	تقبل الإجابة الصحيحة
٧	٢٥	٥Mt٢	استدلال	متوسط	لا ، لان الوقت الصحيح ١١:٠٩ م	٢	يعطى درجتان فقط على التفسير درجة إذا كتب الوقت بنظام ١٢ ساعة درجة إذا كتب م
٨	٢٦	٥Nc٢٢	استدلال	متوسط	نعم لان ٤ × ٥ , ٢ = ١٠	١	درجة إذا كانت الإجابة صحيحة
٨	٢٧	٥Nn١٠	معرفة	مرتفع	ـــ٢ درجة سيليزية	١	
٨	٢٨	٥MI٢	معرفة	مرتفع	٢٠٠٠	١	

تابع نموذج إجابة امتحان الرياضيات الصف الخامس
نهاية العام الدراسي ١٤٤٥/١٤٤٦هـ - ٢٠٢٣/٢٠٢٤م – الفصل الدراسي الأول (الدور الأول)

الصفحة	رقم المفردة	هدف التعلم	هدف التقويم	م. الطلب	الاجابة	الدرجات	الإرشادات
٨	٢٩	٥Gs١	تطبيق	مرتفع	٦+٦+٦ = ١٨ سم	٢	درجتان إذا كتب الطالب الناتج مباشرة أو مع الخطوات، إذا كتب الخطوات بدون ناتج يعطى درجة
٩	٣٠	٥Gs٤	تطبيق	مرتفع		١	تقبل الإجابة الصحيحة
					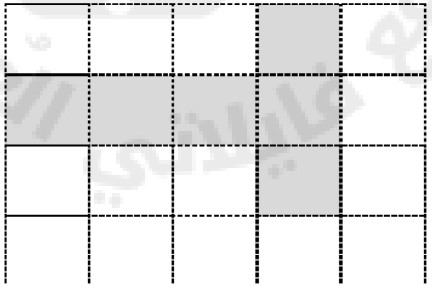		
٩	٣١	٥Nc٣	تطبيق	مرتفع	١٦ قطعة	١	
٩	٣٢	٥Gs٤	استدلال	مرتفع	لا ، هذه شبكة متوازي مستطيلات	١	تقبل باق الإجابات حسب تعبير الطالب

تابع نموذج إجابة امتحان الرياضيات الصف الخامس
نهاية العام الدراسي ١٤٤٥/١٤٤٦هـ - ٢٠٢٣/٢٠٢٤م – الفصل الدراسي الأول (الدور الأول)

الصفحة	رقم المفردة	هدف التعلم	هدف التقويم	م. الطلب	الاجابة	الدرجات	الإرشادات
٩	٣٣	٥Ps٢	استدلال	مرتفع	× ٦ ٨٠ ٢ ١٢ ١٦٠	١	إذا كتب الطالب العددان صحيحان يعطى درجة إذا كتب عدد واحد صحيح لا يعطى شيء

نهاية نموذج الإجابة

سلطنة عمان
وزارة التربية والتعليم
المديرية العامة للتربية والتعليم بمحافظة البريمي
دائرة القياس والتقويم التربوي
قسم تقويم تعلم مواد العلوم التطبيقية
امتحـان نهاية الفصل الدراسي الأول للصف الخامس – التجريبي – مادة الرياضيات

العام الدراسي ١٤٤٦هـ - ٢٠٢٤/٢٠٢٥م

- زمن الامتحان: ساعة ونصف
- الإجابة في الدفتر نفسه.
- الدرجة الكلية للامتحان: ٤٠ درجة.
- عدد صفحات أسئلة الامتحان: (٨).
- يسمح باستخدام: المسطرة، المنقلة، المثلث القائم، الورق الشفاف.
- **لا يسمح** باستخدام: الآلة الحاسبة.

أقرأ التعليمات الآتية في البداية:

- **أجب** عن جميع الأسئلة في الفراغ المخصص في ورقة الأسئلة.
- وضح **كل** خطوات حلك في دفتر الأسئلة.
- درجة كل سؤال أو جزء من السؤال مكتوبة في اليسار بين الحاصرتين []

الصفحة	الدرجة		التوقيع بالاسم	
	بالأرقام	بالحروف	المصحح الأول	المصحح الثاني
١				
٢				
٣				
٤				
٥				
٦				
٧				
٨				
المجموع			جمعه	مراجعة الجمع
المجموع	٤٠	أربعون		

اسم الطالب			
المدرسة		الصف	

المادة: الرياضيات الصف: الخامس تجريبي – الفصل الدراسي الأول – العام الدراسي ٢٠٢٤/٢٠٢٥م

١) اكتب قيمة الرقم ٣ في العدد ٢٦٣٤٥

..... [١]

٢) ضع علامة > أو < بين كل زوج من الأعداد:

٥,٩٣ ☐ ٣,١٦

٧,٣٥ ☐ ٧,٥٣

[١]

٣) حوط جميع الحروف التي بها خطوط متعامدة

M Z U T E C

[١]

٤) حول الوقت إلى نظام ٢٤ ساعة

٥:١٢ مساءً ← نظام ٢٤ ساعة ← .... : ....

[١]

٥) أكمل المخطط الآتي:

☐ ← ١٠- ← ٤٤٥ ← ٥٠+ ← ☐

[١]

٦) يمثل الجدول الآتي عدد الزوار في أحد المتاحف خلال ثلاثة أيام:

اليوم الأول	٤٥
اليوم الثاني	٥٢
اليوم الثالث	٣٧

احسب عدد الزوار خلال ٣ أيام.

.....

[١]

٧) حوط الشبكة التي تمثل مكعب مغلق



[١]

الدرجة ☐ ٧

يتبع/٢

٨) ضع علامة (√) في المربع الصحيح بجانب كل عبارة: [٢]

	صواب	خطأ
العدد ٨٥ يقبل القسمة على ٥		
العدد ٣٥٠ يقبل القسمة على ١٠ فقط		
العدد ٦٤٠٠يقبل القسمة على ١٠٠		

٩) من بين البطاقات المعطاة [١]



اكمل المربعات بوضع رقمين مختلفين للحصول على عبارة صحيحة

☐ + ☐ = عدد زوجي

١٠) صل العبارة في العمود (أ) بمساحة المستطيل المناسبة من العمود (ب) [٢]

العمود (أ)
مستطيل يحتوي على ٥ صفوف في كل صف ٦ مربعات متطابقة
مستطيل يحتوي على ٣ صفوف في كل صف ٤ مربعات متطابقة
مستطيل يحتوي على ٤ صفوف في كل صف ٦ مربعات متطابقة

العمود (ب)
١٢
٢٤
١٠
٣٠

١١) حوط ناتج ٤,٩ × ٥ = [١]

١٥,٥ ٢٤,٥ ٣٧,٦ ٤٥,٨

الدرجة		٦

يتبع/٣

١٢) اوجد قياس الزاوية (أ) الموضحة في المثلث الآتي

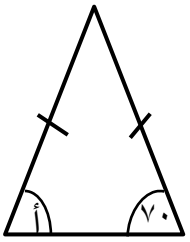

قياس أ = ... [١]

١٣) اكتب الاعداد الناقصة في المخطط الآتي:

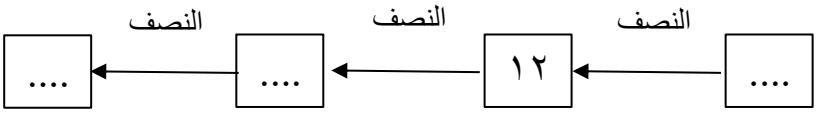

[٢]

١٤) تتكون الطبقة السفلى في الهرم المجاور من ١٥٠ قالباً
والطبقة الثانية من ١٢٠ قالباً
والطبقة الثالثة من ٩٠ قالباً

حوط عدد القوالب التي تتكون منها الطبقة الخامسة

٦٠ ٥٠ ٤٠ ٣٠

[١]

١٥) من خلال الاعداد الموجودة في الشكل المجاور
اكتب عددين مربعين ومجموعهما عدد مربع

١٦ ٢٤
١٢
٣٦ ٩
٢٥ ٤

□ + □ = □

[٢]

١٦) بدأ أحمد القراءة في الوقت الذي تشير إليه الساعة المجاورة
واستمر حتى الساعة ١٢:٥٠

احسب المدة الزمنية التي استغرقها أحمد في القراءة

..... [١]

الدرجة		٧

يتبع/٤

١٧) وجد سامي أن وزن حقيبة المدرسة الخاصة به تساوي ٣,٢ كيلوغرام

اكتب وزن الحقيبة بالغرام

وزن الحقيبة بالغرام = ...

[١]

١٨) صف الانسحاب الذي يُحرك الشكل (أ) إلى الشكل (ب) على شبكة الاحداثيات الآتية:

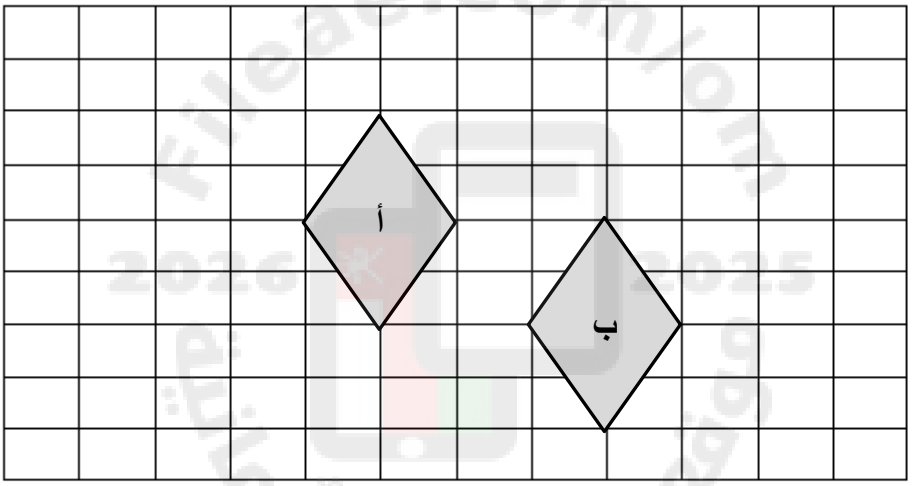

.....

[٢]

١٩) اكتب الرقم المناسب في المربع الذي يجعل الجملة العددية صحيحة

٨٣٢ ☐ ٩ < ٨٣٢٥٩

[١]

٢٠) في مدينة باردة، سجلت درجات الحرارة اليومية خلال أسبوع كما يوضحه الجدول الآتي:

اليوم	السبت	الأحد	الأثنين	الثلاثاء	الأربعاء	الخميس	الجمعة
درجات الحرارة	٥ ^{o}	٢ ^{o}	٠ ^{o}	-٣ ^{o}	-٥ ^{o}	-٨ ^{o}	-١٠ ^{o}

اوجد مقدار الانخفاض الكلي في درجات الحرارة من السبت إلى الجمعة

.....

[١]

الدرجة ☐ ٥

يتبع/٥

٢١) اكتب العدد المفقود للحصول على عبارة صحيحة

٣٢٠ ÷ ☐ = ٨ [١]

٢٢) اكتب عدداً في الدائرة بحيث يكون مجموع كل قطر يساوي ١

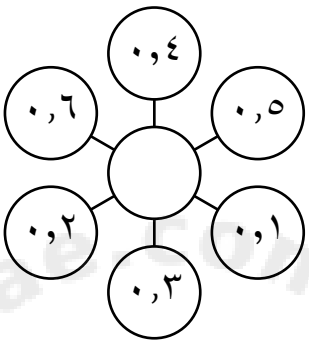

[١]

٢٣) صل بخط بين عددين في العمودين أ و ب لتكوين زوج عوامل
ثم صل بخط لربط زوج العوامل بالعدد الذي يكونانه في العمود حـ

تم رسم مثال واحد لك.

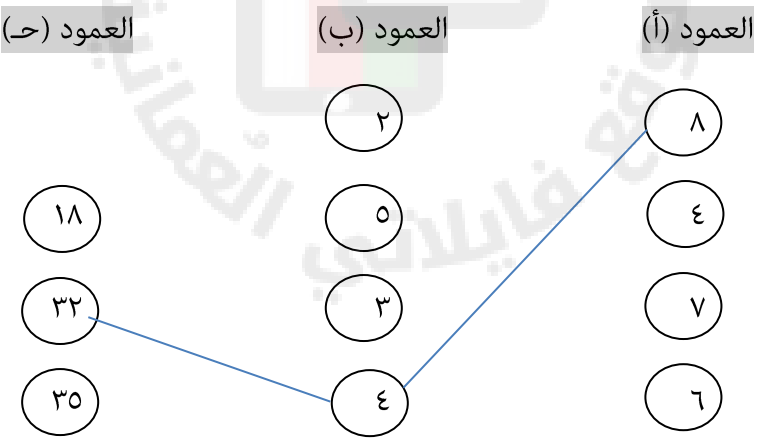

[٢]

٢٤) إذا كان في مسرح مدرسي ٩ صفوف
وفي كل صف ٣٠ كرسياً
أوجد عدد الكراسي في المسرح

..... [١]

الدرجة		٥

يتبع/٦

٢٥) قرر طلبة الصف الخامس إجراء تجربة لقياس استهلاك الأرز عند الطيور البرية.
اشتروا كيس أرز بوزن ١٠ كغم
وبدأو باستخدام جزء من الأرز لتغذية الطيور كل أسبوع
في نهاية الأسبوع الأول، تبقى ٨,٥ كغم من الأرز في الكيس
مما يعني أنه تم استخدام ١,٥ كغم

أكمل الجدول الآتي لحساب كمية الأرز المستخدمة والمتبقية بعد كل أسبوع

رقم الأسبوع	كتلة الأرز المستخدمة	كتلة الكيس في نهاية الأسبوع
١	١,٥ كغم	٨,٥ كغم
٢	٢ كغم	..... كغم
٣	..... كغم	٣,٥ كغم

[١]

٢٦) تمثل الاحداثيات الموضحه في الشبكة رؤوس مستطيل

حدد احداثيات الرأس الرابع

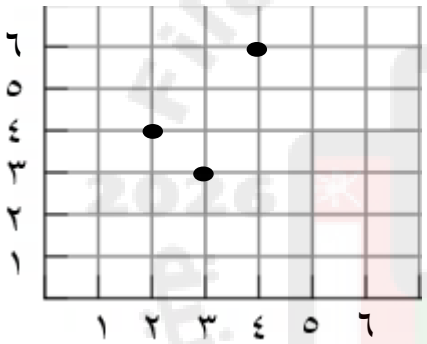

[١]

٢٧) شارك أحمد في مسابقة للقراءة لمدة ثلاثة أسابيع،
فإذا قرأ ١٢٣ صفحة في الأسبوع الأول
و٣٥٤ صفحة في الأسبوع الثاني
وكان مجموع الصفحات التي قرأها خلال الثلاثة أسابيع ٦٣٤ صفحة

احسب عدد الصفحات التي قرأها في الأسبوع الثالث

..... [١]

٢٨) حوط طول ضلع المضلع المنتظم المجاور

٣ سم ٤ سم

٥ سم ٦ سم

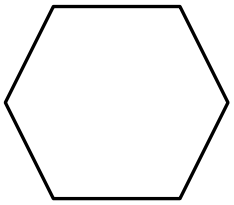

المحيط = ٣٦ سم

[١]

الدرجة | ٤ |

٢٩) اكتب الأعداد المفقودة في الشبكة الآتية

×	٩	٤٠
.....	٧٢	.....
٢٠	.....	٨٠٠

[٢]

٣٠) في هذه المتتالية يعد كل عدد مضاعفاً للعدد السابق

اكتب الأعداد المفقود في المتتالية

	٣	٦	١٢	

[١]

٣١) لدى ليلى ٩ أكياس من الحلوى
يحتوي كل كيس على ٦ قطع.
إذا أرادت توزيع جميع قطع الحلوى بالتساوي على صديقاتها الثلاث

أوجد عدد قطع الحلوى التي ستحصل عليها كل صديقة

.....

[١]

٣٢) استخدم الأرقام ٢، ٣، ٧ لإكمال المربعات حتى تكون العملية الحسابية صحيحة.

يمكن استخدام الأرقام مرة واحدة فقط

□□ ÷ □ = ٢٤

[١]

الدرجة		٥

يتبع /٨

٣٣) مع سامي ٢٠ ريالاً، إذا اشترى جميع الأصناف المسجلة في الجدول الآتي

الصنف	السعر
التفاح	٧,٣٠٠ ريالاً
البرتقال	٥,٦٥٠ ريالاً
الموز	٤,٥٢٥ ريالاً

هل يكفي مبلغ ٢٠ ريالاً لشراء الأصناف الثلاثة؟

◯ نعم ◯ لا

فسر إجابتك

.....

.....

.....

[١]

الدرجة		١

انتهت الأسئلة مع الدعاء للجميع بالتوفيق والنجاح.

دليل التصحيح امتحان مادة الرياضيات للصف الخامس - التجريبي – الفصل الدراسي الأول للعام الدراسي ١٤٤٦هـ - ٢٠٢٤ / ٢٠٢٥م

رقم المفردة	هدف التقويم	مستوى الصعوبة	الهدف التعليمي	الصفحة	الاجابة	الدرجة	الارشادات
١	AO١	L	(١-١)	١٢	٣٠٠	[١]	-
٢	AO١	L	(١-١١)	٦٢	٥,٩٣ < ٣,١٦ ٧,٣٥ > ٧,٥٣	[١]	درجة: اذا كانت الاجابتان صحيحتان
٣	AO١	L	(١-٥)	٣٧	C E T U Z M	[١]	يحصل الطالب على درجة اذا كانت جميع الإجابات صحيحة
٤	AO١	L	(١-٨)	٤٨	١٧:١٢	[١]	-
٥	AO١	L	(١-٢)	١٩	٤٣٥ $\xrightarrow{-١٠}$ ٤٤٥ $\xrightarrow{+٥٠}$ ٤٩٥	[١]	يحصل الطالب على الدرجة اذا كانت الاجابتان صحيحتان
٦	AO١	M	(٢-٢)	٢٠	١٣٤	[١]	—

يتبع/ ٢

سلطنة عُمان
وزارة التربية والتعليم
المديرية العامة للتربية والتعليم
محافظة البريمي

دليل التصحيح امتحان مادة الرياضيات للصف الخامس - التجريبي – الفصل الدراسي الأول للعام الدراسي ١٤٤٦هـ - ٢٠٢٤ / ٢٠٢٥م

رقم المفردة	هدف التقويم	مستوى الصعوبة	الهدف التعليمي	الصفحة	الإجابة	الدرجة	الارشادات
٧	AO١	M	(٥-٣)	٤١	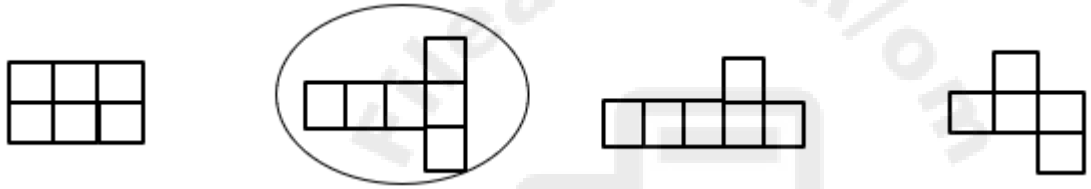	[١]	—
٨	AO١	M	(٤-٢)	٣٢		[٢]	درجتان: جميع الإجابات صحيحة. درجة: اجابتان صحيحتان. صفر: إجابة واحدة صحيحة أو جميع الإجابات غير صحيحة.
٩	AO١	M	(١٠-٢)	٥٨	٦ + ٨ = عدد زوجي	[١]	درجة: اذا كتب الرقمين صحيحين

	صواب	خطأ
العدد ٨٥ يقبل القسمة على ٥	√	
العدد ٣٥٠ يقبل القسمة على ١٠ فقط		√
العدد ٦٤٠٠يقبل القسمة على ١٠٠	√	

يتبع/ ٣

دليل التصحيح امتحان مادة الرياضيات للصف الخامس - التجريبي – الفصل الدراسي الأول للعام الدراسي ١٤٤٦هـ - ٢٠٢٤ / ٢٠٢٥م

رقم المفردة	هدف التقويم	مستوى الصعوبة	الهدف التعليمي	الصفحة	الاجابة	الدرجة	الارشادات
١٠	AO١	M	(١-٩)	٥٢	العمود (أ): مستطيل يحتوي على ٥ صفوف في كل صف ٦ مربعات متطابقة مستطيل يحتوي على ٣ صفوف في كل صف ٤ مربعات متطابقة مستطيل يحتوي على ٤ صفوف في كل صف ٦ مربعات متطابقة العمود (ب): ١٢ ، ٢٤ ، ١٠ ، ٣٠	[٢]	يحصل الطالب على درجتين اذا كانت جميع الإجابات صحيحة درجة: اجابتين صحيحتين صفر: إجابة واحدة صحيحة أو جميع الإجابات غير صحيحة
١١	AO١	H	(٣-٢)	٢٦	١٥,٥ ، (٢٤,٥) ، ٣٧,٦ ، ٤٥,٨	[١]	ــــــ
١٢	AO١	H	(٥-٢)	٣٨	٧٠	[١]	ــــــ
١٣	AO١	H	(١٢-٣)	٦٦	٢٤ ← النصف ← ١٢ ← النصف ← ٦ ← النصف ← ٣	[٢]	درجتان: جميع الإجابات صحيحة درجة : اجابتان أو إجابة واحدة صحيحة صفر: جميع الإجابات غير صحيحة

يتبع/ ٤

سلطنة عُمان
وزارة التربية والتعليم
المديرية العامة للتربية والتعليم
محافظة البريمي

دليل التصحيح امتحان مادة الرياضيات للصف الخامس - التجريبي – الفصل الدراسي الأول للعام الدراسي ١٤٤٦هـ - ٢٠٢٤ / ٢٠٢٥م

رقم المفردة	هدف التقويم	مستوى الصعوبة	الهدف التعليمي	الصفحة	الاجابة	الدرجة	الارشادات
١٤	AO٢	L	(١-٣)	١٦	٦٠ ٥٠ ٤٠ ٣٠	[١]	
١٥	AO٢	L	(٤-١)	٣٠	١٦ + ٩ = ٢٥	[٢]	درجتان: جميع الاعداد في مكانها الصحيح درجة اذا وضع العددين الصحيحين ولكن الناتج غير صحيح أو العكس
١٦	AO٢	L	(٨-٢)	٥٠	٣٥ دقيقة	[١]	
١٧	AO٢	L	(٧-١)	٤٦	٣٢٠٠	[١]	
١٨	AO٢	L	(٦-٢)	٤٤	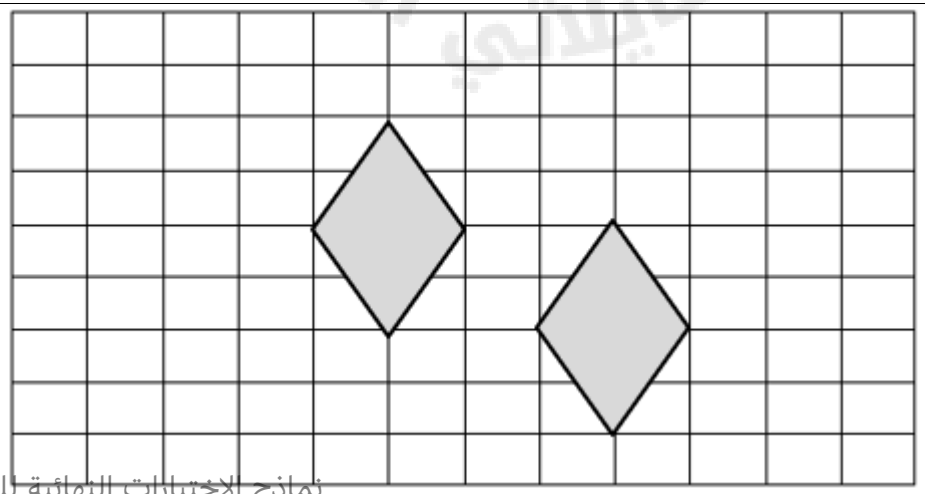	[٢]	درجتين: الرسم في مكانه الصحيح. درجة: اذا ازاح الشكل إلى جهة واحدة فقط

دليل التصحيح امتحان مادة الرياضيات للصف الخامس - التجريبي – الفصل الدراسي الأول للعام الدراسي ١٤٤٦هـ - ٢٠٢٤ / ٢٠٢٥م

يتبع/ ٥

رقم المفردة	هدف التقويم	مستوى الصعوبة	الهدف التعليمي	الصفحة	الاجابة	الدرجة	الارشادات
١٩	AO٢	M	(١-٢)	١٤	٠ أو ١ أو ٢ أو ٣ أو ٤	[١]	تقبل أي إجابة صحيحة
٢٠	AO٢	M	(١٠-٣)	٥٩	-١٥	[١]	-
٢١	AO٢	M	(٣-٤)	٢٩	٤٠	[١]	-
٢٢	AO٢	M	(١٢-١)	٦٣	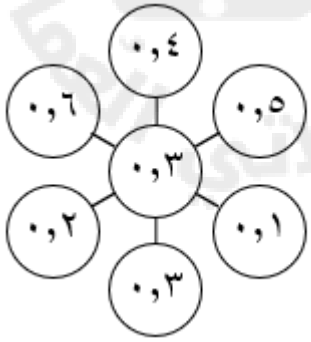	[١]	-

يتبع/ ٦

دليل التصحيح امتحان مادة الرياضيات للصف الخامس - التجريبي – الفصل الدراسي الأول للعام الدراسي ١٤٤٦هـ - ٢٠٢٤ / ٢٠٢٥م

رقم المفردة	هدف التقويم	مستوى الصعوبة	الهدف التعليمي	الصفحة	الاجابة	الدرجة	الارشادات
٢٣	AO٢	M	(٤-٣)	٣٤	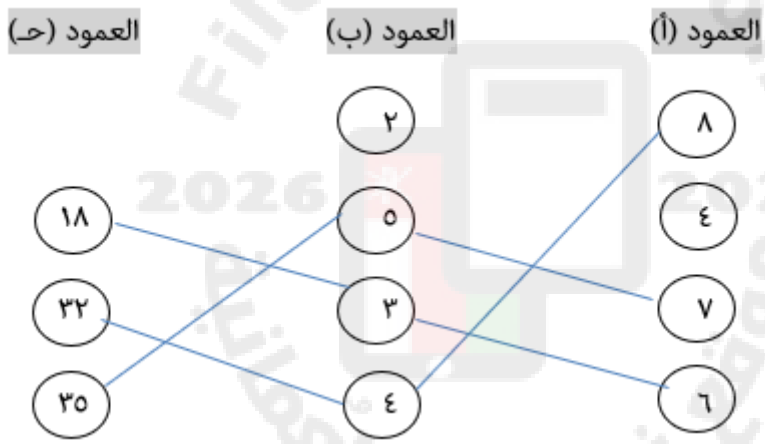	[٢]	يحصل الطالب على درجتين اذا كانت جميع التوصيلات صحيحة درجة اذا تم التوصيل بين عاملين فقط مع الناتج
٢٤	AO٢	H	(١٢-٢)	٦٤	٢٧٠	[١]	
٢٥	AO٢	H	(١٣-١)	٦٩	رقم الأسبوع: ١، ٢، ٣ كتلة الأرز المستخدمة: ١,٥ كغم، ٢ كغم، ٣ كغم كتلة الكيس في نهاية الأسبوع: ٨,٥ كغم، ٦,٥ كغم، ٣,٥ كغم	[١]	درجة: الكميتان صحيحتان. صفر: كمية واحدة صحيحة أو جميع الكميات غير صحيحة.

يتبع/ ٧

دليل التصحيح امتحان مادة الرياضيات للصف الخامس - التجريبي – الفصل الدراسي الأول للعام الدراسي ١٤٤٦هـ - ٢٠٢٤ / ٢٠٢٥م

رقم المفردة	هدف التقويم	مستوى الصعوبة	الهدف التعليمي	الصفحة	الاجابة	الدرجة	الارشادات
٢٦	AO٢	M	(١-٦)	٤٢	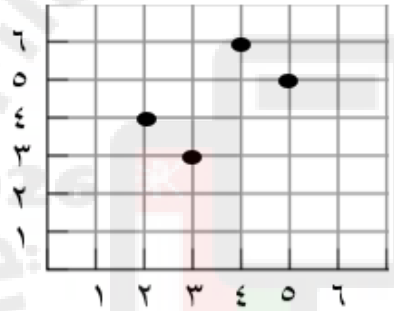	[١]	درجة على تعيين النقطة (٥،٥) ملاحظة: اذا حدد الطالب النقطة (٣، ٧) تعتبر الإجابة صحيحة
٢٧	AO٣	L	(١٣-٢)	٧٠	١٥٧	[١]	-
٢٨	AO٣	L	(٩-٢)	٥٤	٣ سم ٤ سم ٥ سم ٦ سم	[١]	-
٢٩	AO٣	L	(٣-٣)	٢٨	× ٩ ٤٠ ٨ ٧٢ ٣٢٠ ٢٠ ١٨٠ ٨٠٠	[٢]	درجتان: جميع الإجابات صحيحة. درجة: اجابتان صحيحتان او إجابة واحدة صحيحة. صفر: جميع الإجابات غير صحيحة

يتبع/ ٨

سلطنة عُمان
وزارة التربية والتعليم
المديرية العامة للتربية والتعليم
محافظة البريمي

دليل التصحيح امتحان مادة الرياضيات للصف الخامس - التجريبي – الفصل الدراسي الأول للعام الدراسي ١٤٤٦هـ - ٢٠٢٤ / ٢٠٢٥م

رقم المفردة	هدف التقويم	مستوى الصعوبة	الهدف التعليمي	الصفحة	الاجابة	الدرجة	الارشادات
٣٠	AO٣	M	(١٠- ١)	٥٧	١,٥ | ٣ | ٦ | ١٢ | ٢٤	[١]	درجة: اجابتان صحيحتان أو إجابة واحدة صحيحة صفر: جميع الإجابات غير صحيحة
٣١	AO٣	M	(١٤- ١)	٧٤	١٨	[١]	
٣٢	AO٣	M	(٣- ١)	٢٣	٢ | ٧ ÷ ٣ = ٢٤	[١]	درجة: جميع الأرقام في مكانها الصحيح
٣٣	AO٣	H	(١٣- ٣)	٧٢	نعم لان اجمالي سعر الأصناف التي اشتراها سامي ١٧,٤٧٥ ريالاً وهي أقل من ٢٠ ريالاً	[١]	درجة على التفسير الصحيح ملاحظة: لا تحسب درجة للإجابة بنعم

تراعي جميع الإجابات الأخرى الصحيحة

سلطنة عمان
وزارة التربية والتعليم
المديرية العامة للتربية والتعليم بمحافظة البريمي
دائرة القياس والتقويم التربوي
قسم تقويم تعلم مواد العلوم التطبيقية
امتحـان نهاية الفصل الدراسي الأول للصف الخامس – التجريبي – مادة الرياضيات

العام الدراسي ١٤٤٦هـ - ٢٠٢٤/٢٠٢٥م

- زمن الامتحان: ساعة ونصف
- الإجابة في الدفتر نفسه.
- الدرجة الكلية للامتحان: ٤٠ درجة.
- عدد صفحات أسئلة الامتحان: (٨).
- يسمح باستخدام: المسطرة، المنقلة، المثلث القائم، الورق الشفاف.
- **لا يسمح** باستخدام: الآلة الحاسبة.

أقرأ التعليمات الآتية في البداية:

- **أجب** عن جميع الأسئلة في الفراغ المخصص في ورقة الأسئلة.
- وضح **كل** خطوات حلك في دفتر الأسئلة.
- درجة كل سؤال أو جزء من السؤال مكتوبة في اليسار بين الحاصرتين []

الصفحة	الدرجة		التوقيع بالاسم	
	بالأرقام	بالحروف	المصحح الأول	المصحح الثاني
١				
٢				
٣				
٤				
٥				
٦				
٧				
٨				
المجموع			جمعه	مراجعة الجمع
المجموع	٤٠	أربعون		

اسم الطالب			
المدرسة		الصف	

المادة: الرياضيات الصف: الخامس تجريبي – الفصل الدراسي الأول – العام الدراسي ٢٠٢٤/٢٠٢٥م

١) اكتب قيمة الرقم ٣ في العدد ٢٦٣٤٥

..... [١]

٢) ضع علامة > أو < بين كل زوج من الأعداد:

٥,٩٣ ☐ ٣,١٦

٧,٣٥ ☐ ٧,٥٣

[١]

٣) حوط جميع الحروف التي بها خطوط متعامدة

M Z U T E C

[١]

٤) حول الوقت إلى نظام ٢٤ ساعة

٥:١٢ مساءً ← نظام ٢٤ ساعة ← .... : ....

[١]

٥) أكمل المخطط الآتي:

☐ ← ١٠- ← ٤٤٥ ← ٥٠+ ← ☐

[١]

٦) يمثل الجدول الآتي عدد الزوار في أحد المتاحف خلال ثلاثة أيام:

اليوم الأول	٤٥
اليوم الثاني	٥٢
اليوم الثالث	٣٧

احسب عدد الزوار خلال ٣ أيام.

.....

[١]

٧) حوط الشبكة التي تمثل مكعب مغلق



[١]

الدرجة ☐ ٧

يتبع/٢

٨) ضع علامة (√) في المربع الصحيح بجانب كل عبارة: [٢]

	صواب	خطأ
العدد ٨٥ يقبل القسمة على ٥		
العدد ٣٥٠ يقبل القسمة على ١٠ فقط		
العدد ٦٤٠٠يقبل القسمة على ١٠٠		

٩) من بين البطاقات المعطاة [١]



اكمل المربعات بوضع رقمين مختلفين للحصول على عبارة صحيحة

☐ + ☐ = عدد زوجي

١٠) صل العبارة في العمود (أ) بمساحة المستطيل المناسبة من العمود (ب) [٢]

العمود (أ)
مستطيل يحتوي على ٥ صفوف في كل صف ٦ مربعات متطابقة
مستطيل يحتوي على ٣ صفوف في كل صف ٤ مربعات متطابقة
مستطيل يحتوي على ٤ صفوف في كل صف ٦ مربعات متطابقة

العمود (ب)
١٢
٢٤
١٠
٣٠

١١) حوط ناتج ٤,٩ × ٥ = [١]

١٥,٥ ٢٤,٥ ٣٧,٦ ٤٥,٨

الدرجة		٦

يتبع/٣

١٢) اوجد قياس الزاوية (أ) الموضحة في المثلث الآتي

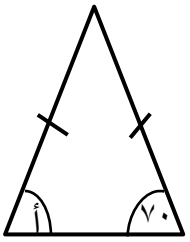

قياس أ = ... [١]

١٣) اكتب الاعداد الناقصة في المخطط الآتي:

.... ← النصف ← ١٢ ← النصف ← .... ← النصف ← .... [٢]

١٤) تتكون الطبقة السفلى في الهرم المجاور من ١٥٠ قالباً
والطبقة الثانية من ١٢٠ قالباً
والطبقة الثالثة من ٩٠ قالباً

حوط عدد القوالب التي تتكون منها الطبقة الخامسة

٦٠ ٥٠ ٤٠ ٣٠ [١]

١٥) من خلال الاعداد الموجودة في الشكل المجاور
اكتب عددين مربعين ومجموعهما عدد مربع

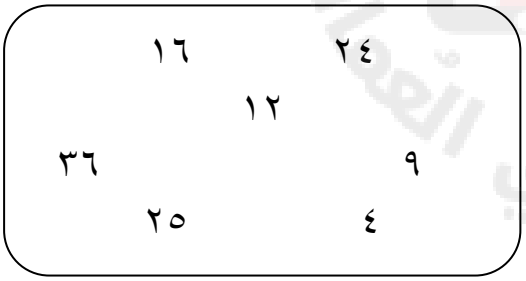

☐ + ☐ = ☐ [٢]

١٦) بدأ أحمد القراءة في الوقت الذي تشير إليه الساعة المجاورة
واستمر حتى الساعة ١٢:٥٠

احسب المدة الزمنية التي استغرقها أحمد في القراءة

..... [١]

الدرجة		٧

يتبع/٤

١٧) وجد سامي أن وزن حقيبة المدرسة الخاصة به تساوي ٣,٢ كيلوغرام

اكتب وزن الحقيبة بالغرام

وزن الحقيبة بالغرام = ...

[١]

١٨) صف الانسحاب الذي يُحرك الشكل (أ) إلى الشكل (ب) على شبكة الاحداثيات الآتية:

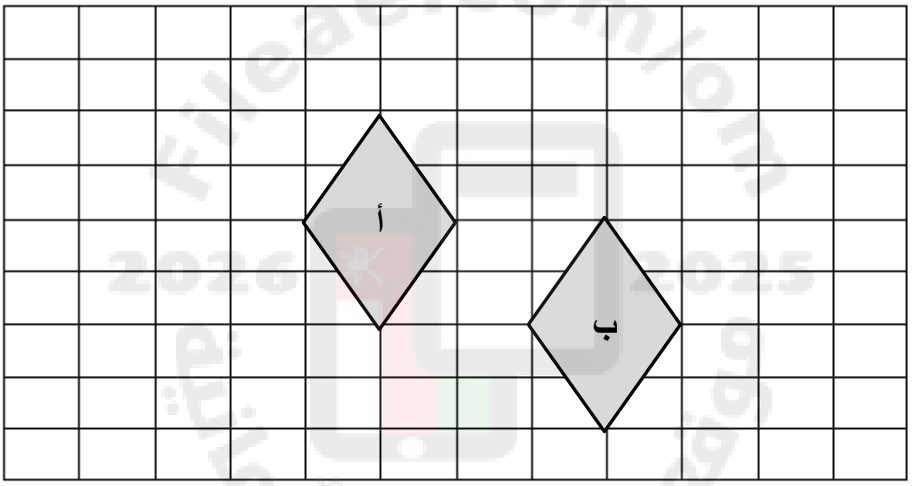

.....

[٢]

١٩) اكتب الرقم المناسب في المربع الذي يجعل الجملة العددية صحيحة

٨٣٢ ☐ ٩ < ٨٣٢٥٩

[١]

٢٠) في مدينة باردة، سجلت درجات الحرارة اليومية خلال أسبوع كما يوضحه الجدول الآتي:

اليوم	السبت	الأحد	الأثنين	الثلاثاء	الأربعاء	الخميس	الجمعة
درجات الحرارة	٥ ^{o}	٢ ^{o}	٠ ^{o}	-٣ ^{o}	-٥ ^{o}	-٨ ^{o}	-١٠ ^{o}

اوجد مقدار الانخفاض الكلي في درجات الحرارة من السبت إلى الجمعة

.....

[١]

الدرجة ☐ ٥

يتبع/٥

٢١) اكتب العدد المفقود للحصول على عبارة صحيحة

٣٢٠ ÷ ☐ = ٨ [١]

٢٢) اكتب عدداً في الدائرة بحيث يكون مجموع كل قطر يساوي ١

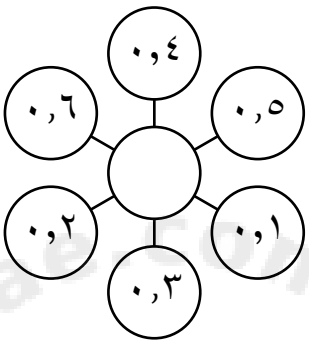

[١]

٢٣) صل بخط بين عددين في العمودين أ و ب لتكوين زوج عوامل
ثم صل بخط لربط زوج العوامل بالعدد الذي يكونانه في العمود حـ

تم رسم مثال واحد لك.

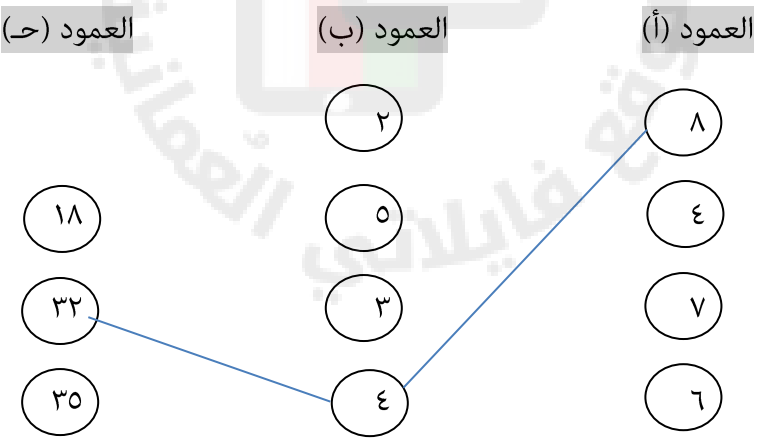

[٢]

٢٤) إذا كان في مسرح مدرسي ٩ صفوف
وفي كل صف ٣٠ كرسياً
أوجد عدد الكراسي في المسرح

..... [١]

الدرجة		٥

يتبع/٦

٢٥) قرر طلبة الصف الخامس إجراء تجربة لقياس استهلاك الأرز عند الطيور البرية.
اشتروا كيس أرز بوزن ١٠ كغم
وبدأو باستخدام جزء من الأرز لتغذية الطيور كل أسبوع
في نهاية الأسبوع الأول، تبقى ٨,٥ كغم من الأرز في الكيس
مما يعني أنه تم استخدام ١,٥ كغم

أكمل الجدول الآتي لحساب كمية الأرز المستخدمة والمتبقية بعد كل أسبوع

رقم الأسبوع	كتلة الأرز المستخدمة	كتلة الكيس في نهاية الأسبوع
١	١,٥ كغم	٨,٥ كغم
٢	٢ كغم	..... كغم
٣	..... كغم	٣,٥ كغم

[١]

٢٦) تمثل الاحداثيات الموضحه في الشبكة رؤوس مستطيل

حدد احداثيات الرأس الرابع

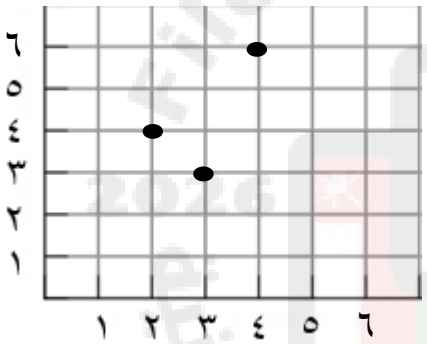

[١]

٢٧) شارك أحمد في مسابقة للقراءة لمدة ثلاثة أسابيع،
فإذا قرأ ١٢٣ صفحة في الأسبوع الأول
و٣٥٤ صفحة في الأسبوع الثاني
وكان مجموع الصفحات التي قرأها خلال الثلاثة أسابيع ٦٣٤ صفحة

احسب عدد الصفحات التي قرأها في الأسبوع الثالث

..... [١]

٢٨) حوط طول ضلع المضلع المنتظم المجاور

٣ سم ٤ سم

٥ سم ٦ سم

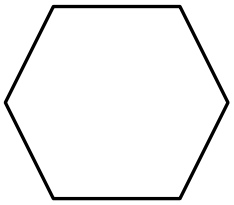

المحيط = ٣٦ سم

[١]

الدرجة | ٤ |

٢٩) اكتب الأعداد المفقودة في الشبكة الآتية

×	٩	٤٠
.....	٧٢	.....
٢٠	.....	٨٠٠

[٢]

٣٠) في هذه المتتالية يعد كل عدد مضاعفاً للعدد السابق

اكتب الأعداد المفقود في المتتالية

	٣	٦	١٢	

[١]

٣١) لدى ليلى ٩ أكياس من الحلوى
يحتوي كل كيس على ٦ قطع.
إذا أرادت توزيع جميع قطع الحلوى بالتساوي على صديقاتها الثلاث

أوجد عدد قطع الحلوى التي ستحصل عليها كل صديقة

.....

[١]

٣٢) استخدم الأرقام ٢، ٣، ٧ لإكمال المربعات حتى تكون العملية الحسابية صحيحة.

يمكن استخدام الأرقام مرة واحدة فقط

□□ ÷ □ = ٢٤

[١]

الدرجة		٥

يتبع /٨

٣٣) مع سامي ٢٠ ريالاً، إذا اشترى جميع الأصناف المسجلة في الجدول الآتي

الصنف	السعر
التفاح	٧,٣٠٠ ريالاً
البرتقال	٥,٦٥٠ ريالاً
الموز	٤,٥٢٥ ريالاً

هل يكفي مبلغ ٢٠ ريالاً لشراء الأصناف الثلاثة؟

◯ نعم ◯ لا

فسر إجابتك

.....

.....

.....

[١]

الدرجة		١

انتهت الأسئلة مع الدعاء للجميع بالتوفيق والنجاح.

سلطنة عُمان
وزارة التربية والتعليم
المديرية العامة للتربية والتعليم
محافظة البريمي

دليل التصحيح امتحان مادة الرياضيات للصف الخامس - التجريبي – الفصل الدراسي الأول للعام الدراسي ١٤٤٦هـ - ٢٠٢٤ / ٢٠٢٥م

رقم المفردة	هدف التقويم	مستوى الصعوبة	الهدف التعليمي	الصفحة	الاجابة	الدرجة	الارشادات
١	AO١	L	(١-١)	١٢	٣٠٠	[١]	-
٢	AO١	L	(١-١١)	٦٢	٥,٩٣ < ٣,١٦ ٧,٣٥ > ٧,٥٣	[١]	درجة: اذا كانت الاجابتان صحيحتان
٣	AO١	L	(١-٥)	٣٧	C (E) (T) U Z M	[١]	يحصل الطالب على درجة اذا كانت جميع الإجابات صحيحة
٤	AO١	L	(١-٨)	٤٨	١٧:١٢	[١]	-
٥	AO١	L	(١-٢)	١٩	٤٣٥ ← -١٠ ٤٤٥ ← +٥٠ ٤٩٥	[١]	يحصل الطالب على الدرجة اذا كانت الاجابتان صحيحتان
٦	AO١	M	(٢-٢)	٢٠	١٣٤	[١]	—

يتبع/ ٢

سلطنة عُمان
وزارة التربية والتعليم
المديرية العامة للتربية والتعليم
محافظة البريمي

دليل التصحيح امتحان مادة الرياضيات للصف الخامس - التجريبي – الفصل الدراسي الأول للعام الدراسي ١٤٤٦هـ - ٢٠٢٤ / ٢٠٢٥م

رقم المفردة	هدف التقويم	مستوى الصعوبة	الهدف التعليمي	الصفحة	الإجابة	الدرجة	الارشادات
٧	AO١	M	(٥-٣)	٤١	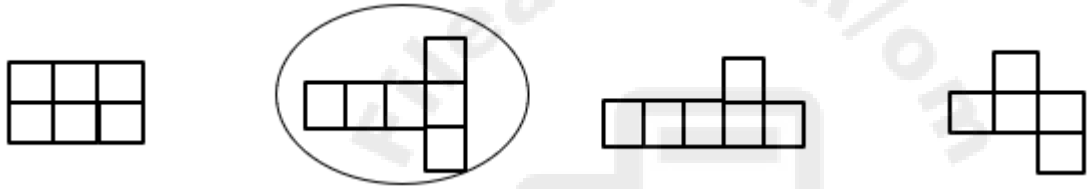	[١]	—
٨	AO١	M	(٤-٢)	٣٢		[٢]	درجتان: جميع الإجابات صحيحة. درجة: اجابتان صحيحتان. صفر: إجابة واحدة صحيحة أو جميع الإجابات غير صحيحة.
٩	AO١	M	(١٠-٢)	٥٨	٦ + ٨ = عدد زوجي	[١]	درجة: اذا كتب الرقمين صحيحين

	صواب	خطأ
العدد ٨٥ يقبل القسمة على ٥	√	
العدد ٣٥٠ يقبل القسمة على ١٠ فقط		√
العدد ٦٤٠٠يقبل القسمة على ١٠٠	√	

يتبع/ ٣

سلطنة عُمان
وزارة التربية والتعليم
المديرية العامة للتربية والتعليم
محافظة البريمي

دليل التصحيح امتحان مادة الرياضيات للصف الخامس - التجريبي – الفصل الدراسي الأول للعام الدراسي ١٤٤٦هـ - ٢٠٢٤ / ٢٠٢٥م

رقم المفردة	هدف التقويم	مستوى الصعوبة	الهدف التعليمي	الصفحة	الاجابة	الدرجة	الارشادات
١٠	AO١	M	(١-٩)	٥٢	العمود (أ): مستطيل يحتوي على ٥ صفوف في كل صف ٦ مربعات متطابقة مستطيل يحتوي على ٣ صفوف في كل صف ٤ مربعات متطابقة مستطيل يحتوي على ٤ صفوف في كل صف ٦ مربعات متطابقة العمود (ب): ١٢ ، ٢٤ ، ١٠ ، ٣٠	[٢]	يحصل الطالب على درجتين اذا كانت جميع الإجابات صحيحة درجة: اجابتين صحيحتين صفر: إجابة واحدة صحيحة أو جميع الإجابات غير صحيحة
١١	AO١	H	(٣-٢)	٢٦	١٥,٥ ، (٢٤,٥) ، ٣٧,٦ ، ٤٥,٨	[١]	ــــــ
١٢	AO١	H	(٥-٢)	٣٨	٧٠	[١]	ــــــ
١٣	AO١	H	(١٢-٣)	٦٦	٢٤ ← النصف ← ١٢ ← النصف ← ٦ ← النصف ← ٣	[٢]	درجتان: جميع الإجابات صحيحة درجة : اجابتان أو إجابة واحدة صحيحة صفر: جميع الإجابات غير صحيحة

يتبع/ ٤

سلطنة عُمان
وزارة التربية والتعليم
المديرية العامة للتربية والتعليم
محافظة البريمي

دليل التصحيح امتحان مادة الرياضيات للصف الخامس - التجريبي – الفصل الدراسي الأول للعام الدراسي ١٤٤٦هـ - ٢٠٢٤ / ٢٠٢٥م

رقم المفردة	هدف التقويم	مستوى الصعوبة	الهدف التعليمي	الصفحة	الاجابة	الدرجة	الارشادات
١٤	AO٢	L	(١-٣)	١٦	٦٠ ٥٠ ٤٠ ٣٠	[١]	
١٥	AO٢	L	(٤-١)	٣٠	١٦ + ٩ = ٢٥	[٢]	درجتان: جميع الاعداد في مكانها الصحيح درجة اذا وضع العددين الصحيحين ولكن الناتج غير صحيح أو العكس
١٦	AO٢	L	(٨-٢)	٥٠	٣٥ دقيقة	[١]	
١٧	AO٢	L	(٧-١)	٤٦	٣٢٠٠	[١]	
١٨	AO٢	L	(٦-٢)	٤٤	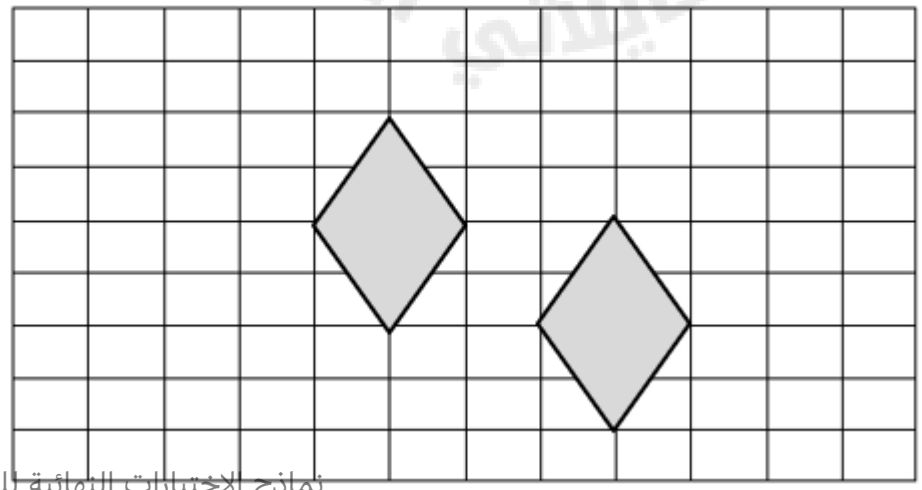	[٢]	درجتين: الرسم في مكانه الصحيح. درجة: اذا ازاح الشكل إلى جهة واحدة فقط

دليل التصحيح امتحان مادة الرياضيات للصف الخامس - التجريبي – الفصل الدراسي الأول للعام الدراسي ١٤٤٦هـ - ٢٠٢٤ / ٢٠٢٥م

يتبع/ ٥

رقم المفردة	هدف التقويم	مستوى الصعوبة	الهدف التعليمي	الصفحة	الاجابة	الدرجة	الارشادات
١٩	AO٢	M	(١-٢)	١٤	٠ أو ١ أو ٢ أو ٣ أو ٤	[١]	تقبل أي إجابة صحيحة
٢٠	AO٢	M	(١٠-٣)	٥٩	-١٥	[١]	-
٢١	AO٢	M	(٣-٤)	٢٩	٤٠	[١]	-
٢٢	AO٢	M	(١٢-١)	٦٣	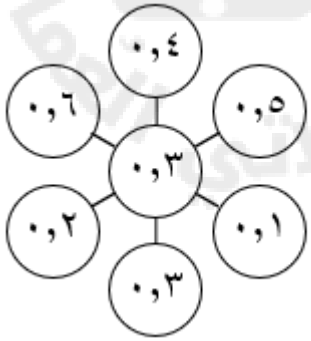	[١]	-

يتبع/ ٦

دليل التصحيح امتحان مادة الرياضيات للصف الخامس - التجريبي – الفصل الدراسي الأول للعام الدراسي ١٤٤٦هـ - ٢٠٢٤ / ٢٠٢٥م

رقم المفردة	هدف التقويم	مستوى الصعوبة	الهدف التعليمي	الصفحة	الاجابة	الدرجة	الارشادات
٢٣	AO٢	M	(٤-٣)	٣٤	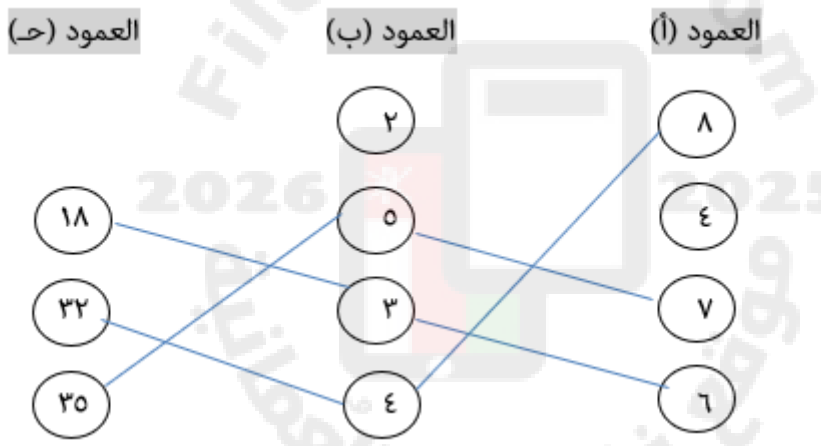	[٢]	يحصل الطالب على درجتين اذا كانت جميع التوصيلات صحيحة درجة اذا تم التوصيل بين عاملين فقط مع الناتج
٢٤	AO٢	H	(١٢-٢)	٦٤	٢٧٠	[١]	
٢٥	AO٢	H	(١٣-١)	٦٩	رقم الأسبوع: ١، ٢، ٣ كتلة الأرز المستخدمة: ١,٥ كغم، ٢ كغم، ٣ كغم كتلة الكيس في نهاية الأسبوع: ٨,٥ كغم، ٦,٥ كغم، ٣,٥ كغم	[١]	درجة: الكميتان صحيحتان. صفر: كمية واحدة صحيحة أو جميع الكميات غير صحيحة.

يتبع/ ٧

دليل التصحيح امتحان مادة الرياضيات للصف الخامس - التجريبي – الفصل الدراسي الأول للعام الدراسي ١٤٤٦هـ - ٢٠٢٤ / ٢٠٢٥م

رقم المفردة	هدف التقويم	مستوى الصعوبة	الهدف التعليمي	الصفحة	الاجابة	الدرجة	الارشادات
٢٦	AO٢	M	(١-٦)	٤٢	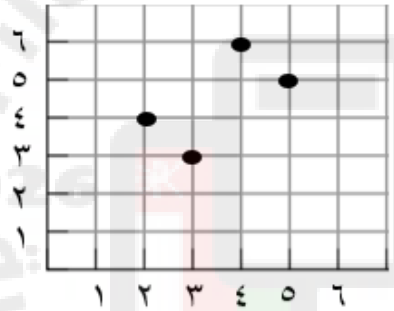	[١]	درجة على تعيين النقطة (٥،٥) ملاحظة: اذا حدد الطالب النقطة (٣، ٧) تعتبر الإجابة صحيحة
٢٧	AO٣	L	(١٣-٢)	٧٠	١٥٧	[١]	-
٢٨	AO٣	L	(٩-٢)	٥٤	٣ سم ٤ سم ٥ سم ٦ سم	[١]	-
٢٩	AO٣	L	(٣-٣)	٢٨	٤٠ ٩ × ٣٢٠ ٧٢ ٨ ٨٠٠ ١٨٠ ٢٠	[٢]	درجتان: جميع الإجابات صحيحة. درجة: اجابتان صحيحتان او إجابة واحدة صحيحة. صفر: جميع الإجابات غير صحيحة

يتبع/ ٨

سلطنة عُمان
وزارة التربية والتعليم
المديرية العامة للتربية والتعليم
محافظة البريمي

دليل التصحيح امتحان مادة الرياضيات للصف الخامس - التجريبي – الفصل الدراسي الأول للعام الدراسي ١٤٤٦هـ - ٢٠٢٤ / ٢٠٢٥م

رقم المفردة	هدف التقويم	مستوى الصعوبة	الهدف التعليمي	الصفحة	الاجابة	الدرجة	الارشادات
٣٠	AO٣	M	(١٠- ١)	٥٧	١,٥ | ٣ | ٦ | ١٢ | ٢٤	[١]	درجة: اجابتان صحيحتان أو إجابة واحدة صحيحة صفر: جميع الإجابات غير صحيحة
٣١	AO٣	M	(١٤- ١)	٧٤	١٨	[١]	
٣٢	AO٣	M	(٣- ١)	٢٣	٢ | ٧ ÷ ٣ = ٢٤	[١]	درجة: جميع الأرقام في مكانها الصحيح
٣٣	AO٣	H	(١٣- ٣)	٧٢	نعم لان اجمالي سعر الأصناف التي اشتراها سامي ١٧,٤٧٥ ريالاً وهي أقل من ٢٠ ريالاً	[١]	درجة على التفسير الصحيح ملاحظة: لا تحسب درجة للإجابة بنعم

تراعي جميع الإجابات الأخرى الصحيحة

لا يوجد نموذج اجابة لهذا الاختبار

المديرية العامة للتربية والتعليم بمحافظة شمال الشرقية
مدرسة مزون للتعليم الأساسي (٥-١٢)

الامتحـان التجريبي لنهاية الفصل الدراسي الأول لمادة: الرياضيات
للصف: الخامس الأساسي

للعام الدراسي ١٤٤٦هـ - ٢٠٢٤/٢٠٢٥م

- زمن الامتحان: ساعة ونصف
- الإجابة في الدفتر نفسه.
- الدرجة الكلية للامتحان: ٤٠ درجة.
- عدد صفحات أسئلة الامتحان: (٧).
- يسمح باستخدام: المسطرة، المنقلة، المثلث القائم، الورق الشفاف.

أقرأ التعليمات الآتية في البداية:

- أجب عن جميع الأسئلة في الفراغ المخصص في ورقة الأسئلة.
- وضح كل خطوات حلك في دفتر الأسئلة.
- درجة كل سؤال أو جزء من السؤال مكتوبة في اليسار بين الحاصرتين [].

إعداد: الأستاذة أصيلة الحارثية
المعلمة الأول رجاء العذوبية.

الصفحة	الدرجة		التوقيع بالاسم	
	بالأرقام	بالحروف	المصحح الأول	المصحح الثاني
١				
٢				
٣				
٤				
٥				
٦				
٧				
٨				
٩				
١٠				
المجموع			جمعه	مراجعة الجمع
المجموع الكلي				

الامتحان التجريبي لنهاية الفصل الدراسي الأول لمادة الرياضيات الصف: الخامس الأساسي
للعام الدراسي ٢٠٢٤/٢٠٢٥م

١)	حوط الإجابة الصحيحة القيمة المكانية للرقم ٥ في العدد ٦٥٧٢ هي ٥ ٥٠ ٥٠٠ ٥٠٠٠	[١]
٢)	أوجد ناتج ما يلي: ٥٠×١٠ = ---------- ٥٠٠٠ ÷ ١٠٠=----------	[١]
٣)	ضع علامة > أو < أو = في المكان المناسب: ١٤٢٢٠ ◯ ١٤٣٢٠ ٦٩٤٠ ◯ ٩٦٠٤	[١]
٤)	صل العبارة بما يناسبها حسب التقريب المطلوب: العبارة تقريبه ٧٣٩٥ لأقرب مائة ٨٠٠٠ ٧٤٠٠ ٧٣٩٥ لأقرب ألف ٧٣٠٠ ٧٠٠٠	[١]
٥)	أكتب نوع المثلث الذي أطوال أضلاعه هي ٥سم – ٥سم – ٣سم: ----------	[١]

الدرجة		٥

يتبع/٢

الامتحان التجريبي لنهاية الفصل الدراسي الأول لمادة الرياضيات الصف: الخامس الأساسي
للعام الدراسي ٢٠٢٤/٢٠٢٥م

٦) رتب الأعداد التالية من الأصغر إلى الأكبر:

-٢ ، ٠ ، ٥ ، -٤

الترتيب

---------- ، ---------- ، ---------- ، ----------

[٢]

٧) أوجد ناتج ما يلي:

٦٧٣٢ + ٦٢٠٥

الناتج ----------

[١]

٨) أكمل المتتالية:

---------، ---------، ٢٥، ٢٨، ---------، ---------

[٢]

٩) حوط على إحداثيات النقطة أ في الشكل المقابل

(١، ٠) (٢، ٢)

(٣، ١) (٤، ٤)

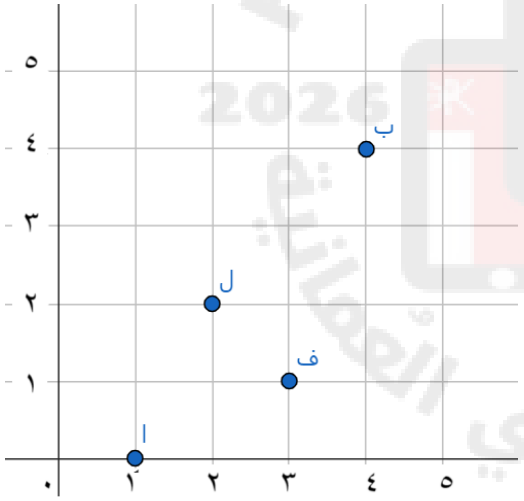

[١]

١٠) أكمل المخطط بالعدد المناسب ليكون مجموعهما ١

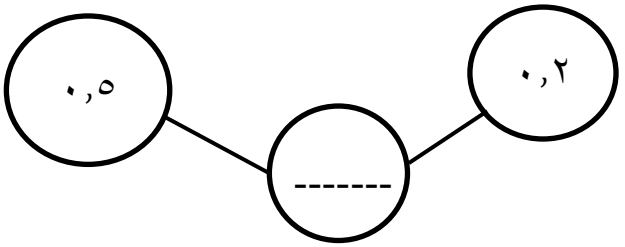

[١]

١١) إذا كانت ٨× ٤ =٣٢ فإن

٨ ×٤٠ = ----------

[١]

الدرجة		٨

يتبع/٣

امتحان تجريبي نهاية الفصل الدراسي الأول لمادة الرياضيات الصف: الخامس الأساسي
للعام الدراسي ٢٠٢٤/٢٠٢٥م

١٢) صف الانسحاب الحاصل للشكل من (أ) الى (ب)

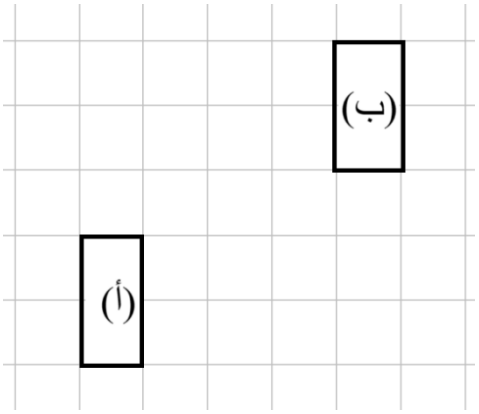

---

[٢]

١٣) أكتب الأعداد الناقصة في المخطط التالي:

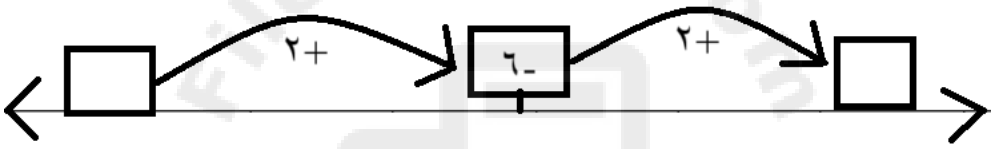

[١]

١٤) ضع (√) في المكان المناسب:

العبارة	صح	خطأ
العدد ٤٥ يقبل القسمة على ٥، ١٠ معا		
العدد ٢٤٠٠ يقبل القسمة على ٢، ٥، ١٠ معا		

[١]

١٥) أكمل الحشرة التالية:

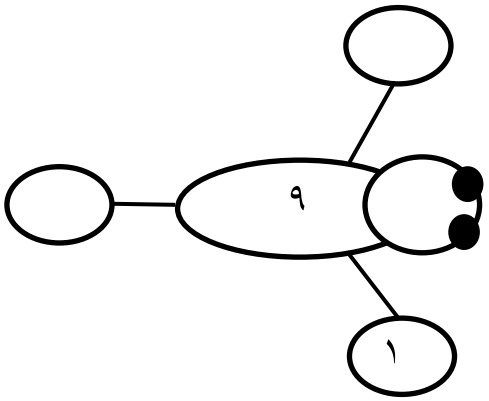

[١]

الدرجة		٥

يتبع/٤

الامتحان التجريبي لنهاية الفصل الدراسي الأول لمادة الرياضيات الصف: الخامس الأساسي
للعام الدراسي ٢٠٢٤/٢٠٢٥م

١٦) أكتب عدد خطوط التماثل تحت كل شكل من الاشكال التالية

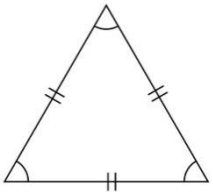

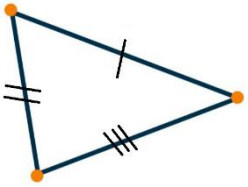

---------- ----------

[١]

١٧) أكتب الوقت الذي تشير إليه الساعات التالية



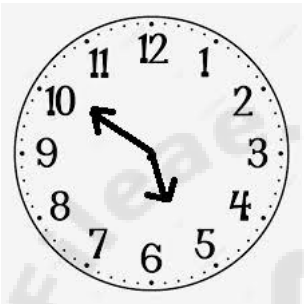

---------- ----------

[٢]

١٨) قرب الإعداد التالية لأقرب عدد كامل

١٥,٢ ----------

٣١,٥ ----------

[١]

١٩) حوط ناتج ٣٥٠ - ١٥١

١٩٩ ٢٠١ ٢١٩ ٥٠١

[١]

٢٠) أكمل الفراغات فيما يلي لتكون العملية صحيحة

×		٥٠
٥	١٠	

الناتج ---------- [٢]

الدرجة		٧

يتبع/٥

امتحان تجريبي نهاية الفصل الدراسي الأول لمادة الرياضيات الصف: الخامس الأساسي
للعام الدراسي ٢٠٢٣/٢٠٢٤م

٢١) ارسم انعكاس الشكل حول خط المرآة

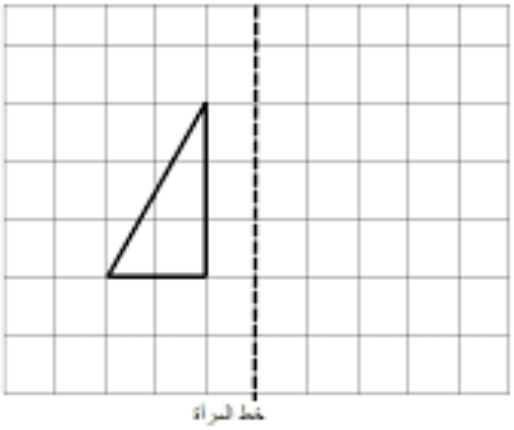

[١]

٢٢) رتب الكتل التالية تنازليا (من الأكبر الى الأصغر)

٥٠٠ غم، ٣٥٠٠ غم، ٥ كغم، ٤,٥ كغم

---------- ، ---------- ، ---------- ، ----------

[٢]

٢٣) صل كل عمود بنصفه في العمود الثاني:

العدد	نصف العدد
٦,٨	١٧,٢
	١٣,٦
٨,٦	٤,٣
	٣,٤

[١]

٢٤) تقول ريم أنه إذا كان محيط شكل خماسي منتظم يساوي ٣٥ سم فإن طول ضلعه يساوي ٨ سم



وضح الخطأ الذي وقعت فيه ريم:

---

[١]

الدرجة		٥

يتبع/٦

الامتحان التجريبي لنهاية الفصل الدراسي الأول لمادة الرياضيات الصف: الخامس الأساسي
للعام الدراسي ٢٠٢٤/٢٠٢٥م

٢٥) يقول مهند

هل ما يقوله مهند صحيح ☐ نعم ☐ لا

أعط أمثله توضح إجابتك:

---

[٢]

٢٦) أكمل ما يلي:

٢٣ ـــــ ٥ = ---------- + ٢٠ + ٤٠٠+----------

[١]

٢٧) حوط طول ضلع المستطيل إذا كانت مساحته تساوي ٨سم^{٢} وعرضه ٢سم:

٢ سم ٤ سم ٨ سم ١٦سم

[١]

٢٨) أكمل

إذا كان ١١ × ٢١ = ١١× ------ + ١١

= ٢٢٠+ ١١

=--------

[١]

٢٩) ذهب ١٢٨ طالبا الى رحلة مدرسية وكان عدد الحافلات المنطلقة ٤ حافلات
أوجد عدد الطلاب في كل حافلة؟

عدد الطلاب=----------

[١]

الدرجة		٦

يتبع/٧

الامتحان التجريبي لنهاية الفصل الدراسي الأول لمادة الرياضيات الصف: الخامس الأساسي
للعام الدراسي ٢٠٢٤/٢٠٢٥م

٣٠)	كيس يحتوي على ٢,٥ كغم من الأرز ما مقدار الأرز الموجود في ستة أكياس؟ مقدار الأرز=----------	[١]
٣١)	استخدم كل بطاقة مره واحدة لإكمال العبارتين: ٦ ٢ ١ -----,٥ > ٢ ,----- ٤,----- < ٤,٢	[١]
٣٢)	أرادت سارة شراء: فستان ب ٦,٢٠٠ريال وحقيبة ب ٦,٨٠٠ ريال وحذاء ب ٨,٢٠٠ حدد الأغراض التي تستطيع سارة شراءها بمبلغ ١٤ ريال. ---------- ----------	[١]
٣٣)	حوط العدد المفقود في الشكل المقابل ٩,٦ + [ ] = ٢٠,٤ ٨,١ ١٠,٨ ١١,٢ ٣٠	[١]

الدرجة		٤

انتهت الأسئلة مع الدعاء للجميع بالتوفيق والنجاح.

سلطنة عُمان
وزارة التربية والتعليم

المديرية العامة للتربية والتعليم بمحافظة مسندم

لا يوجد نموذج
اجابة لهذا الاختبار

اختبار تجريبي لمادة : الرياضيات
للصف: الخامس
للعام الدراسي ٢٠٢٤/٢٠٢٥م

الاسم: ..... **الصف:** .....

- زمن الامتحان: ساعة كاملة
- الإجابة في الدفتر نفسه.
- الدرجة الكلية للامتحان: ٤٠درجة.
- عدد صفحات أسئلة الامتحان: (٦)
- يسمح باستخدام: المسطرة، المنقلة، المثلث القائم، الورق الشفاف.
- **لا يسمح** باستخدام: الآلة الحاسبة.

أقرأ التعليمات الآتية في البداية:

- أجب عن **جميع** الأسئلة في الفراغ المخصص في ورقة الأسئلة.
- وضح **كل** خطوات حلك في دفتر الأسئلة.
- درجة كل سؤال أو جزء من السؤال مكتوبة في اليسار بين الحاصرتين [].

الصفحة	الدرجة		التوقيع بالاسم	
	بالأرقام	بالحروف	المصحح الأول	المصحح الثاني
١	٧			
٢	٦			
٣	٧			
٤	٥			
٥	٨			
٦	٧			
المجموع			جمعه	مراجعة الجمع
المجموع الكلي				

(١)

امتحان تجريبي الفصل الدراسي الأول لمادة الرياضيات الصف: الخامس للعام الدراسي ٢٠٢٤/٢٠٢٥م

١)	**حوط** ناتج تقريب العدد٥٤٣٢ لأقرب مائة ٥٤٣٢ ٥٤٠٠ ٥٥٠٠ ٥٤٣٠	[١]
٢)	**حوط** ناتج تحويل الساعة (١٥:٣٠) من نظام ٢٤ ساعة إلى نظام ١٢ ساعة ١١:٣٠ ص ٣:٣٠ ص ١١:٣٠ م ٣:٣٠ م	[١]
٣)	**حوط** القيمة المكانية للرقم ٥ في العدد ٦٣٥٤١ ٥٠ ٥٠٠ ٥٠٠٠ ٥٠٠٠٠	[١]
٤)	**أكمل** المتتالية التالية : ٢ ، ٤ ، ٦ ، ..... ،	[٢]
٥)	**أوجد** ناتج طرح : ٦٧٨ - ٣٢٤ = ...	[١]
٦)	**حوط** على ناتج ضرب : ٥٢ × ١٠٠ ٥٢ ٥٢٠ ٥٢٠٠ ٥٢٠٠٠	[١]
	الدرجة ٧ يتبع/٢	

٧) **احسب** ناتج :

٣٤٥ + ٥١٢ = ...

[١]

٨) تريد مريم ترتيب ٣١ كتابا في رفوف المكتبة ، يتسع الرف الواحد لـ ٥ كتب
احسب عدد الرفوف التي ستحتاجها لترتيب جميع الكتب

[٢]

٩) احداثيات النقطة **ع** = (.... ، ....)

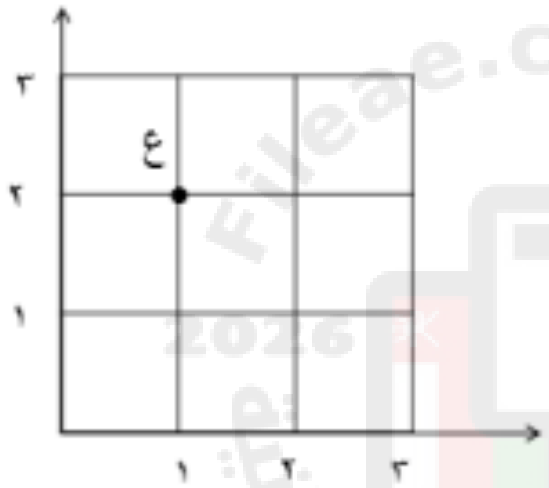

[١]

١٠) مستطيل طوله ٦ سم وعرضه ٤ سم **فإن مساحته تساوى** .....

[١]

١١) لدى فاطمة ٦ صناديق في كل صندوق يوجد ١٢ برتقالة

كم عدد البرتقال في جميع الصناديق ؟

خطوات الحل :

[١]

الدرجة		٦	يتبع/٣

١٢) **اكتب** عدد يقبل القسمة على ٥ و ١٠ **معا**

..... [١]

١٣) يتكون منزل محمد من ٣ طوابق ارتفاع كل طابق ٣,٢ متر
احسب ارتفاع المنزل.

[١]

١٤) تكون فاطمة متتالية وفق قاعدة اطرح ٢ في كل مرة
أكمل المتتالية:

٥ ، ..... ، ..... [١]

١٥) **ناتج** تحويل كيس كتلته ٤٥٠٠غم إلى كغم هو.....

٤ كغم ٤,٥ كغم ٤٥ كغم ٥٠ كغم [١]

١٦) **حوط** الاجابة الصحيحة للعملية الحسابية:

٣٩,٤ – ٢٥,٢ = ...

١٣,٥ ١٤,٢ ١٤,٥ ٦٤,٣ [١]

١٧) لديك الكتل التالية :

٠,٣٧٧ كغم ، ٢٠٠ غم ، ٢٥٠ غم ، ٣ كغم

رتب الكتل السابقة من الأثقل إلى الأخف

الأثقل الأخف [١]

١٨) عبوة تحتوي على ١,٥ كغم من الأرز
كم كيلوغرام من الأرز توجد في ٥عبوات ؟

[١]

الدرجة		٧

يتبع/٤

١٩) تقول هند:

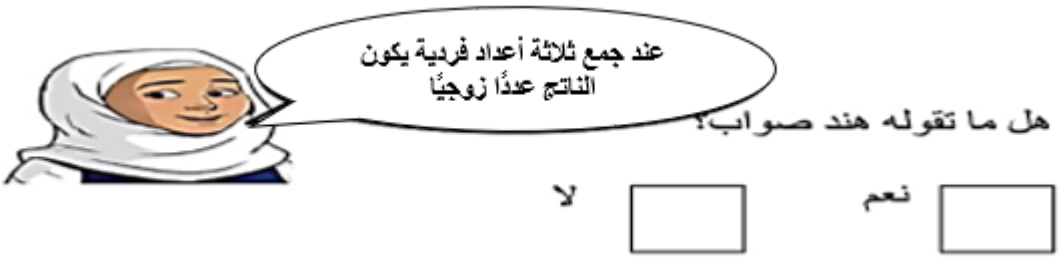

اعط مثالا يوضح إجابتك

.....

[٢]

٢٠) **قياس** الزاوية (أ) الموضحة بالرسم تساوي ..... °

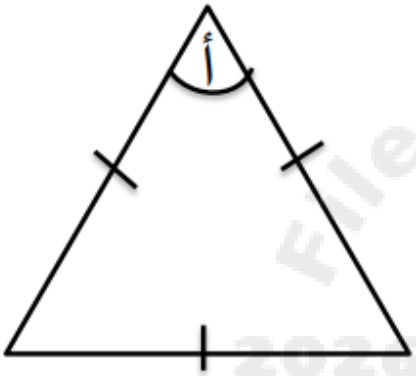

[١]

٢١) **حوط** الشكل الذي يكون مكعبا مغلقا.

[١]

٢٢) عندما وصل سالم إلى المدرسة نظر في ساعة يده وكانت كما هو موضح بالشكل.
اكتب الوقت الذي وصل فيه سالم إلى المدرسة بنظام ال ١٢ ساعة

[١]

الدرجة		٥	يتبع/٥

٢٣) إذا كانت درجة الحرارة ٥٦°، وانخفضت بمقدار ٨ درجات سيليزية.
أوجد درجة الحرارة الجديدة.

[١]

٢٤) **أوجد** العدد المفقود

٣,٧ + ☐ = ١٠

[١]

٢٥) **اكمل** الفراغات :

	٣	٤ ,	٧	٢
+		٢ ٨ ,	٥	☐
	٦	☐ ,	٣	١

[٢]

٢٦) **حوط** على عدد مربع من مضاعفات العدد ٣ وأصغر من ٢٥

٦ ٩ ١٦ ٣٦

[١]

٢٧) **ضع** هذه الأعداد في مخطط فن.

٧٧٨ ١٢٤٥ ٤٥٠٠ ١٠

يقبل القسمة على ٢ يقبل القسمة على ٥

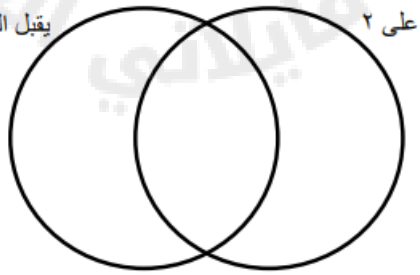

[٢]

٢٨) انظر إلى ساعة العقارب **وحوط** على الوقت الصحيح :

٧:٥٠ ٨:١٠ ٨:٥٠ ١٠:٤٠

[١]

الدرجة		٨	يتبع/٦

٢٩) حوط جميع عوامل العدد ١٦

٢ ٦ ٨ ١٢ ١٦ [١]

٣٠) لديك البطاقات التالية: ٧ ٩ ٥

استخدم البطاقة المناسبة من البطاقات السابقة مرة واحدة فقط لجعل العبارة التالية صحيحة:

٦ ، ☐ < ☐ ، ٨ [١]

٣١) **رتب** الأسعار حسب قيمتها من الأصغر إلى الأكبر

٦٥ ريال ٦,٥٠٠ ريال ٦٠,٥٠٠ ريال ٦٠,٠٥٠ ريال

الترتيب هو : .....،.....،.....،..... [١]

٣٢) استخدم سالم شبكة الضرب المقابلة لإيجاد ناتج ضرب عددين.

×		
	١٥	١٠٠
	٩٠	٦٠٠

١٠٥ + ٧٠٠ = ٨٠٥

اكتب العددان الذي أوجد سالم ناتج ضربهما.

العددان هما: .....،..... [٢]

٣٣) يتكون الشكل المقابل من ٥ خطوط مستقيمة ،
اكمل العبارات التالية:

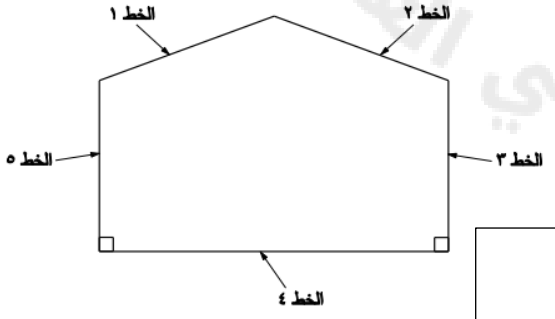

الخط ..... والخط..... متوازيان

الخط ٥ عمودي على الخط.....

[٢]

الدرجة		٧	انتهت الأسئلة