اختبار قصير ثاني من أكاديمية همم التعليمية

تم تحميل هذا الملف من موقع المناهج العمانية

موقع فايلاتي ⇦ المناهج العمانية ⇦ الصف السادس ⇦ علوم ⇦ الفصل الأول ⇦ ملفات متنوعة ⇦ الملف

تاريخ إضافة الملف على موقع المناهج: 13-11-2025 09:15:18

المزيد من مادة علوم:

ملفات ا كتب للمعلم ا كتب للطالب ا اختبارات الكترونية ا اختبارات ا حلول ا عروض بوربوينت ا أوراق عمل منهج انجليزي ا ملخصات وتقارير ا مذكرات وبنوك ا الامتحان النهائي ا للمدرس

إعداد: أحمد الشبيبي

التواصل الاجتماعي بحسب الصف السادس

صفحة المناهج العمانية على فيسبوك

المزيد من الملفات بحسب الصف السادس والمادة علوم في الفصل الأول

1	خرائط ذهنية للوحدة الثانية الكائنات الحية في البيئة
2	أسئلة إثرائية في الوحدة الثانية الكائنات الحية في البيئة
3	تجميع اختبارات قصيرة ثانية سابقة
4	تجميع اختبارات علوم
5	كراسة المحترف في العلوم

اختبار قصير ثاني

مادة الرياضيات

الفصل الدراسي الأول

+968 91188330
ahmed_alshabibii
أ. أحمد الشبيبي

6

إصدار ٢٠٢٥ - ٢٠٢٦

سلطنة عُمان
وزارة التربية والتعليم

اختبار قصير (٢) للصف السادس – الفصل الدراسي الأول

للعام الدراسي ٢٠٢٥/٢٠٢٦ م

نموذج (١)

$\frac{\quad}{١٠}$

اسم الطالب / ة: ..... الصف: سادس/ .....

رقم المفردة	المفردة	الدرجة
(١)	حوط الفترة الزمنية بين الساعة ١١:٣٠ ص و ٢:١٠ م ☐ ساعتان و ٤٠ دقيقة ☐ ٣ ساعات و ٢٠ دقيقة ☐ساعتان ٢٠ دقيقة ☐ ٩ ساعات و ٢٠ دقيقة	[١]
(٢)	حدد بالعلامة (✓) المربع الصحيح بجانب كل عبارة. العبارة | صح | خطأ توجد ١٢ ساعة في اليوم. | | توجد ١٨٠٠ ثانية في نصف ساعة. | |	[٢]
(٣)	أكمل: الشكل المقابل يمثل شبكة مجسم _____ 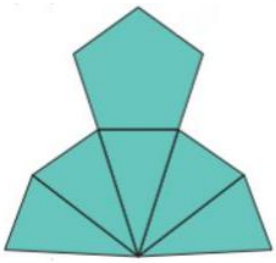	[١]
(٤)	اكتب قياس الزاوية ع 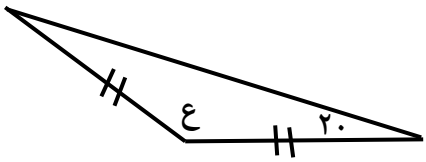	[٢]

(٥) يفكر حمد في شكل ثلاثي الأبعاد .

اكتب اسم الشكل ثلاثي الأبعاد الذي يفكر فيه حمد.

الإجابة : _____ [١]

(٦) حوط الشكل الذي لا يمثل مضلع.

[١]

(٧) مساحة المستطيل **أ** هو ٢٤ سم^{٢} ، أوجد مساحة المنطقة المظللة.

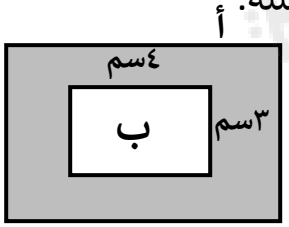

[٢]

انتهت الأسئلة .....

إعداد: أ. أحمد الشبيبي

أكاديمية همم التعليمية
Himam Education Academy