اختبار قصير ثاني من أكاديمية همم التعليمية

تم تحميل هذا الملف من موقع المناهج العمانية	
موقع فايلاتي ⇦ المناهج العمانية ⇦ الصف السادس ⇦ علوم ⇦ الفصل الأول ⇦ ملفات متنوعة ⇦ الملف	
تاريخ إضافة الملف على موقع المناهج: 13-11-2025 09:18:08	
ملفات ا كتب للمعلم ا كتب للطالب ا اختبارات الكترونية ا اختبارات ا حلول ا عروض بوربوينت ا أوراق عمل منهج انجليزي ا ملخصات وتقارير ا مذكرات وبنوك ا الامتحان النهائي ا للمدرس	المزيد من مادة علوم:

التواصل الاجتماعي بحسب الصف السادس					
صفحة المناهج العمانية على فيسبوك					

المزيد من الملفات بحسب الصف السادس والمادة علوم في الفصل الأول	
اختبار قصير ثاني نموذج (1)من أكاديمية همم التعليمية	1
خرائط ذهنية للوحدة الثانية الكائنات الحية في البيئة	2
أسئلة إثرائية في الوحدة الثانية الكائنات الحية في البيئة	3
تجميع اختبارات قصيرة ثانية سابقة	4
تجميع اختبارات علوم	5

نموذج اجابة اختبار قصير ثاني

مادة الرياضيات

الفصل الدراسي الأول

+968 91188330
ahmed_alshabibii
أ. أحمد الشبيبي

6

إصدار ٢٠٢٥ - ٢٠٢٦

سلطنة عُمان
وزارة التربية والتعليم

اختبار قصير (٢) للصف السادس – الفصل الدراسي الأول

للعام الدراسي ٢٠٢٥/٢٠٢٦ م

نموذج (١)

$\frac{}{١٠}$

اسم الطالب / ة: ..... الصف: سادس/ .....

رقم المفردة	المفردة	الدرجة
(١)	حوط الفترة الزمنية بين الساعة ١١:٣٠ ص و ٢:١٠ م ☐ ساعتان و ٤٠ دقيقة ☐ ٣ ساعات و ٢٠ دقيقة ☐ ساعتان ٢٠ دقيقة ☐ ٩ ساعات و ٢٠ دقيقة	[١]
(٢)	حدد بالعلامة (✓) المربع الصحيح بجانب كل عبارة. العبارة | صح | خطأ توجد ١٢ ساعة في اليوم. | | ✓ توجد ١٨٠٠ ثانية في نصف ساعة. | ✓ |	[٢]
(٣)	أكمل: الشكل المقابل يمثل شبكة مجسم هرم خماسي 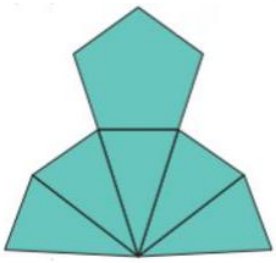	[١]
(٤)	اكتب قياس الزاوية ع 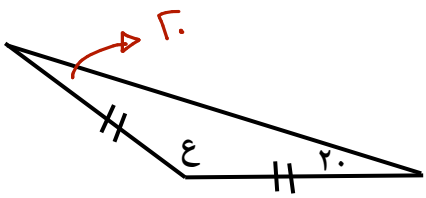 ٢٠° + ٢٠° = ٤٠° ع = ١٨٠° − ٤٠° = ١٤٠° ع = ١٤٠°	[٢]

(٥) يفكر حمد في شكل ثلاثي الأبعاد .

اكتب اسم الشكل ثلاثي الأبعاد الذي يفكر فيه حمد.

الإجابة : هرم رباعي

[١]

(٦) حوط الشكل الذي لا يمثل مضلع.

[١]

(٧) مساحة المستطيل أ هو ٢٤ سم^{٢} ، أوجد مساحة المنطقة المظللة.

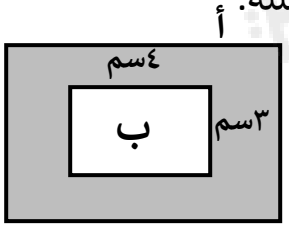

مساحة (ب) = ٣ × ٤ = ١٢ سم^{٢}

مساحة المنطقة المظللة = مساحة (أ) − مساحة (ب)

= ٢٤ − ١٢ = ١٢ سم^{٢}

[٢]

انتهت الأسئلة .....

إعداد: أ. أحمد الشبيبي

أكاديمية همم التعليمية
Himam Education Academy