إجابات أسئلة الاختبار القصير الثاني نموذج (2) من أكاديمية همم التعليمية

تم تحميل هذا الملف من موقع المناهج العمانية

موقع فايلاتي ⇦ المناهج العمانية ⇦ الصف السادس ⇦ رياضيات ⇦ الفصل الأول ⇦ ملفات متنوعة ⇦ الملف

تاريخ إضافة الملف على موقع المناهج: 13-11-2025 09:30:43

المزيد من مادة رياضيات: ملفات ا كتب للمعلم ا كتب للطالب ا اختبارات الكترونية ا اختبارات ا حلول ا عروض بوربوينت ا أوراق عمل منهج انجليزي ا ملخصات وتقارير ا مذكرات وبنوك ا الامتحان النهائي ا للمدرس

إعداد: أحمد الشبيبي

التواصل الاجتماعي بحسب الصف السادس

صفحة المناهج العمانية على فيسبوك

المزيد من الملفات بحسب الصف السادس والمادة رياضيات في الفصل الأول

1	اختبار قصير ثاني نموذج (2) من أكاديمية همم التعليمية
2	إجابات أسئلة الاختبار القصير الثاني نموذج (1) من أكاديمية همم التعليمية
3	اختبار قصير ثاني نموذج (1)من أكاديمية همم التعليمية
4	اختبار قصير ثاني نموذج 3 مع الحلول
5	اختبار قصير ثاني نموذج 2 مع الحلول

سلطنة عُمان
وزارة التربية والتعليم

اختبار قصير (٢) للصف السادس – الفصل الدراسي الأول

للعام الدراسي ٢٠٢٥/٢٠٢٦ م

نموذج (2)

١٠

اسم الطالب / ة: ..... الصف: سادس/ .....

رقم المفردة	المفردة	الدرجة
(١)	حوط حرف الشكل الذي يمثل انسحابًا 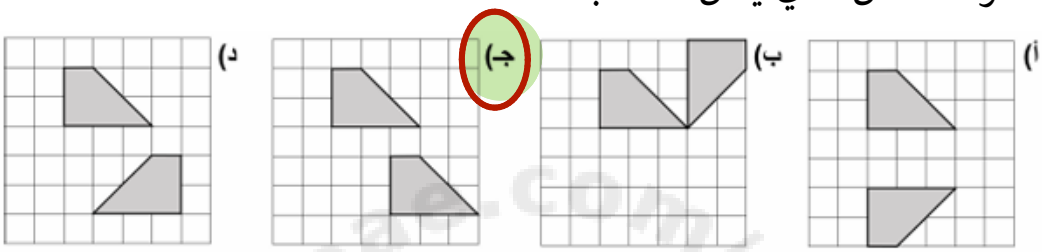	[١]
(٢)	رتب الأعداد التالية من الأصغر إلى الأكبر ١,٠٦٦ ١,٦٦٠ ١,٦٠٦ ١,٠٦٠ ١,٠٦ ، ١,٠٦٦ ، ١,٦٠٦ ، ١,٦٦	[٢]
(٣)	استخدم المصريون القدماء الرموز التلية للتعبير عن الأعداد أكتب العدد الذي يرمز له بالرموز التالية بالأرقام. الإجابة : ٢١٠٥	[١]

(٤)	يعرض المخطط خط مرآة وثلاثة مربعات على شبكة الإحداثيات 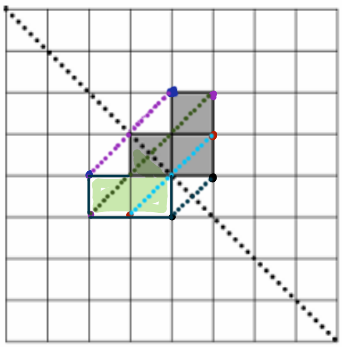 ارسم مربعين إضافيين لجعل الخط متماثلًا حول خط المرآة.	[٢]
(٥)	من الشكل المقابل: اكتب رقم الشكل الذي يمثل دوران الشكل (١) المظلل بزاوية ٩٠ ° مع عقارب الساعة رقم الشكل هو (٤) 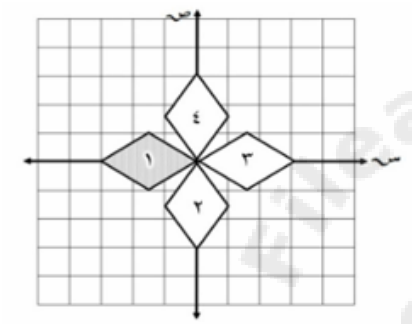 	[١]
(٦)	أوجد محيط الشكل المقابل : 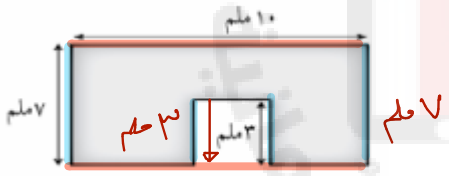 ٣+٣+٧+٧+١٠+١٠ المحيط : ٤٠ ملم	[٢]
(٧)	حوط كتلة كل طالب ، إذا كان كتلة ١٠ طلاب ٦٦٥,٥ كغم. ٦٦٥٥ ٦٦٥,٥ ٦٦,٥٥ ٦,٦٥٥	[١]

انتهت الأسئلة .....

إعداد: أ. أحمد الشبيبي

أكاديمية همم التعليمية
Himam Education Academy