تمارين على درس الزوايا وتقديرها

تم تحميل هذا الملف من موقع المناهج العمانية
موقع فايلاتي ⇦ المناهج العمانية ⇦ الصف السابع ⇦ رياضيات ⇦ الفصل الأول ⇦ ملفات متنوعة ⇦ الملف
تاريخ إضافة الملف على موقع المناهج: 18-11-2025 09:14:40

المزيد من مادة رياضيات:	ملفات ا كتب للمعلم ا كتب للطالب ا اختبارات الكترونية ا اختبارات ا حلول ا عروض بوربوينت ا أوراق عمل منهج انجليزي ا ملخصات وتقارير ا مذكرات وبنوك ا الامتحان النهائي ا للمدرس

التواصل الاجتماعي بحسب الصف السابع					
صفحة المناهج العمانية على فيسبوك					

المزيد من الملفات بحسب الصف السابع والمادة رياضيات في الفصل الأول	
1	عرض بوربوينت لدرس تبسيط الكسور
2	عرض بوربوينت لدرس مقارنة الكسور
3	عرض بوربوينت لدرس الكسور الاعتيادية والأعداد الكسرية
4	عرض بوربوينت لدرس جمع الكسور وطرحها
5	عرض بوربوينت لدرس حساب الباقي

أوجد الكلمة السرية بإيجاد الزاوية المجهولة ● على الجانب الأيمن من الصندوق حرف أكتب الحروف حسب الإجابات

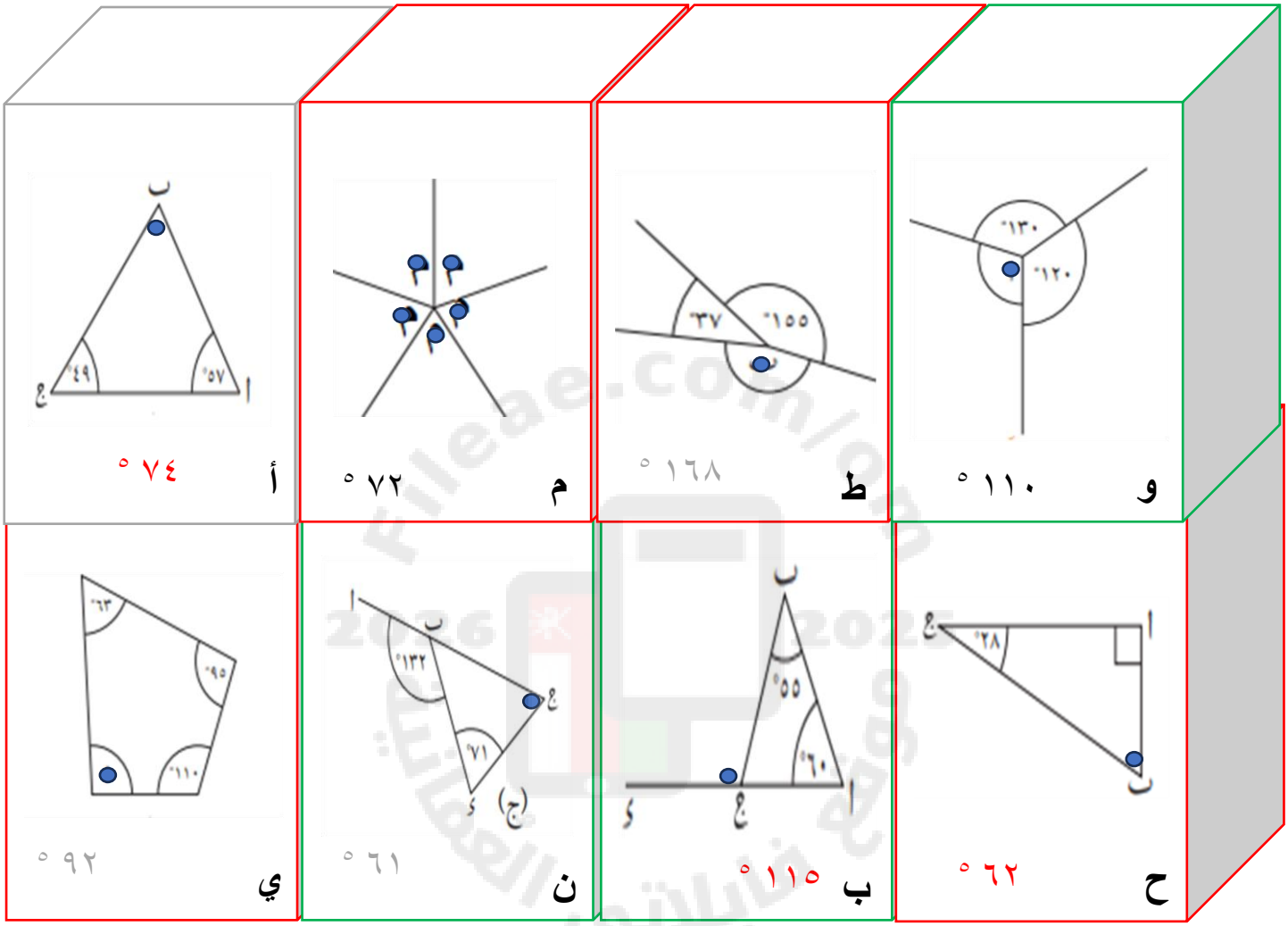

أ	ح	ب	م	و	ط	ن	ي
٧٤ °	٦٢ °	١١٥ °	٧٢ °	١١٠ °	١٦٨ °	٦١ °	٩٢ °

أكتب الكلمة أحب موطني

أوجد الكلمة السرية بإيجاد الزاوية المجهولة● على الجانب الأيمن من الصندوق حرف أكتب الحروف حسب الإجابات

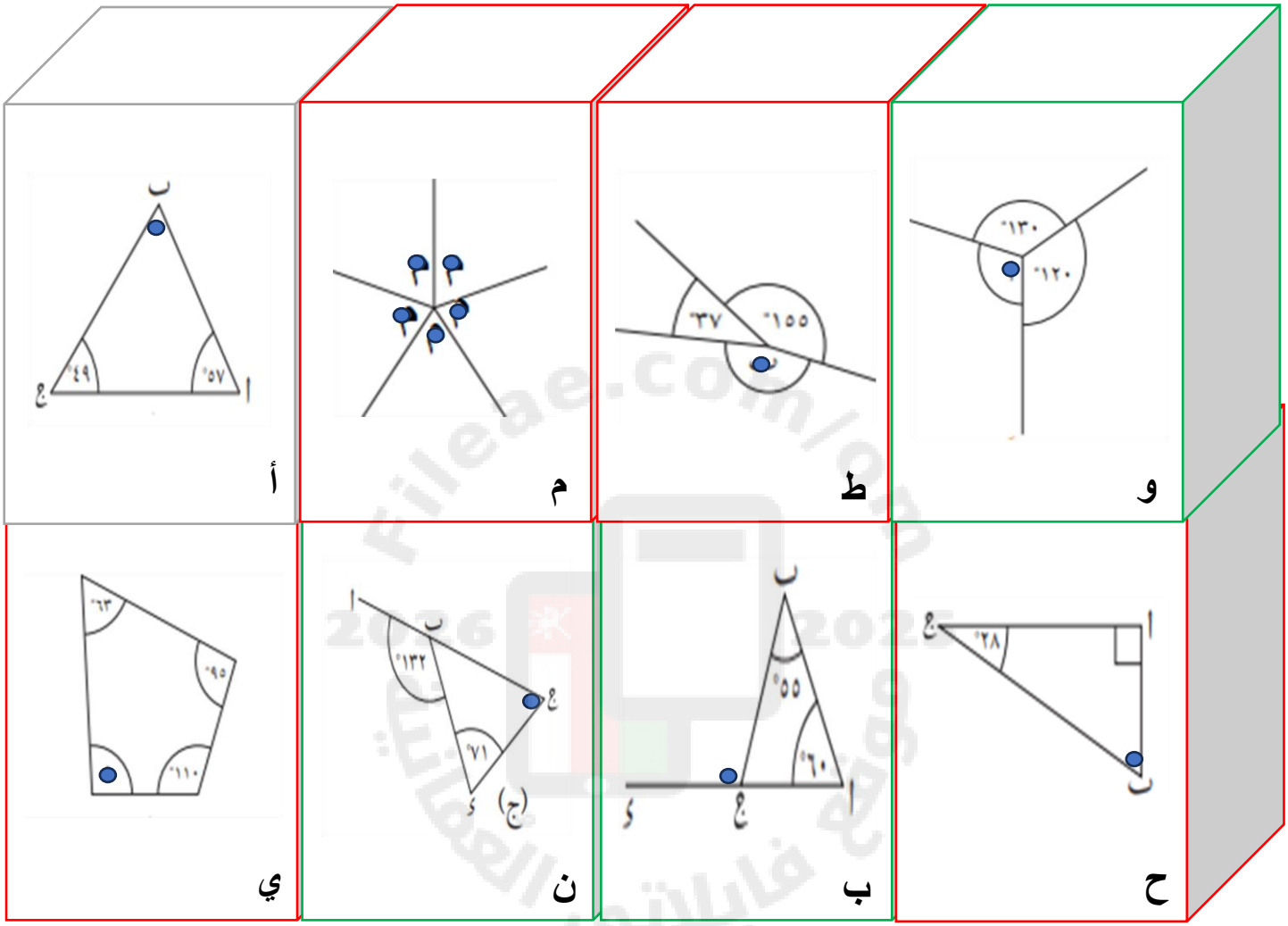

٥ ٧٤ ٥ ٦٢ ٥ ١١٥ ٥ ٧٢ ٥ ١١٠ ٥ ١٦٨ ٥ ٦١ ٥ ٩٢

أكتب الكلمة .....

أوجد الكلمة السرية بإيجاد الزاوية المجهولة● على الجانب الأيمن من الصندوق حرف أكتب الحروف حسب الإجابات

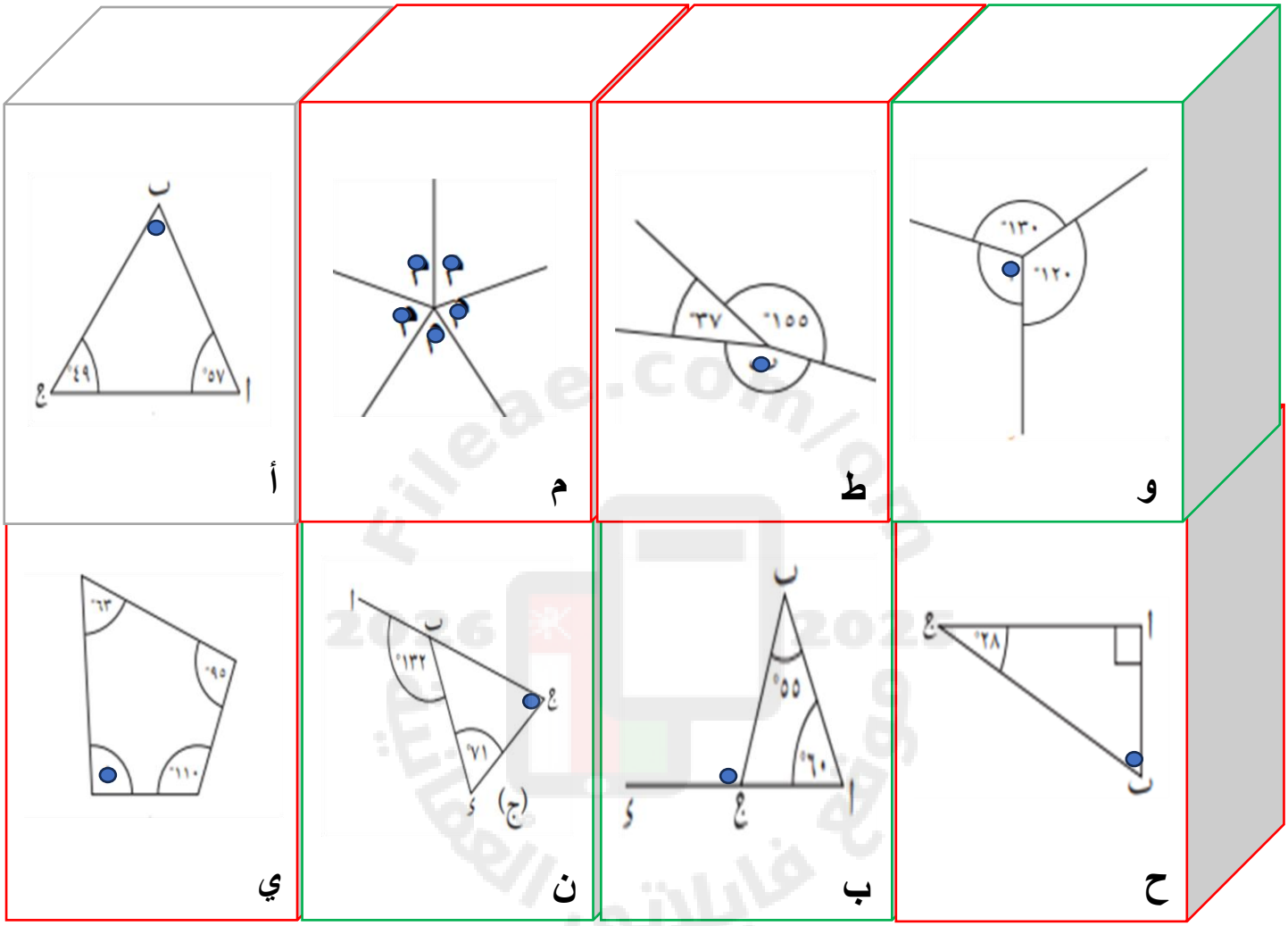

٥ ٩٢ ٥ ٦١ ٥ ١٦٨ ٥ ١١٠ ٥ ٧٢ ٥ ١١٥ ٥ ٦٢ ٥ ٧٤

أكتب الكلمة .....

اخرج من المتاهة وذلك بحساب قياسات الزوايا المشار لها بالرموز

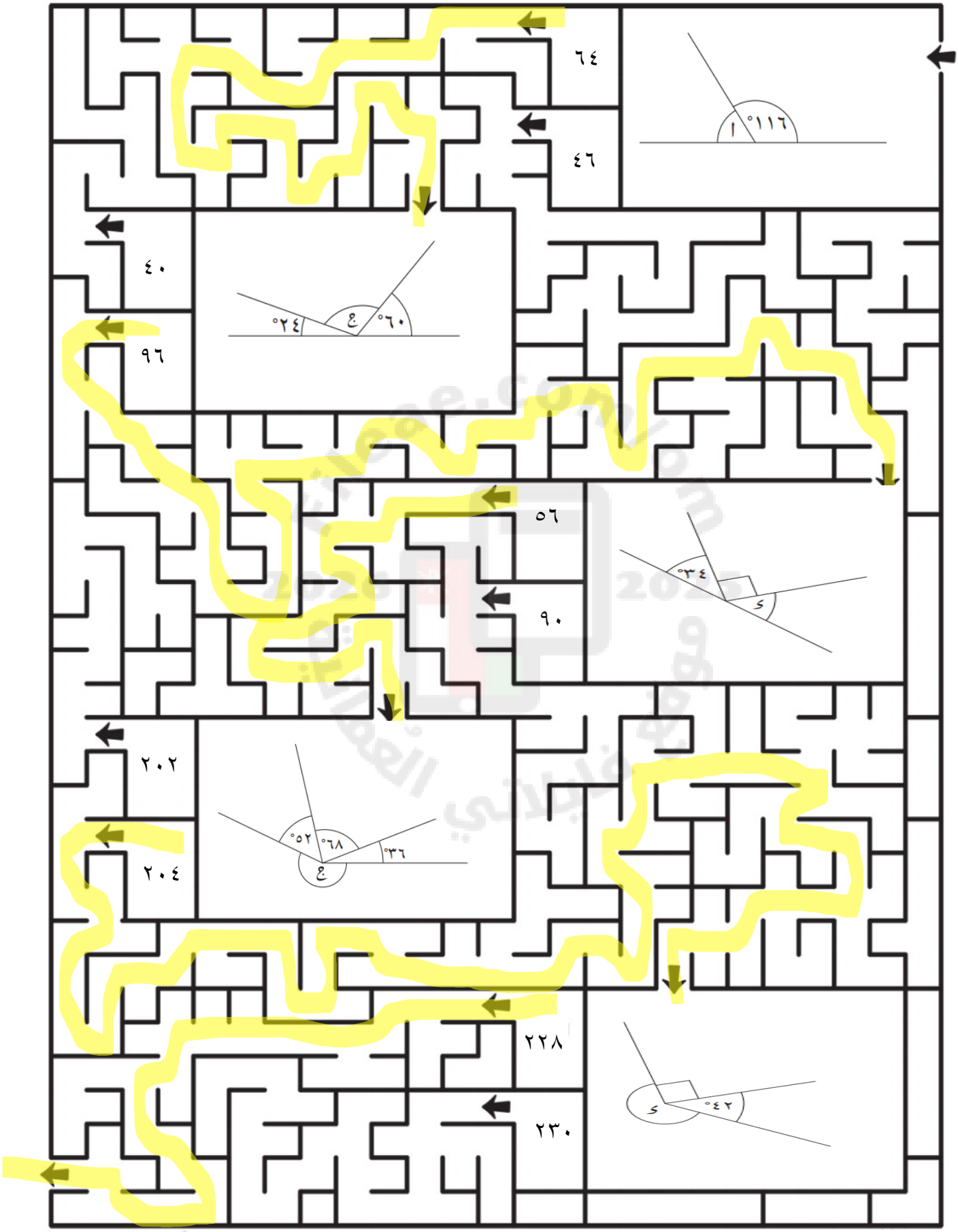

اخرج من المتاهة وذلك بحساب قياسات الزوايا المشار لها بالرموز

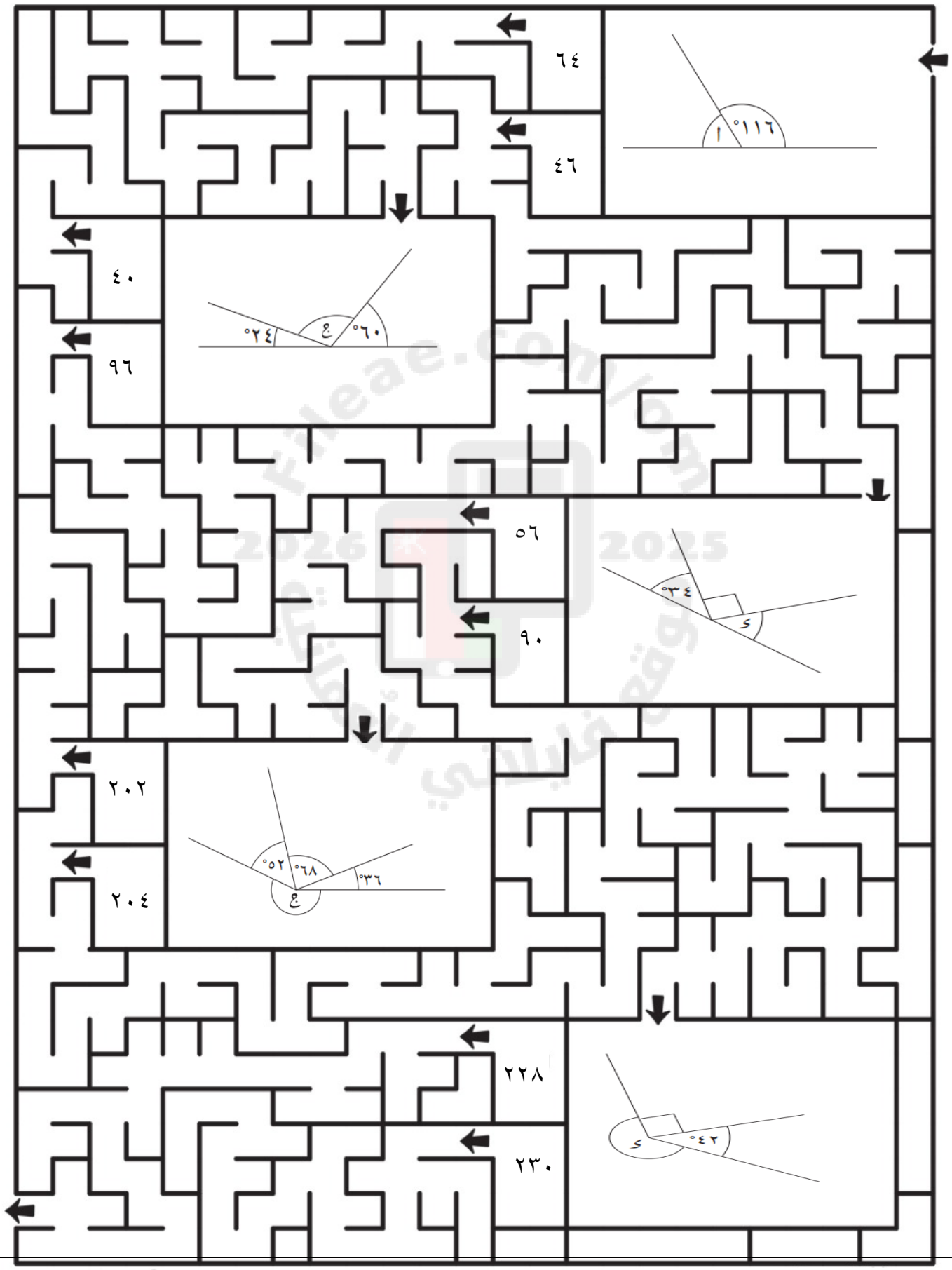

اخرج من المتاهة وذلك بحساب قياسات الزوايا المشار لها بالرموز

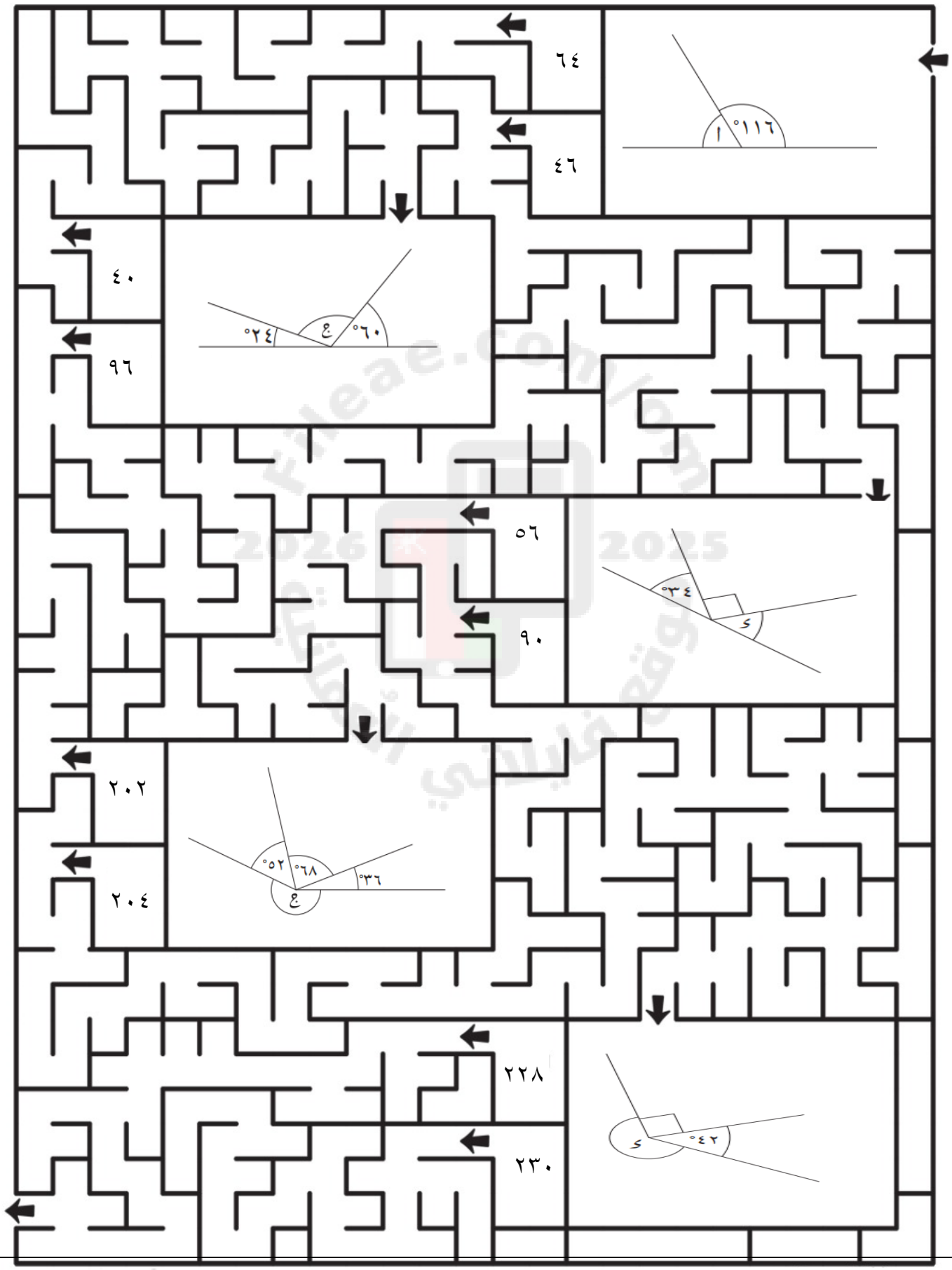

اخرج من المتاهة وذلك بحساب قياسات الزوايا المشار لها بالرموز

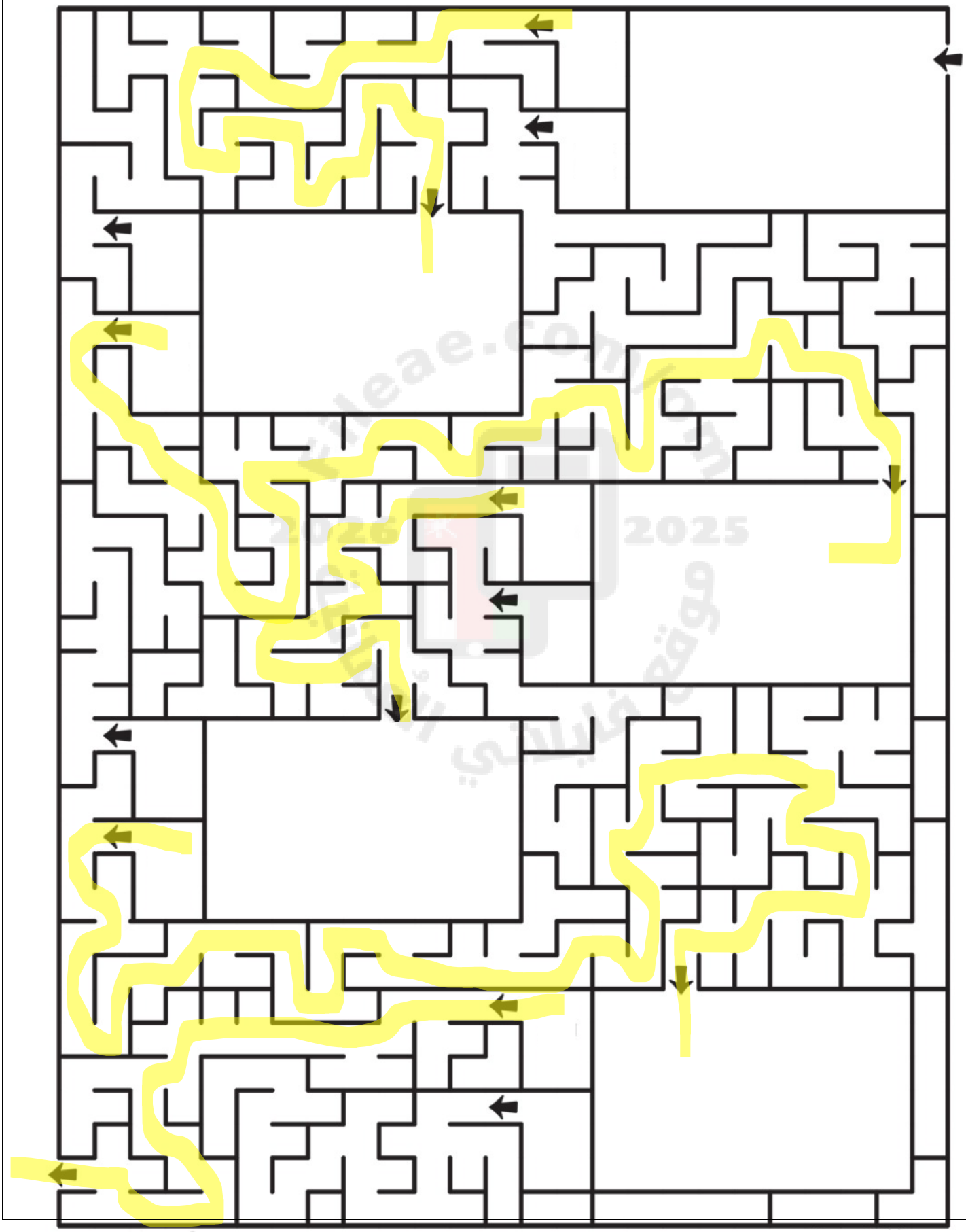

Fileae.com
2026
2025

جد الزاوية المتبقية للمثلث وقص الإجابة المناسبة وضعها تحت الشعار

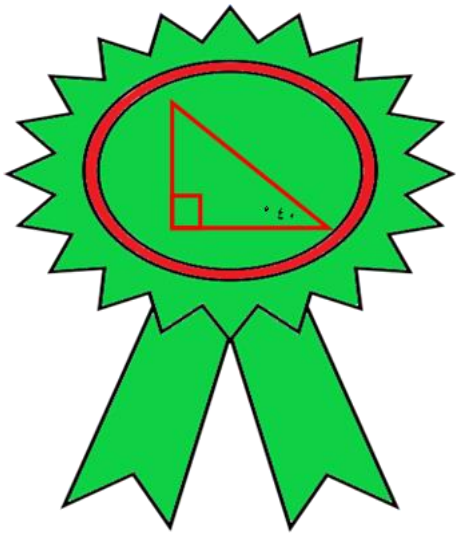





٥٠°

٣٥°

٦٠°





١٠°

٤٠°

٢٠°

جد الزاوية المتبقية للمثلث وقص الإجابة المناسبة وضعها تحت الشعار

Fileae.com/om
2026 2025

جد الزاوية المتبقية للمثلث وقص الإجابة المناسبة وضعها تحت الشعار

٣٥°

٦٠°

٥٠°

٢٠°

١٠°

٤٠°

Fileae.com/om
2026 2025
موقع فايلاتي العمانية